الامتحان 2022

معاك
Ma3ak App

التطبيق التفاعلى
للتعلُّم عن بُعد

التاريخ

الصف 1 الثانوى

الفصل الدراسى الأول

محتويات الكتاب

الوحدة 3

حضارة بلاد العراق القديم وحضارة فينيقيا.

الدرس الأول	حضارة بلاد العراق القديم.
الدرس الثانى	حضارة فينيقيا.

الوحدة 4

حضارة اليونان وحضارة الرومان.

الدرس الأول	الحضارة اليونانية «الإغريقية» رائدة الفكر والثقافة الغربية.
الدرس الثانى	مصر تحت حكم البطالمة.
الدرس الثالث	الحضارة الرومانية.
الدرس الرابع	مصر تحت حكم الرومان.

أسئلة استرشادية (من الكتاب المدرسى).

امتحانات نهاية الفصل الدراسى الثانى.

إرشادات للإجابة.

الوحدة

3

حضارة بلاد العراق القديم وحضارة فينيقيا

الدرس الأول حضارة بلاد العراق القديم.

الدرس الثانى حضارة فينيقيا.

للتدريب على حل الامتحانات **إلكترونيًا** استخدم **QR Code** الموجود بجوار كل امتحان

- **أسئلة** على كل درس وفقًا للمعايير الجديدة.
- **امتحان تراكمى** بعد كل درس.
- **بنك أسئلة** على الوحدة الثالثة.

الدرس الأول

حضارة بلاد العراق القديم

أهداف الدرس :

فى نهاية الدرس يتوقع أن يكون الطالب قادرًا على أن :

- يحدد الخصائص الرئيسة لحضارة بلاد العراق القديم.
- يفسر أسباب ازدهار حضارة بلاد العراق القديم.
- يحدد على خريطة زمنية العصور التاريخية المختلفة لبلاد العراق القديم.
- يحلل أهم المظاهر السياسية والاقتصادية والاجتماعية لحضارة بلاد العراق القديم.
- يستخلص الدروس المستفادة من سقوط دولة بابل الثانية.
- يقدر دور حمورابى فى تطور نظام الحكم فى حضارة بلاد العراق القديم.
- يجمع معلومات تاريخية ذات الصلة بحضارة بلاد العراق القديم.
- يكتب تقريرًا عن أهم معالم حضارة بلاد العراق القديم.
- يقدر دور حضارة بلاد العراق القديم بالنسبة للحضارات الأخرى.

القضايا المتضمنة :

- التواصل الحضارى.
- حقوق الإنسان.
- القانون الدولى الإنسانى.
- حقوق المرأة.

فى هـذا الدرس نتعـرف

تاريخ بلاد العراق القديم

مظاهر حضارة بلاد العراق القديم والتواصل الحضارى بين مصر وبلاد العراق القديم

* **بلاد العراق القديم (بلاد ما بين النهرين) اسم يطلق على :**

الأرض الخصبة الواقعة بين نهرى دجلة والفرات وتتألف من سهل منبسط فى الجنوب يرتفع تدريجيًا نحو الشمال، وبها قامت مدن عريقة كونت حضارة لا تقل أهمية عن الحضارة المصرية القديمة، وذلك لتشابه الظروف بينهما مثل :

- وجود الأنهار والأودية الخصبة التى ساعدت على قيام الزراعة والاستقرار.
- الموقع المتميز الذى ساعد على التواصل الحضارى مع الدول المجاورة.

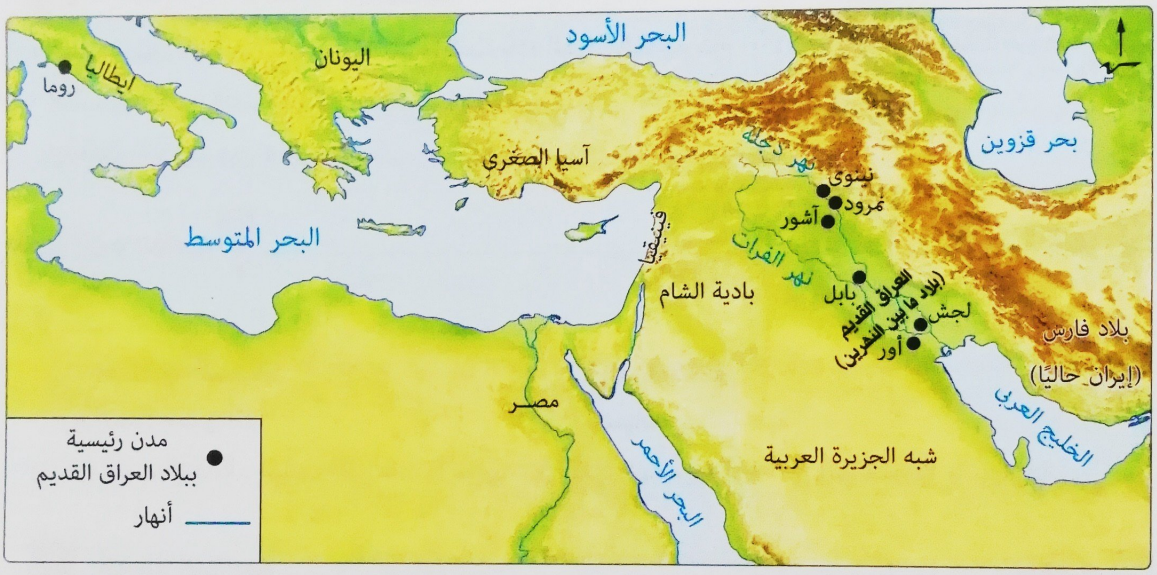

تاريخ بلاد العراق القديم

انقسم إلى حقب تاريخية رئيسية :

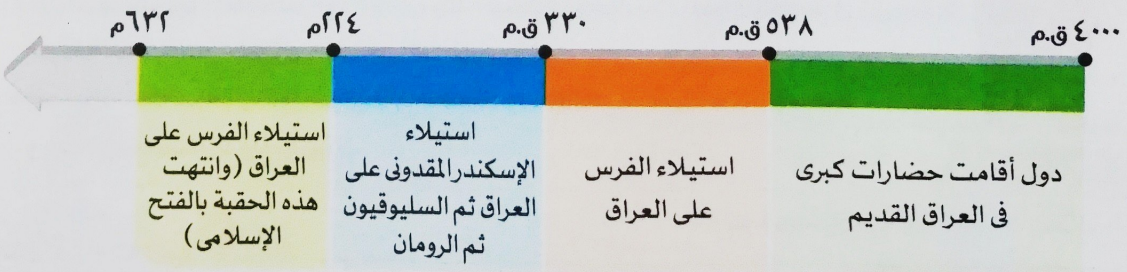

سؤال و جواب

س تعرضت بلاد العراق القديم للاستعمار الغربى لأول مرة على يد .....

(أ) المقدونيين. (ب) الفُرس.

(جـ) الرومان. (د) الفينيقيين.

جـ (أ) **سبب الإجابة :** حيث غزا الإسكندر المقدونى العراق وهزم الفُرس وضمها إلى إمبراطوريته.

أهم دول بلاد العراق القديم (٤٠٠٠ ق.م : ٥٣٨ ق.م)

١ الدويلات السومرية ٤٠٠٠ ق.م
٢ الدولة الأكادية ٢٣٥٠ ق.م
٣ الدولة البابلية القديمة (الأولى) ١٨٨٠ ق.م
٤ الدولة الآشورية ١١٠٠ ق.م
٥ الدولة البابلية الحديثة (الثانية) ٦٠٤ ق.م
انتهت على يد الفرس عام ٥٣٨ ق.م

١ الدويلات السومرية (٤٠٠٠ ق.م)

* السومريون هم أول الشعوب التى سكنت بلاد العراق القديم عام ٤٠٠٠ ق.م وقد أقاموا مدنًا مزدهرة حيث كانت بمثابة دويلات مستقلة تمتعت بالاستقرار والأمن، مثل : سومر وأور ولجش،

ولكن ... دارت بين هذه الدويلات عدة حروب أدت إلى ضعفها وتفرقها.

سؤال و جواب

س سقطت أقدم دول العراق القديم نتيجة .....

(أ) ضعفها اقتصاديًا.
(ب) الغزو الأجنبى.
(جـ) تعدد معبوداتها.
(د) سياستها الداخلية.

جـ (د) سبب الإجابة : بسبب النزاعات والحروب بين المدن السومرية مما أدى إلى ضعفها وانهيارها.

٢ الدولة الأكادية (٢٣٥٠ ق.م)

* جاء الأكاديون من شبه الجزيرة العربية واستقروا فى وسط العراق القديم تقريبًا فى ظل حكم السومريين.
* من أشهر ملوكها : الملك سرجون الأول، وقد استطاع توحيد بلاد العراق القديم فى مملكة متحدة عام ٢٣٥٠ق.م، واتخذ أكاد عاصمة لها.
* بعد وفاة الملك سرجون الأول توالى على حكم الدولة الأكادية (أربعة حكام أقوياء)، و بعدهم ضعفت الدولة وانهارت.

الملك سرجون الأول

سؤال و جواب

س يُعد الملك سرجون الأول نقطة تحول فى تاريخ بلاد العراق القديم لأن فى عهده .....

(أ) طُبقت مبادئ الديمقراطية لأول مرة.
(ب) وصلت بلاد العراق القديم للنضج السياسى.
(جـ) سيطرت مملكته على شبه الجزيرة العربية.
(د) استطاعت البلاد صد الغزو الأجنبى.

جـ (ب) سبب الإجابة : لأن الملك سرجون الأول استطاع توحيد بلاد العراق القديم فى مملكة متحدة عام ٢٣٥٠ ق.م.

٣ الدولة البابلية القديمة (الأولى) (١٨٨٠ ق.م)

* استطاع سكان مدينة بابل السيطرة على باقى المدن وإقامة دولتهم.
* من أشهر ملوكها : الملك حمورابى ، وأهم أعماله :
  - أعاد إعمار مدينة بابل (*) وقام بتوسيعها.
  - بنى معبدًا للإله مردوخ.
  - حفظ الأمن والنظام فى البلاد.
  - مد حدود دولته حتى البحر المتوسط.
  - أصدر مجموعة من القوانين، عُرفت بـ :

قوانين حمورابى، بلغت ٢٨٢ مادة، نقشت على حجر صلب أعلاه صورة له وهو يتلقى القوانين من إله الحكمة والعدل (شمش).

الملك حمورابى

حمورابى يتلقى القوانين من الإله شمش

من مبادئ قوانين حمورابى

يعاقب كل من :

- يشهد زورًا فى قضية جنائية.
- قام بالسرقة.
- يجرى عملية جراحية تؤدى إلى وفاة مريض.
- يخطف الأطفال.
- ضرب أباه.
- بنى بيتًا ثم انهار فمات شخص يقيم فيه.

سؤال و جواب

س بم تفسر : تعد قوانين حمورابى وثيقة قانونية مهمة فى حقوق الإنسان ؟

ج لأنها تضمنت قوانين ترفع الظلم عن الأفراد بشكل عام ومعاقبة كل من يخالفها.

٤ الدولة الآشورية (١١٠٠ ق.م)

* هاجر الآشوريون من شبه الجزيرة العربية إلى الأجزاء الشمالية من بلاد العراق القديم.
* عاصمتها : مدينة آشور، ويوجد لها عواصم أخرى، مثل : مدينة نينوى.
* من أشهر ملوكها :
  - الملك سرجون الثانى، وفى عهده تم :
    - تكوين جيش قوى.
    - السيطرة على بابل.
    - تكوين إمبراطورية عظيمة.
  - الملك سنحاريب، الذى عمَّر مدينة نينوى وخرَّب مدينة بابل (**).

الملك سرجون الثانى

ولكن ... لم تستمر الإمبراطورية الآشورية طويلًا بسبب سياسة الشدة والظلم والاستبداد التى اتبعها الملوك الآشوريين وإهمالهم لثورات البلاد مما أدى إلى : سخط الشعوب الخاضعة لهم وقيامهم بثورات متكررة أدت إلى انهيار الدولة الآشورية.

(*) توالى على حكم بلاد العراق القديم بعد الأكاديين عدة ممالك أهملت إعمار بعض المدن العراقية ومنها بابل.

(**) تم تخريب مدينة بابل بسبب الثورات التى قام بها سكانها ضد الملك سنحاريب (ابن الملك سرجون الثانى).

سؤال و جواب

س من الدروس المستفادة من أحوال بلاد العراق القديم تحت حكم الآشوريين أن النجاح يتحقق عن طريق .....

(أ) تأمين حدود الدولة.
(ب) الاهتمام بالجانب الدينى.
(جـ) الحرص على التواصل الحضارى.
(د) تطبيق مبدأ المشاركة السياسية.

جـ (د) **سبب الإجابة** : حيث استبد الآشوريون بالبلاد التى خضعت لهم واستخدموا الشدة وأهملوا ثروات الشعوب التى ثارت ضد حكمهم حتى سقطت دولتهم.

٥ الدولة البابلية الحديثة (الثانية) (تُعرف بالدولة الكلدانية ٦٠٤ ق.م)

* الكلدانيون هم آخر القبائل التى هاجرت من شبه الجزيرة العربية إلى العراق قبل الإسلام واستقروا فى منطقة الفرات الأوسط، واتخذوا مدينة بابل عاصمة لهم.
* من أشهر ملوكها : الملك نبوخذ نصر الثانى، الذى :
  - عُرف بالقوة والصلابة فى حكم البلاد وبكفاءته العسكرية والإدارية.
  - اتسعت حدود الدولة فى عهده وامتدت من الخليج العربى إلى الشاطئ الشرقى للبحر المتوسط وصارت إمبراطورية واسعة ضمت العراق وبلاد الشام.
* سقوطها : خلف الملك نبوخذ نصر الثانى ملوك ضعاف مما أدى إلى : سقوط الدولة فى يد الفرس بقيادة ملكهم كورش عام ٥٣٨ ق.م.

الملك نبوخذ نصر الثانى

وبسقوط الدولة البابلية الثانية دخلت بلاد العراق حقب تاريخية جديدة حيث :

- بدأت بحكم الفرس عام ٥٣٨ ق.م.
- ثم استولى الإسكندر المقدونى على بابل عام ٣٣٠ ق.م وبعد وفاته حكم السليوقيون(*) العراق ثم الرومان.
- ثم عادت العراق مرة أخرى إلى حكم الفرس عام ٢٢٤ م حتى تم الفتح الإسلامى عام ٦٣٢ م، ودخل العراق عهدًا جديدًا زاهرًا.

سؤال و جواب

س أصبح العراق القديم فى أواخر تاريخه منطقة لتبادل النفوذ السياسى والعسكرى بين .....

(أ) السليوقيين والرومان.
(ب) الفرس والسليوقيين.
(جـ) الرومان والفرس.
(د) الرومان والإغريق.

جـ (جـ) **سبب الإجابة** : حيث استولى الرومان على العراق من السليوقيين ثم استولى الفرس عليها من الرومان عام ٢٢٤م حتى تم الفتح الإسلامى للعراق عام ٦٣٢م.

(*) أطلق عليهم هذا الاسم نسبة إلى سليوقس أحد قادة الإسكندر المقدونى الذى حكم سوريا والعراق بعد وفاة الإسكندر.

مظاهر حضارة بلاد العراق القديم

والتواصل الحضارى بين مصر وبلاد العراق القديم.

١ الحياة الاقتصادية
٢ الحياة السياسية والعسكرية
٣ الحياة الاجتماعية
٤ الحياة الدينية
٥ الحياة الفكرية (الثقافية)
٦ الحياة الفنية

١ الحياة الاقتصادية

انقسمت إلى ثلاثة مجالات، هى :

الزراعة

* عرف سكان بلاد العراق القديم الزراعة منذ أقدم العصور بسبب توافر مياه نهرى دجلة والفرات، وخصوبة تربتها، لذلك اهتم سكانها بـ :
  - شئون الرى.
  - حماية أراضيهم.
  - زراعة المحاصيل المختلفة، مثل :
    - الحبوب (القمح والشعير).
    - الخضراوات والفاكهة.
* كانت ملكية الأرض فى العراق للأفراد بخلاف الوضع فى مصر القديمة حيث كان فرعون صاحب الملكية العامة للأرض.

الصناعة

* اشتهر سكان بلاد العراق القديم بالكثير من الصناعات المختلفة، مثل صناعة :
  - الأدوات الزراعية.
  - الأسلحة.
  - المنسوجات.
  - الحُلى وأدوات الزينة.
  - أدوات النجارة والحدادة.

تاج من الذهب فى العراق قديمًا

التجارة

* نشطت الرحلات التجارية إلى :
  - بلاد الهند.
  - بلاد فارس.
  - آسيا الصغرى.
  - بلاد الشام.
  - مصر.

عرف العراقيون القدماء فى تجارتهم المكاييل والموازين.

التواصل الاقتصادى بين مصر وبلاد العراق القديم

كانت هناك علاقات تجارية بين مصر وبلاد العراق القديم حيث : عُثر فى منطقة جرزة بمحافظة الجيزة على أربعة أختام أسطوانية والتى تنتمى إلى حضارتى الوركاء وجمدة نصر فى بلاد العراق القديم.

سؤال و جواب

س اعتبرت التجارة مع بلاد الشام تجارة خارجية للعراق القديم فى عهد .....

(أ) الدولة الآشورية.
(ب) الدويلات السومرية.
(جـ) الدولة البابلية القديمة.
(د) الدولة الكلدانية.

جـ (ب) **سبب الإجابة** : لأن الحضارة السومرية كانت بمثابة دويلات مستقلة لم تتحد ولم تتوسع لذلك تعد التجارة بينها وبين بلاد الشام تجارة خارجية، بينما الحضارة الآشورية والبابلية القديمة والكلدانية دول استطاعت تكوين إمبراطوريات ضمت بلاد الشام لذلك تعد التجارة مع بلاد الشام تجارة داخلية.

٢ الحياة السياسية والعسكرية

نظام الحكم «النظام السياسى»

* تكون من دويلات صغيرة سُميت بـ «دويلات المدن»(*) لكل منها أسرة حاكمة، وكان الحُكام يطمعون فى الأراضى المجاورة ليكوِّنوا إمبراطورية واسعة.
* كان الملك بمثابة الوكيل لمعبود المدينة فى حكم البلاد، حيث كانوا يعتبرون معبود المدينة هو الحاكم الحقيقى.

الجيش

* كانت الخدمة العسكرية إلزامية أيام الحرب حتى جاء العهد الآشورى وأصبح الجيش دائم.
* امتاز بالقوة والبراعة فى القتال، والتطور فى فن الحرب، ولذلك استطاع تحقيق انتصارات كثيرة وإقامة إمبراطوريات واسعة خاصة فى عهد الملوك الأقوياء.

سؤال و جواب

س *«اهتم ملوك العراق بالقوة العسكرية لتأمين حدود بلادهم وبناء دولة عظيمة»*.

فى ضوء العبارة السابقة : كانت الخدمة العسكرية فى عهد الملك حمورابى .....

(أ) تطوعية وقت الحرب.
(ب) إلزامية وقت الحرب.
(جـ) إلزامية طوال العام.
(د) قاصرة على المرتزقة.

جـ (ب) **سبب الإجابة** : حيث كانت الخدمة العسكرية بالعراق القديم إلزامية أيام الحرب طوال عصور الدول التى سبقت عصر الدولة الآشورية التى غيرت ذلك وجعلت الجيوش دائمة.

(*) تحقق هذا النظام السياسى فى البداية قبل توحيد العراق على يد سرجون الأول.

٣ الحياة الاجتماعية

* انقسم المجتمع فى بلاد العراق القديم إلى ثلاث طبقات، هى :

* تميزت عادات وتقاليد العراقيين القدماء بالتحلى بالآداب العامة واحترام كل منهم للآخر.

٤ الحياة الدينية

* كان للدين تأثير عميق فى حياة سكان بلاد العراق القديم حيث :

- كانوا يعتبرون المعبود هو حاكم المدينة الحقيقى والملك هو وكيل عنه.
- احتلت المعابد (الزاقورات) أهمية خاصة فى نفوسهم حيث كان يتم فيها :
  - تتويج الملك.
  - إقامة الشعائر الدينية.
  - تعليم الأفراد.
  - حفظ السجلات والعقود.

* خصائصها، تمثلت فى :

١ تعدد المعبودات :

- قدس سكان بلاد العراق القديم الظواهر الطبيعية كالشمس والقمر، وكانت هناك معبودات محلية وأخرى عامة للدولة.
- من أهم المعبودات : - المعبود أنو : كبير المعبودات وكان يمثل السماء.
  - المعبودة عشتار : ربة الحب والحرب.

المعبودة عشتار

٢ الاعتقاد فى البعث والخلود :

اعتقد سكان بلاد العراق القديم فى البعث والخلود بعد الموت، لذلك وضعوا الطعام والشراب مع موتاهم وإن كانت الحياة عندهم بعد الموت غامضة.

التواصل الدينى بين مصر وبلاد العراق القديم

* تأثرت بلاد العراق القديم بأفكار المصريين ومعتقداتهم خاصة فكرة الاعتقاد فى البعث والحياة بعد الموت.
* انتقلت عبادة «عشتار» من بلاد العراق القديم إلى مصر زمن الملك «رمسيس الثانى» (الأسرة الـ ١٩) فى عصر الدولة الحديثة.

سؤال و جواب

س اختلفت الحياة الدينية ببلاد العراق القديم عن الحياة الدينية بمصر الفرعونية فى .....

(أ) بناء الزاقورات.
(ب) الاعتقاد فى البعث والخلود.
(جـ) عبادة الظواهر الكونية.
(د) الوصول لتوحيد الآلهة.

جـ (د) **سبب الإجابة** : لأن بلاد العراق القديم لم تعرف عبر تاريخها توحيد الآلهة، بينما توصلت مصر الفرعونية إلى فكرة توحيد الآلهة فى إله واحد أثناء عصر الدولة الحديثة على يد الملك أمنحوتب الرابع (إخناتون).

٥ الحياة الفكرية (الثقافية)

الكتابة

* اخترع السومريون شكلًا خاصًا من الكتابة سُميت بالكتابة المسمارية(*) وعرفت بهذا الاسم لأن كل علامة تشبه شكل المسمار وتُكتب بأقلام من الخشب يضغط بها على ألواح من الطين الطرى، وقد استخدمها السومريون فى تدوين الوثائق والسجلات.


الكتابة المسمارية

الأدب

* ترك سكان «بلاد ما بين النهرين» تراثًا زاخرًا من الأدب، تمثل فى :
- النقوش التاريخية.
- النصوص الدينية.
- القصص والأساطير، مثل : قصة الطوفان.

قصة الطوفان

فى يوم ما غضبت الآلهة على البشر لكثرة ما يرتكبون من ذنوب، فقررت القضاء عليهم بتسليط طوفان عظيم، غير أن أحد الآلهة وهو (أيا) إله الحكمة المشهور بحبه للبشر أسَّر إلى أحد الرجال الصالحين بما عقدت الآلهة العزم عليه ونصحه أن يصنع سفينة يحمل فيها نماذج من الأحياء، وما كاد يفعل ذلك حتى غمر الماء اليابس واستمر الحال ستة أيام وفى اليوم السابع تقهقر الطوفان، واستقرت السفينة على جبل وخرج ذلك الرجل الصالح هو وأسرته من السفينة وقدم القرابين إلى الآلهة، فسرت منه ومنحته الخلود وصار إلهًا مثلهم.

العلوم

* برع العراقيون القدماء فى العديد من العلوم، مثل :
- الطب.
- الهندسة.
- الحساب.
- الفلك، حيث :
  - رصدوا النجوم والكواكب.
  - وضعوا تقويمًا شمسيًا كاملًا.

(*) الكتابة المسمارية : تمكن العالم الألمانى (جورج جروتفند) من فك حروفها عام ١٨٠٤م.

٦ الحياة الفنية تمثلت فى :

العمـــارة

* تنوعت العمارة فى بلاد العراق القديم ما بين بناء المدن والمعابد والقصور، ففى :

• **عصر الآشوريين :**

برع الآشوريون فى فن العمارة حيث اهتم الملك الآشورى سنحاريب بتعمير مدينة نينوى (إحدى عواصم الآشوريين)، وصمم على جعلها أجمل وأروع من بابل التى قام بتخريبها.

• **عصر الدولة البابلية الحديثة :**

شيد الملك نبوخذ نصر الثانى كلًا من :

- حدائق بابل المعلقة (إحدى عجائب الدنيا السبع).
- برج بابل الشهير.

رسم تكوينى لحدائق بابل المعلقة

النحـت

* تميز فن النحت فى بلاد العراق القديم بالدقة والمهارة العالية، ومن أمثلته :

• **الثيران المجنحة** التى تصور ثورًا برأس إنسان ومزودة بالأجنحة (تشبه تمثال أبو الهول رأس إنسان وجسم أسد).

الثيران المجنحة

• **صور الحيوانات** كالأسود والثيران المصممة ببلاطات القاشانى الملونة.

الثيران المصممة ببلاط القاشانى الملون

الرسم والنقش

* اهتم سكان بلاد العراق القديم بالرسم والنقش والتصوير على جدران المعابد وتشييد المسلات التى نقشوا عليها وقائع انتصاراتهم ورحلات الصيد.

التواصل الثقافى والفنى بين مصر وبلاد العراق القديم

* أخذت بلاد العراق القديم عن مصر : شكل الهرم المدرج فى بناء معابدها.
* أخذت مصر عن بلاد العراق القديم :
  - فن رسم الحيوانات المجنحة.
  - استخدام الأختام، مثل :

الختم الملكى للفرعون «حور محب» (الأسرة الـ ١٨) عصر الدولة الحديثة.

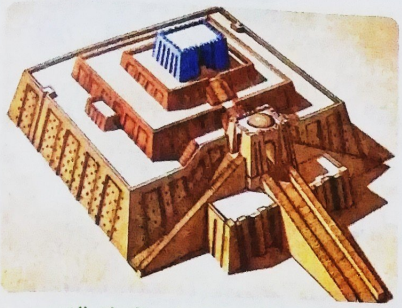

الزاقورة (المعبد) فى العراق القديم

ختم حور محب

سؤال وجواب

س١ من الآثار المترتبة على اختراع السومريين للكتابة .....

(أ) الاهتمام بالصناعات الزجاجية.

(ب) تعدد وظائف الزاقورات.

(جـ) التواصل الحضارى مع مصر .

(د) استيراد ورق البردى.

جـ (ب) سبب **الإجابة** : أدى اختراع السومريين للكتابة إلى ظهور وظائف جديدة للزاقورات (المعابد) مثل تعليم الناس وحفظ السجلات والعقود إلى جانب وظائفها الأخرى.

س٢ دلل تاريخيًا على صحة العبارة التالية :

تواصلت مصر فى عصر الدولة الحديثة مع حضارة بلاد العراق القديم.

جـ **حيث أخذت مصر عن بلاد العراق القديم خلال عصر الدولة الحديثة :**

- استخدام الأختام مثل الختم الملكى للفرعون «حور محب» الأسرة الـ ١٨
- عبادة الإلهة «عشتار» التى انتقلت من بلاد العراق القديم إلى مصر زمن الملك «رمسيس الثانى» الأسرة الـ ١٩

أهم نقاط الدرس

أهم نقاط الدرس

أهم دول بلاد العراق القديم

مظاهر حضارة بلاد العراق القديم

١ الحياة الاقتصادية :

- الزراعة : اعتمدت على مياه نهرى دجلة والفرات وخصوبة التربة.
- الصناعة : عرف سكان العراق القديم صناعة الأدوات الزراعية والأسلحة، والمنسوجات، والحُلى وأدوات الزينة وأدوات النجارة والحدادة.
- التجارة : نشطت الرحلات التجارية إلى بلاد الهند، وبلاد فارس، وآسيا الصغرى، وبلاد الشام، ومصر.

٢ الحياة السياسية والعسكرية :

- نظام الحكم : تكون من «دويلات المدن» لكل منها أسرة حاكمة.
- الجيش : – كانت الخدمة العسكرية إلزامية أيام الحرب حتى جاء العهد الآشورى وأصبح الجيش دائم.
  – امتاز بالقوة والبراعة فى القتال والتطور فى فن الحرب.

٣ الحياة الاجتماعية :

- كان مجتمع بلاد العراق القديم مجتمعًا طبقيًا يتكون من ثلاث طبقات.
- تميزت عادات وتقاليد مجتمع بلاد العراق القديم بالتحلى بالآداب العامة واحترام كل منهم للآخر.

٤ الحياة الدينية :

- من خصائصها : – تعدد المعبودات. – الاعتقاد فى البعث والخلود.

٥ الحياة الفكرية (الثقافية) :

- الكتابة : اخترع السومريون الكتابة المسمارية.
- الأدب : ترك سكان بلاد ما بين النهرين تراثًا زاخرًا من الأدب.
- العلوم : برعوا فى العديد من العلوم، منها : الفلك، والحساب، والطب، والهندسة.

٦ الحياة الفنية :

- العمارة : تنوعت ما بين بناء المدن، والمعابد، والقصور.
- النحت : تميز بالدقة والمهارة العالية.
- الرسم والنقش : اهتم سكان العراق بالرسم والنقش والتصوير على جدران المعابد وتشييد المسلات والنقش عليها.

التواصل الحضارى بين مصر وبلاد العراق القديم

١ تواصل اقتصادى :

كانت هناك علاقات تجارية بين مصر وبلاد العراق القديم وظهر ذلك فى الأختام الأسطوانية الأربعة التى عُثر عليها فى جرزة بمحافظة الجيزة.

٢ تواصل دينى :

- تأثرت بلاد العراق القديم بأفكار المصريين القدماء خاصة فكرة الاعتقاد فى البعث والحياة بعد الموت.
- انتقلت إلى مصر عبادة «عشتار» من بلاد العراق القديم.

٣ تواصل ثقافى وفنى :

- أخذت بلاد العراق القديم عن مصر شكل الهرم المدرج فى بناء المعابد.
- أخذت مصر عن بلاد العراق القديم فن رسم الحيوانات المجنحة واستخدام الأختام مثل : الختم الملكى للفرعون «حور محب».

أسئلة

الدرس الأول

• فهم • تطبيق • تحليل • تقويم • ابتكار

أ اختر الإجابة الصحيحة من بين البدائل التالية :

١ نستنتج من سياسة الملك حمورابى كأحد حكام الدولة البابلية الأولى أن استقرار الدولة يرتبط بـ .....

(أ) تجميل مدن الدولة.
(ب) بناء دور العبادة.
● سيطرة القانون على الحكم.
(د) وجود سواحل بحرية للدولة.

٢ *«استخدام الحكمة فى الإدارة والحكم يساعد بشكل كبير فى بسط النفوذ على كافة أجزاء الدولة»*.

تُعد أكثر الدول العراقية القديمة مخالفة لمحتوى العبارة السابقة .....

(أ) الدولة الأكادية.
(ب) الدولة البابلية القديمة.
(جـ) الدولة الكلدانية.
● الدولة الآشورية.

٣ تعتبر الكتابة المسمارية التى تم اختراعها فى بلاد الرافدين قديمًا نوعًا من .....

(أ) الرسم والتصوير.
(ب) النحت والعمارة.
(جـ) النقوش الغائرة.
(د) النقوش البارزة.

٤ بالاستعانة بالخريطة التالية، نجد أن استخدام الوثائق والسجلات المدونة بالكتابة المسمارية لأول مرة فى تاريخ العراق القديم كان فى .....

(أ) المناطق الشمالية الشرقية.
(ب) منطقة الفرات الأوسط.
(جـ) المناطق الشمالية الغربية.
(د) منطقة التقاء نهرى دجلة والفرات.

مرت مصر القديمة بعصر تاريخى يعرف بعصر الانتقال الثانى والذى وقعت فيه البلاد فريسة لاحتلال الهكسوس نتيجة لضعف الملوك

٥ أى من الدول التى تنتمى لحضارة العراق القديم مرت بأحداث مشابهة فى نهاية عصرها لما فى النص المقابل ؟ الدولة .....

(أ) الأكادية.

(ب) البابلية الأولى.

(جـ) الآشورية.

● الكلدانية.

---

٦ تحرى العراقيون القدماء الدقة والعدالة فى معاملاتهم التجارية بدليل .....

(أ) إصدار القوانين.

(ب) استخدام المكاييل والأختام.

(جـ) إيمانهم بالحساب بعد الموت.

(د) احتكار الدولة للتجارة الخارجية.

---

٧ تتويج الملك فى الزاقورات فى بلاد العراق القديم يدل على .....

(أ) سيطرة الكهنة على أمور الحكم.

(ب) اعتبار الزاقورة مقر للحكم فى الدولة.

(جـ) تغلغل الدين فى حياة العراقيين القدماء.

(د) التواصل الدينى مع الحضارة المصرية القديمة.

---

٨ أى من المهن الآتية استفادت بشكل مباشر من وضع العراقيين القدماء للتقويم الشمسى ؟ .....

(أ) التجارة.

(ب) الزراعة.

(جـ) الصيد.

(د) الصناعة.

---

٩ بالنظر للخريطة التالية، جددت الحضارات العراقية القديمة دمائها من خلال الحدود .....

(أ) الجنوبية.

(ب) الغربية.

(جـ) الشمالية.

(د) الشرقية.

١٠ من مبادئ قوانين حمورابى : «*معاقبة كل من يخطف الأطفال أو يشهد زورًا أو يجرى عملية جراحية تؤدى إلى وفاة مريض أو بنى بيتًا وانهار*» .
من هذه الفقرة يمكن أن نستدل على معرفة العراقيين القدماء بعلم .....
(أ) الفلسفة. (ب) الطب.
(جـ) الفلك. (د) الكيمياء.

١١ تعددت وظائف الزاقورات فى بلاد العراق القديم فبجانب وظيفتها الدينية كان لها وظيفة .....
(أ) قضائية. (ب) عسكرية.
(جـ) تشريعية. (د) ثقافية.

١٢ «*لكى تكون جميلًا حافظ على جمال الآخرين*» .
أى من الملوك التالية تعارضت أعماله مع العبارة السابقة ؟ .....
(أ) نبوخذ نصر الثانى.
(ب) سرجون الثانى.
(جـ) سنحاريب.
(د) حمورابى.

١٣ أى مما يلى تميزت بارتفاع سطحها عن باقى حضارات العراق القديم ؟ .....
(أ) الدويلات السومرية. (ب) الدولة الكلدانية.
(جـ) الدولة الأكادية. (د) الدولة الآشورية.

١٤ من خلال دراستك لحضارة بلاد العراق القديم، أى البلاد الآتية كانت تكلفة نقل البضائع العراقية إليها أقل ؟ .....
(أ) الشام. (ب) اليمن.
(جـ) الهند. (د) اليونان.

١٥ أمامك رسم تكوينى لحدائق بابل المعلقة من خلاله استنتج السبب فى اتخاذها إحدى عجائب الدنيا السبع .....
(أ) زيادة إنتاجها الزراعى.
(ب) ضخامة الأحجار المستخدمة فى بنائها.
(جـ) براعة تصميمها الهندسى.
(د) أعمدتها الدورية المتأثرة بالحضارة المصرية.

١٦ الصورة التى أمامك تمثل لوحة فنية ترجع لحضارة بلاد العراق القديم وتعد دليلًا على تفوقهم فى فن .....

(أ) الرسم.
(ب) النقش.
(جـ) النحت.
(د) التصوير.

---

١٧ «الصدام والصراع تفرقة وضعف».
أى من الشعوب التاريخية التالية انطبقت عليها هذه العبارة ؟ .....

(أ) السومريين.
(ب) الأكاديين.
(جـ) البابليين.
(د) الآشوريين.

---

١٨ أصدر الملك البابلى حمورابى قوانين امتازت بالقوة والصلابة وحرص فيها على .....

(أ) اقتباسها من الثقافات الأجنبية.
(ب) صبغها بالصبغة الدينية.
(جـ) إظهار قوته العسكرية.
(د) تقليد الحضارة الفرعونية.

---

١٩ نستنتج من خلال الصورة المقابلة أن وجه الاختلاف بين السومريين فى العراق القديم والعصر العتيق فى مصر يتمثل فى .....

صلاية الملك نعرمر
موحد القطرين

(أ) الإبداع الفنى.
(ب) الازدهار الثقافى.
(جـ) النضج السياسى.
(د) الازدهار الاقتصادى.

---

٢٠ «تعرضت بلاد العراق قديمًا للغزو الأجنبى أكثر من مرة». من خلال الخريطة المقابلة : جاء أول غزو أجنبى للعراق من جهة .....

(أ) الجنوب.
(ب) الغرب.
(جـ) الشمال.
(د) الشرق.

٢١ تأثرت الطبقة الدنيا فى بلاد العراق القديم بـ .....

(أ) العلاقات التجارية مع الدول الأخرى.

(ب) نظام ملكية الأرض للأفراد.

(جـ) نتائج السياسة الخارجية للبلاد.

(د) التواصل الحضارى مع الدول المجاورة.

---

٢٢ كان العامل الأساسى لسقوط معظم الدول التى حكمت بلاد العراق القديم .....

(أ) الصراع الطبقى.

(ب) التدخل الخارجى.

(جـ) التناحر الدينى.

(د) التفكك السياسى.

---

٢٣ كان الغرض الأساسى من كتابة الملك حمورابى لقوانينه على حجر صلب .....

(أ) تخليد أعماله التشريعية.

(ب) إظهار عظمته وصفاته.

(جـ) إظهار الشكر للآلهة.

(د) الحفاظ على وحدة البلاد.

---

٢٤ أى من الدول العراقية الآتية كانت الأسبق فى اتساع حدودها لتصل إلى البحر المتوسط ؟ .....

(أ) الدويلات السومرية.

(ب) الدولة الكلدانية.

(جـ) الدولة البابلية القديمة.

(د) الدولة الآشورية.

---

٢٥ يعد الرابط التاريخى بين الحضارتين الآشورية والكلدانية فى بلاد الرافدين أنهما من أصول .....

(أ) فارسية.

(ب) إغريقية.

(جـ) أفريقية.

(د) عربية.

---

٢٦ الصورتان اللتان أمامك تمثلان إحدى مظاهر الحضارات القديمة العراقية والفرعونية والرابط المشترك بينهما هو .....

(أ) تقديس الحيوانات.

(ب) الإبداع الفنى.

(جـ) فن النحت.

(د) فن الرسم.

٢٧ أدى تطاحن السومريين والحروب فيما بينهم إلى .....

(أ) استيلاء الأكاديين على وسط وجنوب البلاد.

(ب) تفكك الدولة السومرية إلى دويلات منفصلة.

(جـ) هجرة الأكاديين إلى وسط وجنوب العراق.

(د) إنشاء دولة موحدة مركزها فى الجنوب.

---

٢٨ تتشابه الصورة المقابلة مع هرم سقارة المدرج فى أنهما .....

(أ) قيمة اقتصادية كبيرة.

(ب) قيمة معمارية وفنية.

(جـ) من عجائب الدنيا السبع.

(د) تم تشييدهما فى وقت واحد.



رسم تكوينى لحدائق بابل المعلقة

---

٢٩ ظهرت فى بلاد العراق قديمًا حضارة كبرى كانت من أعظم حضارات الشرق ورغم ذلك افتقدت إلى .....

(أ) التواصل الحضارى.

(ب) الاستمرارية دون انقطاع.

(جـ) التقدم فى جميع المجالات.

(د) التدين والاهتمام بالمظاهر الدينية.

---

٣٠ تميزت الحضارة السومرية ببلاد الرافدين قديمًا بـ.....

(أ) التوسع الجغرافى.

(ب) القرار السياسى الموحد.

(جـ) تعدد المراكز الحضارية.

(د) اختراع أول أبجدية.

---

٣١ اختلف نظام التجنيد فى الدولة الآشورية عما سبقها من حضارات العراق القديم فى .....

(أ) إلزامية التجنيد.

(ب) الهدف من التجنيد.

(جـ) الإقبال على التجنيد.

(د) مدة التجنيد.

---

٣٢ تؤكد أسطورة الطوفان وقوانين حمورابى فى بلاد العراق القديم على تأثر العراقيين بـ.....

(أ) القوة العسكرية.

(ب) الأنشطة الاقتصادية.

(جـ) العقيدة الدينية.

(د) العلم والثقافة.

---

٣٣ ساهمت البيئة الفيضية لبلاد العراق قديمًا فى .....

(أ) نشاط حركة التجارة الخارجية.

(ب) توفير بعض أدوات الكتابة.

(جـ) وصول السومريون إلى النضج السياسى.

(د) تميز فن النحت بالدقة والمهارة العالية.

٣٤ تناقضت سياسة الملك الآشورى سنحاريب فى مدينة بابل مع سياسة الملك .....

(أ) سرجون الأول.
(ب) حمورابى.
(جـ) سرجون الثانى.
(د) نبوخذ نصر الثانى.

٣٥ الصورة التى أمامك توضح أحد القطع الأثرية التى تنتمى لحضارة بلاد العراق القديم والتى تعد مصدرًا تاريخيًا يمكن من خلاله التعرف على أحد مظاهر .....

(أ) الأسلحة المستخدمة.
(ب) الأبجدية المسمارية.
(جـ) الأنشطة الاقتصادية.
(د) المعتقدات الدينية.

ب اختر إجابتين صحيحتين من بين البدائل التالية :

٣٦ تشابهت الحضارة المصرية القديمة مع الحضارة العراقية القديمة فى الكثير من السمات إلا أنهما اختلفتا فى ..... و .....

(أ) الاعتقاد فى البعث والخلود.
(ب) نظام الملكية الزراعية.
(جـ) نحت الحيوانات المجنحة.
(د) استخدام الأختام.
(هـ) الاعتقاد فى الحساب بعد الموت.

جـ أسئلة المقال :

٣٧ ما الدروس المستفادة من : سقوط الدولة الآشورية ؟

٣٨ ما تقييمك لـ : قوانين حمورابى ؟

٣٩ ما العلاقة بين : شبه الجزيرة العربية، وحضارات بلاد العراق القديم ؟

٤٠ «*أصبحت الخدمة العسكرية دائمة فى عهد الآشوريين*».
وضح : كيف استفاد الملك سرجون الثانى من ذلك.

٤١ ما العلاقة بين : الدين، والقانون فى حضارة بلاد العراق القديم ؟

تنويه
لمعرفة كيفية الوصول للإجابة الصحيحة
استخدم QR Code

الدرس الثانى

حضارة فينيقيا

أهداف الدرس :

فى نهاية الدرس يتوقع أن يكون الطالب قادرًا على أن :

- يحدد الخصائص الرئيسة لحضارة فينيقيا.
- يفسر أسباب ازدهار حضارة فينيقيا.
- يحدد على خريطة أهم المدن الفينيقية.
- يحلل أهم المظاهر السياسية والاقتصادية والاجتماعية لحضارة فينيقيا.
- يفسر اهتمام الفينيقيين بالتوسع البحرى.
- يستنتج تأثير العوامل الجغرافية فى تشكيل حضارة فينيقيا.
- يبدى رأيه حول بعض الأحداث التاريخية التى تربط الحضارة المصرية بحضارة فينيقيا.
- يبحث عن معلومات تاريخية ذات صلة بحضارة فينيقيا.
- يصمم ألبوم صور لأهم معالم حضارة فينيقيا.
- يعتز بما قدمته حضارة فينيقيا بالنسبة للحضارات الأخرى.

القضايا المتضمنة :

- حسن استخدام الموارد وتنميتها.
- التواصل الحضارى.

فى هـذا الدرس نتعـــرف

الحضارة الفينيقية

مظاهر الحضارة الفينيقية
والتواصل الحضارى بين مصر وفينيقيا

* **تميزت بلاد الشام** بموقعها الجغرافى وقامت بها حضارات عظيمة منذ أقدم السنين كالحضارة الآرامية والعمورية القديمة والفينيقية، وكانت بلاد الشام مهدًا للديانتين السماويتين اليهودية والمسيحية، كما لعبت دورًا بارزًا فى نشر الدين الإسلامى.

وسنتعرف على الحضارة الفينيقية كنموذج من نماذج حضارة بلاد الشام.

الحضارة الفينيقية

الفينيقيون

هم أول من استقروا على الشريط الساحلى لسوريا وساحل فلسطين ولبنان فكانوا أول أمة بحرية فى العالم.

* أطلق الإغريق على الفينيقيين اسم **فينكس** (أى الشعب الأحمر اللون)،

وذلك نسبة إلى الصبغة الحمراء (الأرجوانية) التى استخرجوها من القواقع البحرية التى تعيش قرب سواحلهم واشتهروا باستخدامها فى صبغ المنسوجات.

ومن كلمة فينكس ← اُشتق لفظ **فينيقيا** والتى تعنى (الأرض الحمراء اللون).

وقد... تكونت بلاد فينيقيا من عدة مدن منها: بعلبك، بيروت، عكا، حيفا، صيدا، صور، جُبيل، أوغاريت، وفيما يلى سنتعرف بعض هذه المدن بشىء من التفصيل.

سؤال وجواب

س يدل تسمية الفينيقيين بهذا الاسم على التواصل الحضارى مع .....

(أ) جنوب أوروبا.
(ب) غرب آسيا.
(جـ) بلاد اليمن.
(د) بلاد الرافدين.

جـ (أ) **سبب الإجابة**: حيث أطلق الإغريق «من شعوب جنوب أوروبا» اسم «فينكس» أى الشعب الأحمر اللون على الفينيقيين ومن كلمة فينكس اُشتق لفظ فينيقيا.

المدن الفينيقية أشهرها :

مدينة صيدا

- احتلت مركز الزعامة بين المدن الفينيقية الأخرى.
- أُقيمت على لسان ممتد فى الماء وتحيط بها عدة جزر صغيرة.

مدينة أوغاريت

- نالت شهرة عظيمة فى الفن والعمران.
- تقدمت تجاريًا إذ كانت ميناء يمتلئ بالبضائع التى تُصدر إلى كل الجهات.

مدينة صور

- تولت زعامة المدن الفينيقية بعد صيدا.
- أُحيطت بسور عظيم أكسبها مناعة ضد الغزاة.

مدينة جُبيل

- تُعد من أقدم المدن الفينيقية وأوثقها صلة بمصر القديمة، حيث عُثر بها على :
  - كثير من التماثيل المصرية القديمة.
  - أحجار عليها أسماء فراعنة مصريين.

  وهذا يدل على التواصل الحضارى بين مصر وفينيقيا.
- عُثر فيها على أقدم أبجدية فى الوطن العربى.

الفينيقيون وتوسعهم البحرى :

* كان لوجود الفينيقيين على ساحل محدد تحيط به الجبال من الشرق أثرًا واضحًا فى توجههم نحو البحر طلبًا للرزق، واستيطان مناطق جديدة، خاصة على حوض البحر المتوسط، وقد ساعدتهم على ذلك مجموعة من المقومات تتمثل فيما يلى :

- توافر الأخشاب الصالحة لبناء السفن.
- كثرة التعاريج الساحلية المهيئة لنشأة الموانئ.
- موقع البلاد المتوسط بين الشرق والغرب.

وقد ازدهرت العديد من المستوطنات الفينيقية فى حوض البحر المتوسط وأهمها «قرطاجة».

قرطاجة

- أسسها الفينيقيون بالقرب من مدينة تونس الحالية.
- أخذت فى التقدم والازدهار حتى أصبحت تنافس المدن الفينيقية فى التجارة والنشاط البحرى.
- يوجد بها موانئ لا تزال أطلالها القديمة قائمة حيث كان يوجد بها مرسى حربى ومرسى داخلى آخر.

سقوط فينيقيا

* فى القرن الـ٦ ق.م حاول الملك البابلى نبوخذ نصر الثانى احتلال فينيقيا إلا أن الأسوار المنيعة لبعض المدن منعته من احتلالها بسهولة.
* فى عام ٣٣٢ ق.م احتل الإسكندر الأكبر فينيقيا، وبعد وفاته حكمها السليوقيون لمدة ثلاثة قرون تقريبًا.
* فى عام ٦٤ ق.م سيطر الرومان على فينيقيا وأصبحت ولاية رومانية.
* فى عام ٦٣٤ م دخلت الجيوش الإسلامية فينيقيا وفتحتها دون مقاومة تُذكر.

سؤال و جواب

س١ كانت طيبة فى مصر الفرعونية مركزًا للإبداع الفنى وتشابهت معها فى ذلك إحدى المدن الفينيقية وهى .....

(أ) صور. (ب) صيدا. (جـ) بعلبك. (د) أوغاريت.

جـ (د) سبب الإجابة : حيث نالت أوغاريت شهرة عظيمة فى الفن والعمران.

س٢ سقطت المدن الفينيقية الواحدة تلو الأخرى وانتهى حكم الفينيقيين لأنفسهم بغزو .....

(أ) الإغريق. (ب) الفرس. (جـ) السليوقيين. (د) الرومان.

جـ (أ) سبب الإجابة : حيث احتل الإسكندر الأكبر فينيقيا عام ٣٣٢ ق.م وبعد وفاته حكمها السليوقيون لمدة ثلاثة قرون تقريبًا ومن بعدهم الرومان حتى جاء الفتح الإسلامى عام ٦٣٤م.

مظاهر الحضارة الفينيقية والتواصل الحضارى بين مصر وفينيقيا

١ الحياة الاقتصادية
٢ الحياة السياسية
٣ الحياة الدينية
٤ الحياة الاجتماعية
٥ الحياة الثقافية (الفكرية)
٦ الحياة الفنية

١ الحياة الاقتصادية

اهتم الفينيقيون بالنواحى الاقتصادية التى تتواكب مع بيئتهم الطبيعية كالتالى :

- **الزراعة** حيث : استغل الفينيقيون كل المساحات التى يمكن زراعتها واستطاعوا تحويل سفوح جبال لبنان إلى مصاطب صالحة للزراعة.

* من أهم المحاصيل الزراعية :
  - الحبوب : زرعت فى السهول.
  - الأشجار مثل :
    - النخيل.
    - العنب.
    - الزيتون.
    - الرمان : وأدخلوه إلى شمال أفريقيا.

- تربية الحيوان والصيد حيث : قاموا بتربية الأبقار والأغنام والماعز، كما اشتغلوا بالصيد.

- الصناعة حيث : تفوق الفينيقيون فى كثير من الصناعات، أهمها :

تماثيل صغيرة من الفخار
(فن فينيقى من قرطاجة)

- صناعة الغزل والنسيج : من أمثلتها : الصوف والحرير والقطن والكتان.
- صناعة الثياب المزخرفة : استخدموا فى صباغتها مادة حمراء من أجسام بعض القواقع التى تعيش فى البحر.
- الصناعات الزجاجية : عرفوها من مصر وسرعان ما تفوقوا فيها.
- صناعة الفخار : تميزت بالدقة والانسجام وحُسن الذوق.
- الصناعات المعدنية : استخدموا النحاس، والبرونز، والحديد، والذهب، والفضة فى صناعة الأسلحة.
- صناعة أدوات الزينة.
- صناعة الآلات الموسيقية.

درع حربى

سؤال و جواب

س١ استطاع الفينيقيون توفير أهم المحاصيل التى تحقق الأمن الغذائى عن طريق زراعة .....

(أ) سفوح الجبال.
(ب) الأراضى الصحراوية.
(جـ) القمم الجبلية.
(د) المناطق السهلية.

جـ (د) سبب الإجابة : حيث قام الفينيقيون بزراعة الحبوب فى السهول.

س٢ أى من الصناعات الآتية أكدت على وجود بيئة فيضية نهرية بفينيقيا ؟ .....

(أ) الزجاجية.
(ب) الفخارية.
(جـ) المعدنية.
(د) النسيجية.

جـ (ب) سبب الإجابة : حيث تقوم الصناعات الفخارية على الطمى الناتج عن عمليات النحت التى تقوم بها الأنهار.

التجارة

كانت التجارة المورد الأساسى للفينيقيين فنهضوا بها نهضة كبيرة مستغلين موقع فينيقيا المتوسط بين الشرق والغرب حيث أفادوا منه كثيرًا فى النقل التجارى بين الدول الكبرى القديمة، مثل :

مصر، وبلاد العراق القديم (بلاد ما بين النهرين) وبلاد اليونان.

وقد ظهر التخصص فى النقل التجارى حيث :

- تخصص سكان المدن الساحلية (فى) النقل البحرى، الذى اتخذوه مجالًا لنشاطهم التجارى فأقاموا موانئ المدن عند الرؤوس الداخلية من البحر المتوسط، وسيطروا على تجارة العالم البحرية آنذاك.
- تخصص سكان المدن الداخلية (فى) النقل البرى، فاحتكروا القوافل التجارية التى جلبت المنتجات الآسيوية والأفريقية إلى البحر الأبيض المتوسط وذلك من خلال معابر التواصل الحضارى التالية :

معابر التواصل الحضارى بين حضارات العالم القديم:

- طريق شبه جزيرة سيناء
- طريق ساحل البحر المتوسط
- طريق ساحل البحر الأحمر

* نتيجة لموقع فينيقيا الجغرافى والنشاط التجارى الضخم احتل الفينيقيون رأس المثلث الحضارى الذى يتكون ضلعه الأيمن من بلاد العراق القديم وضلعه الأيسر من بلاد النيل (مصر) وقاعدته شبه الجزيرة العربية (خاصة حضارة بلاد اليمن) ومن هذا المثلث خرجت حضارات إنسانية أشعت بنورها على العالم.

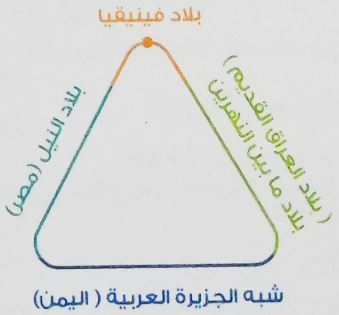

* قام الفينيقيون بتصدير :

(١) المواد الخام، مثل :

- الأخشاب (من جبل لبنان).
- المعادن (من أقصى غرب البلاد).
- الأصباغ الأرجوانية المشهورة (من البحر).

(٢) المصنوعات من المنسوجات الدقيقة والأوانى، والمصنوعات المعدنية، والمصنوعات من مواد خام أخرى.

التواصل الاقتصادى بين مصر وفينيقيا

* حرصت مصر على فتح أسواق فى فينيقيا بهدف بيع منتجاتها فى تلك الأسواق، والاستيراد منها ففى :

عصر الدولة القديمة

تم استيراد خشب الآرز من فينيقيا والذى استخدم فى مقابر الملوك وصناعة السفن فقد أشار «حجر بالرمو» أن الملك سنفرو (مؤسس الأسرة الرابعة) أرسل أسطولًا بحريًا مكونًا من ٤٠ سفينة لإحضار خشب الآرز من فينيقيا.

عصر الدولة الحديثة

زادت العلاقات التجارية بين مصر وفينيقيا خاصة فى عهد الملك رمسيس الثانى.

العصر المتأخر

استعان الملك نخاو ببحارة فينيقيين للدوران حول أفريقيا لاكتشاف أسواق جديدة واستمرت الرحلة ثلاث سنوات.

سؤال و جواب

س١ أى الأنشطة الاقتصادية التالية كانت الأكثر أثرًا فى ازدهار الحضارة الفينيقية ؟ .....

(أ) الرعى والصيد.
(ب) الصناعة.
(جـ) الزراعة.
(د) التجارة.

جـ (د) **سبب الإجابة** : حيث نهض الفينيقيون بالتجارة وسيطروا على تجارة العالم البحرى كما احتكروا القوافل التجارية بين آسيا وأفريقيا والبحر المتوسط فأصبحت التجارة المورد الأساس لهم.

س٢ من خلال الخريطة ص ٣٤، استنتج اسم مدينة فينيقية كانت من ضمن المدن التى احتكرت طرق القوافل التجارية بين آسيا وأفريقيا والبحر المتوسط .....

(أ) بعلبك.
(ب) صور.
(جـ) صيدا.
(د) بيروت.

جـ (أ) **سبب الإجابة** : حيث إنها إحدى المدن الفينيقية الداخلية والتى تخصصت فى النقل البرى واحتكرت طرق القوافل التجارية بين آسيا وأفريقيا والبحر المتوسط.

٢ الحياة السياسية

* كانت المدن الفينيقية الشرقية :

- مستقلة عن بعضها البعض من الناحية السياسية.
- تهتم كل منها بمصالحها الذاتية المباشرة فكان التنافس سائدًا بينها.

لذلك ... لم يستطع الفينيقيون الشرقيون تشكيل وحدة سياسية واحدة فكانوا يُفضلون الأمان والاستقرار السياسى.

ومن هنا ... اتخذ الفينيقيون نظام حكم شبه ديمقراطى حيث كان لكل مدينة حكومة خاصة بها يترأسها الحاكم أو الملك.

وفيما يلى نتعرف سلطات الحكم شبه الديمقراطى فى فينيقيا.

الحاكم أو الملك

يرأس الحكومة ويحكمها بالوراثة وكانت سلطته مقيدة،

إذ يساعده فى إدارة الحكم كل من :

مجلس الشيوخ	مجلس النواب	الكهنة
هم هيئة من المشرعين	تكون من طبقة الأغنياء	هم رجال الدين وكان لهم دور فى إدارة شئون الحكم

وقد ... عرفت بعض المدن الفينيقية النظام الجمهورى وخاصة قرطاجة التى اعتمدت على هذا النظام منذ نشأتها واستمرت عليه حتى سقطت على يد «الرومان».

سؤال و جواب

س تشابهت الحياة السياسية فى فينيقيا مع الحياة السياسية عند .....

(أ) البابليين.
(ب) السومريين.
(جـ) الآشوريين.
(د) الأكاديين.

جـ (ب) **سبب الإجابة :** حيث كانت المدن الفينيقية والسومرية مستقلة عن بعضها وتهتم كل مدينة منهم باستقرارها ومصالحها الذاتية.

التواصل السياسى والعسكرى بين مصر وفينيقيا

* أراد المصريون القدماء السيطرة على سوريا ولبنان وجعلها وحدة واحدة ليس استغلالًا لثروات تلك البلاد ولكن لتكون بمثابة خط الدفاع الأول عن الحدود المصرية حفاظًا على الأمن القومى المصرى فقام المصريون القدماء بـ :

١ إرسال العديد من الحملات العسكرية.

٢ إنشاء العديد من القلاع والحصون الحربية بفينيقيا.

* فى عهد الملك تحتمس الثالث «الأسرة الـ١٨» اشترك الفينيقيون مع المصريين فى «معركة مجدو» للقضاء على أعداء الملك.

* فى عهد الملك رمسيس الثانى «الأسرة الـ١٩» تم تعزيز النفوذ المصرى فى سوريا وبعد المعاهدة التى عقدها الملك رمسيس الثانى مع ملك الحيثيين ظلت المدن الفينيقية تحت السيطرة المصرية وتدعمت الصلات التجارية بين مصر وفينيقيا.

> فى عهد الملك إخناتون وصل نفوذ مصر فى سوريا إلى الضياع تقريبًا وذلك لانشغاله بنشر الدعوة الدينية الخاصة به وترك الشئون السورية.

تذكر أن

> قاد رمسيس الثانى معركة قادش عام ١٢٧٤ ق.م دفاعًا عن الإمبراطورية المصرية ضد الحيثيين وانتهت بعقد أول معاهدة سلام فى التاريخ بين الطرفين.

سؤال و جواب

س «*الأمن القومى المصرى مرتبط بدول الجوار*». طبق هذه العبارة على :

ملوك الدولة الحديثة بمصر الفرعونية.

ج حيث أراد المصريون القدماء السيطرة على سوريا ولبنان وجعلها وحدة واحدة ليس استغلالًا لثرواتها ولكن لتكون بمثابة خط الدفاع الأول عن الحدود المصرية حفاظًا على الأمن القومى لذلك قام الملوك المصريين بإرسال حملات عسكرية وإنشاء العديد من القلاع والحصون الحربية فى فينيقيا.

٣ الحياة الدينية

* تتمثل خصائص الديانة الفينيقية، فى :
  ١ عبادة الظواهر الطبيعية.
  ٢ تقديس قوى الخصب والنماء.
  ٣ تصوير الظواهر والأشياء فى هيئة معبودات ذات صفة بشرية.

المعبود إيل

* من أهم المعبودات الفينيقية :
  • المعبود إيل : صاحب الكلمة الأولى والأخيرة فى شئون البشر الدينية.
  • المعبود بعل : رب الخصب والنماء الذى أصلح الأرض.
  • المعبودة عشتار : ربة الخصب والنماء وزوجة الإله بعل وكانت تشاركه فى جميع أعماله.
  • المعبود أدونيس (أذون) : يمثل القوة المتجددة فى الشمس بعد هزيمة الشتاء.


المعبود بعل

* المعابد :
  • اهتم الفينيقيون ببناء الكثير من المعابد للمعبودات الخاصة بهم.
  • كان المعبد بسيطًا فى بادئ الأمر، ولكن بمرور الزمن تطور بناؤه ليصبح غاية فى الفن وروعة فى البناء.

معبد فينيقى بلبنان

التواصل الدينى بين مصر وفينيقيا

* تأثر الفينيقيون بأفكار المصريين ومعتقداتهم حيث ظهر ذلك فى :
  • عادات الدفن حيث وضعوا الطعام والشراب مع المتوفى كدليل على تأثرهم بفكرة الاعتقاد فى البعث والحياة بعد الموت.
  • تصوير الفينيقيين للصراع بين الخير والشر فى قصة الإله بعل وهى تشبه قصة إيزيس وأوزوريس مع الإله ست عند المصريين القدماء.

٤ الحياة الاجتماعية

انقسم المجتمع فى فينيقيا إلى ثلاث طبقات، هى :

١ **الطبقة العليا** شملت الوزير، والنبلاء، وكبار الكهنة، والتجار، والأغنياء.

٢ **الطبقة الوسطى** شملت أصحاب المهن والصناعات، والموظفين.

٣ **الطبقة الدنيا** شملت الخدم، والعبيد.

سؤال و جواب

س يدل وجود كبار الكهنة فى أعلى التقسيم الطبقى للمجتمع الفينيقى على .....

(أ) دورهم فى التواصل الحضارى.

(ب) تعدد أدوارهم فى الدولة.

(جـ) قوة مركزهم الاقتصادى.

(د) دورهم فى استقرار الدولة.

جـ (ب) **سبب الإجابة** : حيث كان لكبار الكهنة دورًا فى الحياة السياسية وإدارة دفة الحكم بجانب دورهم الدينى مما رفع مكانتهم وجعلهم جزءًا من الطبقة العليا.

٥ الحياة الثقافية (الفكرية)

* **نشأة الكتابة واختراع الحروف الهجائية :**

اخترع الفينيقيون حروفًا أبجدية لحاجتهم إلى وسيلة سريعة لتسجيل ما يبيعونه وما يشترونه فى سجلاتهم فكانت أول أبجدية عرفها العالم فى القرن الـ ١٤ ق.م.

* أخذ الإغريق الأبجدية عن الفينيقيين بعد أن عدلوا فيها، ثم أورثوها للرومان الذين نشروها فى بقية الأقطار الأوروبية القديمة، ومنها خرجت الأبجدية الأوروبية الحديثة.

وكان... لاختراع الأبجدية الفينيقية الفضل الأكبر فى نشر الوعى والثقافة فى شتى أرجاء العالم.

الحروف الهجائية عند الفينيقيين

حروف اخترعها الفينيقيون لتسهيل معاملاتهم التجارية مكونة من ٢٢ حرفًا اقتبسوها من الكتابة المصرية القديمة.



الأبجدية الفينيقية

التواصل الثقافى بين مصر وفينيقيا

* كانت مدينة جُبيل بمثابة منطقة مصرية حيث :

- كان يسكن بها جالية مصرية من التجار الذين تمكنوا من نشر الثقافة المصرية هناك.
- كان حكامها يكتبون أسماءهم بالهيروغليفية واتخذوا شعارًا ذا طابع مصرى لإمارتهم.

* الكتابة الهيروغليفية أقدم كتابة اُستخدمت فيها الصور.
* الكتابة الفينيقية أول كتابة استخدمت فيها الحروف.

المعبود إيل

المعبود بعل

مع الإله

٦ الحياة الفنية

العمـارة

* برع الفينيقيون فى فن العمارة وزخرفتها، **ومن أمثلة ذلك :**

- القلاع والحصون والأسوار، تُعد من أعظم ما عرفه العالم القديم (**الدليل على ذلك** الصعوبة التى وجدها الملك البابلى «نبوخذ نصر الثانى» فى احتلال فينيقيا فى القرن الـ٦ ق.م بسبب أسوار مدنها المنيعة).
- القصور، **مثل** : بقايا قصر ضخم زُينت أعمدته بالفضة عُثر عليه فى مدينة أوغاريت.
- المعابد، وقد أظهرت بقاياها مدى تمكن المهندسين من فنهم وقدرتهم على استخدام كتل ضخمة من الأحجار.

الفنـون

* تفـوق الفينيقيـون فى فـن النقـش والنحـت وظهر هذا واضحًا فيما عُثر عليه من توابيت رائعة النقوش.
* أتقـن الفينيقيون فن صناعة الحُلى وصنعـوا العقود والخواتم والأقراط والأساور من الذهب والفضة والأحجار الثمينة.

تابوت من مدينة جُبيل

سـؤال و جواب

س١ تمثل الهدف الأساسى فى اختراع الأبجدية الفينيقية .....

(أ) دعم النشاط الاقتصادى.
(ب) تطوير اللغة المصرية القديمة.
(جـ) تسجيل إنجازاتهم العسكرية.
(د) نشر العلوم والمعارف.

جـ (أ) **سبب الإجابة** : حيث اخترع الفينيقيون الحروف الأبجدية لحاجتهم إلى وسيلة سريعة لتسجيل معاملاتهم التجارية.

س٢ عرف الفينيقيون استخدامات جديدة ومبتكرة للمعادن وقد ظهر ذلك فى مدينة .....

(أ) صور.
(ب) صيدا.
(جـ) جُبيل.
(د) أوغاريت.

جـ (د) **سـبب الإجابة** : حيث اسـتخدموا الفضة فى تزيين أعمدة أحد قصورهم وهو يعد ابتكارًا لهم ودليلًا على ثرائهم.

أهم نقاط الدرس

أهم نقاط الدرس

أشهر المدن الفينيقية

- بعلبك
- بيروت
- عكا
- حيفا
- صيدا
- صور
- جبيل
- أوغاريت
- قرطاجة «مستوطنة فينيقية»

مظاهر الحضارة الفينيقية

الحياة الاقتصادية

* اهتم الفينيقيون بالنواحى الاقتصادية التى تتواكب مع بيئتهم الطبيعية فاهتموا بـ:
- الزراعة : استغلوا كل مساحات الأرض التى يمكن زراعتها.
- تربية الحيوان والصيد : قاموا بتربية الأبقار والأغنام والماعز واشتغلوا بالصيد.
- الصناعة : تفوقوا فى كثير من الصناعات.
- التجارة : نهضوا بها وأصبحت المورد الأساسى عندهم.

الحياة السياسية

* لم يستطع الفينيقيون الشرقيون تشكيل وحدة سياسية واحدة.
* كان نظام الحكم عند الفينيقيين شبه ديمقراطى كما عرفت بعض المدن الفينيقية النظام الجمهورى، مثل قرطاجة.

الحياة الدينية

* من أهم خصائصها :
- عبادة الظواهر الطبيعية.
- تقديس قوى الخصب والنماء.
- تصوير الظواهر والأشياء فى هيئة معبودات ذات صفة بشرية.

* من أهم المعبودات :
- المعبود إيل.
- المعبود بعل.
- المعبودة عشتار.
- المعبود أدونيس (أذون).

الحياة الاجتماعية

* كان المجتمع الفينيقى مجتمعًا طبقيًا يتكون من ثلاث طبقات :
- طبقة عليا.
- طبقة وسطى.
- طبقة دنيا.

الحياة الثقافية (الفكرية)

اخترع الفينيقيون أول أبجدية فى العالم فى القرن الـ ١٤ ق.م والتى كان لها الفضل فى نشر الوعى والثقافة فى العالم.

الحياة الفنية

* العمارة : برع الفينيقيون فى فن العمارة وزخرفتها.
* الفنون : تفوق الفينيقيون فى النقش والنحت وأتقنوا فن صناعة الحُلى.

التواصل الحضارى بين مصر وفينيقيا

التواصل الاقتصادى

حرصت مصر على فتح أسواق فى فينيقيا بهدف بيع منتجاتها فى تلك الأسواق والاستيراد منها.

التواصل السياسى والعسكرى

* أراد المصريون القدماء السيطرة على سوريا ولبنان (فينيقيا) وذلك لجعلها وحدة واحدة وليس استغلالًا لثرواتها لذلك قاموا بإرسال حملات عسكرية إليها وإنشاء العديد من القلاع والحصون الحربية بها.
* فى عهد تحتمس الثالث اشترك الفينيقيون بجانب المصريين فى معركة مجدو للقضاء على أعداء الملك.
* فى عهد رمسيس الثانى قام بتعزيز النفوذ المصرى فى سوريا وبعد المعاهدة التى عقدها مع الحيثيين تدعمت الصلات التجارية بين مصر وفينيقيا.

التواصل الدينى

* تأثر الفينيقيون بأفكار المصريين وبمعتقداتهم وقد ظهر ذلك فى :
- عادات الدفن حيث وضعوا الطعام والشراب مع المتوفى لتأثرهم بفكرة البعث والحياة بعد الموت.
- تصوير الفينيقيين للصراع بين الخير والشر فى قصة الإله بعل والتى تشبه قصة إيزيس وأوزوريس مع الإله ست عند المصريين القدماء.

التواصل الثقافى

كانت مدينة جُبيل بمثابة منطقة مصرية يسكن بها جالية مصرية من التجار الذين تمكنوا من نشر الثقافة المصرية هناك وكان حكامها يكتبون أسمائهم بالهيروغليفية واتخذوا شعارًا ذا طابع مصرى لإمارتهم.

أسئلة

الدرس الثانى

• فهم • تطبيق • تحليل • تقويم • ابتكار

أ اختر الإجابة الصحيحة من بين البدائل التالية :

١ أكثر الصناعات التى اشتهر بها الفينيقيون .....

(أ) صناعة الفخار.
(ب) صناعة الصبغة.
(جـ) صناعة السفن.
(د) الصناعات الزجاجية.

٢ اشتهرت فينيقيا بنشاطها التجارى الذى كانت تمارسه بكفاءة منقطعة النظير مستفيدة من ذلك فى .....

(أ) استقرارهم ووحدتهم السياسية.
(ب) علاقاتها التجارية بالدول المجاورة.
(جـ) موقعها الجغرافى المتميز.
(د) احتكارها للطرق التجارية البحرية.

٣ فشل الفينيقيون فى إقامة وحدة سياسية نتيجة لـ .....

(أ) تشابه النشاط الاقتصادى.
(ب) سيطرة الأفكار الفردية.
(جـ) النفوذ السياسى للكهنة.
(د) الاهتمام بتكوين المستوطنات.

٤ كان الهدف الرئيسى للفينيقيين من إنشاء مستوطنات فى حوض البحر المتوسط إقامة .....

(أ) قواعد عسكرية.
(ب) محطات تجارية.
(جـ) مدن استعمارية.
(د) مراكز حضارية.

٥ يمثل الأثر الذى أمامك بقايا أطلال لمدينة جُبيل التى يدين لها العالم القديم والحديث بالفضل لإسهاماتها .....

(أ) العسكرية.
(ب) الفنية.
(جـ) الصناعية.
(د) الثقافية.

٦ كان الهدف من التعاون بين الملك الفرعونى نخاو والفينيقيين .....

(أ) اقتصادى.
(ب) سياسى.
(جـ) دينى.
(د) عسكرى.

٧ اشتركت الحضارات القديمة الثلاث المصرية والعراقية والفينيقية فى صناعة .....

(أ) البردى.
(ب) الحرير المذهب.
(جـ) الحلى وأدوات الزينة.
(د) الملابس الأرجوانية.

٨ أهم ما قدمه المثلث الحضارى فى الشرق القديم لحفظ التراث الإنسانى .....

(أ) الصناعات الحربية.
(ب) الإسهامات الثقافية.
(جـ) الصناعات المعدنية.
(د) الإبداعات الفنية.

٩ أى المعبودات الفينيقية التالية يمكن وصفه بالمعبود العالمى ؟ .....

(أ) أدونيس.
(ب) بعل.
(جـ) إيل.
(د) عشتار.

١٠ استفادت مصر من معاهدة قادش للسلام فى تأمين مجالها الحيوى من ناحية .....

(أ) الشمال الشرقى.
(ب) الجنوب الشرقى.
(جـ) الجنوب الغربى.
(د) الشمال الغربى.

١١ اختلفت قرطاجة عن معظم مدن فينيقيا فى أنظمتها .....

(أ) السياسية.
(ب) العسكرية.
(جـ) الاجتماعية.
(د) الثقافية.

١٢ مثلت الصورة المقابلة معبودة الحب والحرب عند العراقيين القدماء بينما عند الفينيقيين ارتبطت بنشاطهم .....

(أ) الصناعى.
(ب) الزراعى.
(جـ) التجارى.
(د) الثقافى.

١٣ أى من الفئات التالية تشابهت فى مكانتها الاجتماعية فى كل من الهرمين الاجتماعيين العراقى والفينيقى ؟ .....

(أ) الكهنة والتجار.
(ب) الموظفون والحرفيون.
(جـ) العسكريون والتجار.
(د) النبلاء وكبار الكهنة.

١٤ يرجع العامل الأول لاتجاه الفينيقيين إلى البحر .....

(أ) قلة المحاصيل الزراعية.
(ب) قلة مواردهم الاقتصادية.
(جـ) معتقداتهم الدينية.
(د) طبيعة بلادهم الجبلية.

١٥ بالرغم من تأثر الفينيقيون قديمًا بالحضارة المصرية إلا أن الاختلاف بين كل منهما كان واضحًا فى .....
(أ) نظم الحكم السائدة.
(ب) عبادة الظواهر الطبيعية.
(جـ) القدرة على تدوين الأحداث.
(د) الإيمان بالبعث والخلود.

١٦ ظهر تواصل اقتصادى واجتماعى وثقافى منذ القِدم بين مصر ومدينة .....
(أ) صور.
(ب) جبيل.
(جـ) صيدا.
(د) أوغاريت.

١٧ توجد علاقة بين تسمية الفينيقيين بهذا الاسم ونشاطهم .....
(أ) الاقتصادى.
(ب) العسكرى.
(جـ) الدينى.
(د) الثقافى.

١٨ استنتج من خلال الخريطة المقابلة:
أى من المدن الفينيقية الآتية تميزت بالنقل البرى ؟ .....
(أ) أوغاريت.
(ب) صيدا.
(جـ) بعلبك.
(د) صور.

١٩ خالف الفينيقيون البابليين والآشوريين فى إقامة دولة قوية موحدة بسبب .....
(أ) توجهاتهم السياسية.
(ب) التدخلات الخارجية.
(جـ) صعوبة التضاريس.
(د) الاتجاه إلى البحر.

٢٠ استقر الفينيقيون على الشريط الساحلى الضيق لبلاد الشام فاتجهوا إلى البحر وساعدهم على ذلك .....
(أ) مهارتهم التجارية.
(ب) وفرة الغابات الطبيعية.
(جـ) وحدتهم السياسية.
(د) رغبتهم فى التوسع.

٢١ وصلت العلاقات بين مصر وفينيقيا إلى قمتها فى عصر الدولة الحديثة لأسباب اقتصادية و .....
(أ) دينية واجتماعية.
(ب) ثقافية واجتماعية.
(جـ) عسكرية وسياسية.
(د) سياسية وثقافية.

٢٢ قدم الفينيقيون نتاج حضارى فكرى انعكس على الحضارات التى عاصرتها وقد وجد أقدم أثر لهذا النتاج فى مدينة .....
(أ) صور.
(ب) جُبيل.
(جـ) صيدا.
(د) قرطاجة.

٢٣ فى ضوء النص المقابل :

يعد الفينيقيون البحارة الأوائل فى العصور القديمة الذين جازفوا بأنفسهم وتوغلوا فى .....

(أ) البحر الأسود والبحر الأحمر.

(ب) البحر المتوسط والبحر العربى.

(جـ) المحيط الهادى والمحيط الهندى.

(د) المحيط الهندى والمحيط الأطلنطى.

كلف الملك الفرعونى نخاو الفينيقيين بالدوران حول أفريقيا وبدأت رحلتهم من الأوديسيا البحرية «السويس» وعادت عن طريق مضيق جبل طارق، واستمرت هذه الرحلة ثلاث سنوات.

---

٢٤ بدأت علاقات مصر الفرعونية بفينيقيا خلال عصر .....

(أ) الانتقال الثانى.

(ب) الدولة الحديثة.

(جـ) الدولة القديمة.

(د) الدولة الوسطى.

---

٢٥ أى من القارات التالية تميزت بقيام أكثر عدد من الحضارات القديمة على أراضيها ؟ .....

(أ) آسيا.

(ب) أفريقيا.

(جـ) أوروبا.

(د) أستراليا.

ب اختر إجابتين صحيحتين من بين البدائل التالية :

٢٦ تركزت دوافع مصر الفرعونية للسيطرة على الإقليم السورى واللبنانى حول تحقيق مكاسب .....

و .....

(أ) دينية.

(ب) اقتصادية.

(جـ) أمنية.

(د) ثقافية.

(هـ) اجتماعية.

---

٢٧ أدى موقع فينيقيا المتوسط بين الشرق والغرب إلى ..... و .....

(أ) اهتمام الفينيقيين بالصناعة.

(ب) إهمال الفينيقيين للزراعة.

(جـ) توسع الفينيقيين نحو الشرق.

(د) قيام فينيقيا بدور حضارى.

(هـ) تكوين إمبراطورية واسعة.

جـ أسئلة المقال :

٢٨ ما العلاقة بين : فينيقيا، والثقافة الأوروبية الحديثة ؟

٢٩ «شهدت مدينة جُبيل علاقات وثيقة بين الدول المجاورة» .

أكد صحة العبارة السابقة بذكر مثالًا واحدًا.

٣٠ «نجح الفينيقيون فى استغلال الموقع المتوسط بين الشرق والغرب وأحسنوا التعامل مع مواردهم الاقتصادية» .

فى ضوء العبارة، ما مقترحاتك لـ :

تستفيد مصر من موقعها الجغرافى فى تحقيق نقلة اقتصادية كبيرة ؟

٣١ «إن الطبيعة هى صاحبة القرار الأول فى تكوين الحضارات» .

أكد فهمك لهذه المقولة : مما درست من الحضارات فى بلاد الشرق القديم.

٣٢ دلل على صحة العبارة الآتية :

لعب رجال الدين فى فينيقيا دورًا إضافيًا بجانب مهامهم الدينية.

تنويه

لمعرفة كيفية الوصول للإجابة الصحيحة
استخدم QR Code

امتحان تراكمى

أسئلة تفاعلية

● فهم ● تطبيق ● تحليل ● تقويم ● ابتكار

أ اختر الإجابة الصحيحة من بين البدائل التالية :

١ تعتبر حضارة سومر من أقدم حضارات بلاد العراق القديم ولها إسهامات حضارية متنوعة كان أهمها فى الجانب .....

(أ) الفنى.
(ب) العسكرى.
(جـ) السياسى.
(د) الثقافى.

٢ يُعد السبب الرئيسى وراء انهيار المدن والدويلات السومرية ببلاد العراق القديم .....

(أ) النزاعات الداخلية فيما بينهم.
(ب) الاحتلال الفارسى.
(جـ) استيلاء البابليين عليها.
(د) تأسيس الدولة الأكادية.

٣ يُعد العامل المشترك بين الحضارتين الفرعونية والفينيقية هو .....

(أ) تكوين إمبراطورية واسعة.
(ب) لعب دور الوسيط تجاريًا وحضاريًا.
(جـ) السمو إلى التوحيد والحساب بعد الموت.
(د) اختراع أول أبجدية فى العالم.

٤ أى من ملوك الدول الآتية خالف قواعد الحكمة والإدارة السليمة لموارد بلاد العراق القديم ؟ .....

(أ) السومرية.
(ب) الأكادية.
(جـ) الآشورية.
(د) الكلدانية.

٥ يتمثل وجه الاختلاف الأكثر وضوحًا بين الحضارتين الأكادية والكلدانية فى .....

(أ) الأصل العرقى.
(ب) النشاط الاقتصادى.
(جـ) خصائص الحياة الدينية.
(د) مواجهة الغزو الأجنبى.

٦ يعد العامل الأول فى اتجاه الفينيقيين للعمل بالتجارة .....

(أ) المناخ.
(ب) مظاهر السطح.
(جـ) الدين.
(د) الموقع الجغرافى.

٧ تعد الطبقة الدنيا الأكثر عددًا فى مجتمع العراق القديم وذلك لأسباب .....

(أ) اقتصادية وثقافية.
(ب) اقتصادية وعسكرية.
(جـ) عسكرية ودينية.
(د) دينية واقتصادية.

٨ تتمثل أهم العوامل التى زادت من مشقة النشاط الزراعى فى فينيقيا .....

(أ) طبيعة أراضى فينيقيا.

(ب) ندرة موارد المياه.

(جـ) الموقع الجغرافى لفينيقيا.

(د) انشغال الفينيقيين بالتجارة.

---

٩ يُعد العامل الأكبر فى التزام أهل العراق القديم بخصال الخير والابتعاد عن خصال الشر هو .....

(أ) الاعتقاد فى البعث والخلود.

(ب) الاعتقاد فى الحساب بعد الموت.

(جـ) الحفاظ على وحدة البلاد.

(د) إصدار القوانين والتشريعات.

---

١٠ نستنتج من الخريطة المقابلة أن المنطقة التى شهدت قيام أكثر من دويلة فى بلاد العراق القديم هى المنطقة .....

(أ) الجنوبية.

(ب) الوسطى.

(جـ) الشمالية.

(د) الغربية.

---

١١ تشابه النظام السياسى للفينيقيين قديمًا مع النظام السياسى لـ .....

(أ) الآشوريين.

(ب) السومريين.

(جـ) البابليين.

(د) الأكاديين.

---

١٢ «*كان ملوك بلاد الرافدين يتم تتويجهم فى الزاقورات*» . من خلال العبارة السابقة :

نستنتج أن للزاقورات وظيفة .....

(أ) عسكرية.

(ب) اجتماعية.

(جـ) دينية.

(د) سياسية.

ب اختر إجابتين صحيحتين من بين البدائل التالية :

١٣ سعى ملوك مصر الفرعونية إلى إيجاد علاقات مختلفة الأشكال مع بلاد سوريا وفينيقيا بهدف ..... و .....

(أ) نشر الحضارة المصرية.
(ب) حماية المجال الحيوى لمصر.
(ج) تجنيد أهلها فى الجيش المصرى.
(د) الاستفادة من ثرواتهم وخبراتهم.
(هـ) القضاء على الهجمات الفارسية.

جـ أسئلة المقال :

١٤ أيد صحة العبارة التالية تاريخيًا :

حملت الحياة السياسية فى فينيقيا وجهين متناقضين.

١٥ حدد العلاقة بين :

النظام السياسى للمدن السومرية، وتعدد الآلهة.

١٦ من خلال الخريطة التالية استخلص :

الأثر الإيجابى والأثر السلبى الذى حدث لفينيقيا نتيجة هذا الموقع.

بنك أسئلة على الوحدة الثالثة

● فهم ● تطبيق ● تحليل ● تقويم ● ابتكار

أ اختر الإجابة الصحيحة من بين البدائل التالية :

١ من مبادئ قوانين حمورابى : «*معاقبة كل من يخطف الأطفال أو يسرق أو يجرى عملية جراحية تؤدى إلى وفاة مريض*» . تدل العبارة السابقة على .....

(أ) المساواة بين طبقات المجتمع .

(ب) تنمية الجوانب الروحية .

(جـ) وجود ضوابط تحكم المجتمع .

(د) التأكيد على الإخاء فى المجتمع .

---

٢ كان للمعبد مكانة خاصة فى نفوس العراقيين القدماء فبجانب وظيفته الدينية ، كانت له وظائف .....

(أ) سياسية وثقافية .

(ب) تشريعية وعسكرية .

(جـ) تنفيذية واجتماعية .

(د) عسكرية واقتصادية .

---

٣ بملاحظة الصورتين التاليتين نستدل على .....



تمثال أبى الهول



تمثال آشورى لثور مجنح

(أ) تشابه المعتقدات الدينية .

(ب) تقديس الحيوانات .

(جـ) التأثير المتبادل بين الحضارتين .

(د) الاهتمام بالنزعة العسكرية .

---

٤ تعتبر أكثر فترات العراق القديم حروبًا داخلية فترة حكم .....

(أ) الأكاديين .

(ب) البابليين .

(جـ) الآشوريين .

(د) السومريين .

٥ يدل وجود المعبودة عشتار عند العراقيين القدماء والفينيقيين والمصريين القدماء على .....

(أ) تأثر الحضارتين العراقية والفينيقية بالحضارة الفرعونية.

(ب) التواصل الحضارى بين هذه الشعوب.

(جـ) وجود لغة واحدة تجمع تلك الشعوب.

(د) سمو تلك الحضارات إلى الوحدانية.

٦ تُعد أكثر الصناعات إسهامًا فى الصادرات الفينيقية صناعة .....

(أ) الملابس.

(ب) الفخار.

(جـ) الزجاج.

(د) الآلات الموسيقية.

٧ يُعد أبرز ما ميز حضارة فينيقيا بين الحضارات الشرقية القديمة .....

(أ) موقعها الجغرافى المتميز.

(ب) معتقداتها الدينية.

(جـ) نشاطها الاقتصادى.

(د) إبداعاتها الفنية.

٨ تعتبر مدينة عكا الصخرة التى تحطمت عليها آمال نابليون لاحتلال الشام فى العصر الحديث لقوة حصونها وتعد أقرب المدن الفينيقية القديمة فى التشابه معها مدينة .....

(أ) صيدا.

(ب) صور.

(جـ) أوغاريت.

(د) جبيل.

٩ افتقدت المدن الفينيقية فى شرق حوض البحر المتوسط نظام الحكم الديمقراطى الكامل لعدة عوامل منها .....

(أ) التأثر بالحضارات المجاورة.

(ب) اشتراك الكهنة فى الحكم.

(جـ) طريقة تولية الملك.

(د) اختفاء الهيئات التشريعية.

١٠ أدى اختراع السومريين للكتابة إلى .....

(أ) الاهتمام بالصناعات الزجاجية.

(ب) تعدد وظائف الزاقورات.

(جـ) التواصل الحضارى مع مصر.

(د) استيراد ورق البردى من مصر.

١١ تعرضت بلاد العراق القديم للاستعمار الغربى لأول مرة على يد .....

(أ) المقدونيين.

(ب) الفُرس.

(جـ) الرومان.

(د) الفينيقيين.

١٢ اشتركت كل من مصر والعراق وفينيقيا قديمًا فى عبادة .....
(أ) الإله إيل.
(ب) الإلهة عشتار.
(جـ) الإله أدونيس.
(د) الإله بعل.

١٣ «كانت فينيقيا بمثابة بُعدًا استراتيجيًا مهمًا لمصر من الناحية الشمالية الشرقية».
سقطت هذه الحقيقة من حسابات الملك الفرعونى .....
(أ) تحتمس الثالث.
(ب) أمنحوتب الرابع.
(جـ) رمسيس الثانى.
(د) نخاو.

١٤ تعرضت فينيقيا لمحاولة احتلال من الشرق على يد .....
(أ) السومريين.
(ب) الرومان.
(جـ) المقدونيين.
(د) الكلدانيين.

١٥ كان الهدف الأساسى لقيام المصريين القدماء بالسيطرة على سوريا ولبنان هو .....
(أ) تحقيق الاستقرار الداخلى لمصر.
(ب) زيادة ثروات الشعب المصرى.
(جـ) السيطرة على طرق تجارتهم.
(د) نشر معتقداتهم الدينية.

١٦ ساهم الفينيقيون خلال عهد الملك الفرعونى نخاو فى .....
(أ) توريد خشب الأبنوس لمصر.
(ب) القضاء على أعداء الملك.
(جـ) ظهور الأختام الملكية.
(د) الكشوف الجغرافية.

١٧ الأثر الذى أمامك يدل على تأثر الفينيقيين بـ .....
(أ) فن النحت عند المصريين القدماء.
(ب) العقيدة الدينية عند العراقيين القدماء.
(جـ) عقيدة الحساب بعد الموت عند المصريين القدماء.
(د) فن النحت عند العراقيين القدماء.

تابوت من مدينة جبيل

١٨ ارتبط ازدهار التجارة البحرية عند الفينيقيين بنتائج تطور حرفة .....
(أ) الصيد.
(ب) الصناعة.
(جـ) الزراعة.
(د) الرعى.

١٩ ارتبطت الحياة الاقتصادية فى بلاد العراق القديم بالطبقة .....

(أ) العليا.
(ب) الوسطى.
(جـ) الدنيا.
(د) العامة.

٢٠ أى من المهن الآتية استفادت بشكل مباشر من وضع العراقيين القدماء للتقويم الشمسى ؟ .....

(أ) التجارة.
(ب) الزراعة.
(جـ) الصيد.
(د) الصناعة.

٢١ ظهر ارتباط الحياة الدينية بالحياة السياسية لبلاد العراق القديم فى .....

(أ) تقديس الملوك.
(ب) سياسة ملوك الدولة الآشورية.
(جـ) نظام دويلات المدن.
(د) عبادة الإلهة عشتار.

٢٢ ابتكر الفينيقيون أول أبجدية عرفها العالم لأسباب .....

(أ) ثقافية.
(ب) دينية.
(جـ) اقتصادية.
(د) عسكرية.

٢٣ استعان الملك المصرى نخاو ببحارة فينيقيين للدوران حول أفريقيا لتحقيق أهداف .....

(أ) سياسية.
(ب) اقتصادية.
(جـ) عسكرية.
(د) دينية.

٢٤ أراد الملك «حمورابى» تحقيق العدالة وحفظ الأمن من خلال إصدار مجموعة من القوانين كان مرجعها .....

(أ) اجتماعيًا.
(ب) سياسيًا.
(جـ) اقتصاديًا.
(د) دينيًا.

٢٥ يرجع عدم اكتمال مظاهر الديمقراطية فى فينيقيا إلى .....

(أ) سلطة الملك المقيدة.
(ب) وجود مجلس شيوخ.
(جـ) اقتصار الحكم على فئات محددة.
(د) وجود الأغنياء فى هيئات الحكم.

٢٦ احتل الفينيقيون رأس المثلث الحضارى الذى يتكون من بلاد العراق القديم ومصر وشبه الجزيرة العربية، مما ساعدهم على .....

(أ) فرض نظامهم السياسى.
(ب) القيام بدور الوسيط الحضارى.
(جـ) تحقيق سيطرتهم العسكرية.
(د) صد الأخطار الخارجية.

٢٧ قامت حضارات عريقة فى بلاد العراق القديم كان السبب فى ظهورها الهجرات البشرية التى جاء أغلبها من جهة .....

(أ) الجنوب.
(ب) الغرب.
(جـ) الشمال.
(د) الشرق.

---

٢٨ «*سيطر الفينيقيون على تجارة العالم فى العصور القديمة*» . فى ضوء العبارة السابقة :

اتخذت التجارة بين الفينيقيين وبلاد ما بين النهرين الطريق .....

(أ) البحرى والبرى.
(ب) النهرى والبحرى.
(جـ) النهرى.
(د) البرى.

---

٢٩ الصورة التى أمامك تعبر عن وجود تواصل بين حضارة مصر والعراق قديمًا من خلال .....

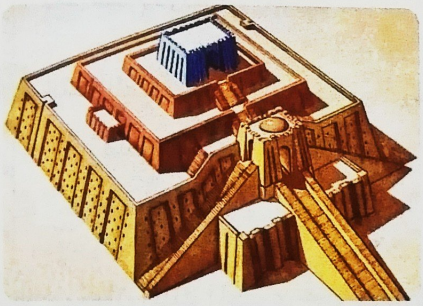
الزاقورة فى العراق القديم

(أ) وظيفة المعبد.
(ب) تصميم المعبد.
(جـ) المعبود الذى خصص له المعبد.
(د) الرسوم والنقوش على المعبد.

---

٣٠ «*تكون النظام السياسى فى بلاد العراق القديم من دويلات صغيرة سميت دويلات المدن لكل منها أسرة حاكمة*» . فى ضوء العبارة السابقة :

تغير هذا النظام على يد الملك .....

(أ) حمورابى.
(ب) سرجون الأول.
(جـ) نبوخذ نصر الثانى.
(د) سرجون الثانى.

---

٣١ تُعد أكثر الحدود التى شكلت تهديدًا لحضارات بلاد ما بين النهرين الحدود .....

(أ) الغربية والشرقية.
(ب) الشمالية والجنوبية.
(جـ) الغربية والجنوبية.
(د) الشرقية والشمالية.

---

٣٢ تمثل الدرس المستفاد من سقوط الدولة الآشورية .....

(أ) الجيوش القوية تبنى الإمبراطوريات.
(ب) الأمن ضرورى لاستقرار البلاد.
(جـ) حُسن إدارة الموارد يحقق الاستقرار السياسى.
(د) منطق القوة يمنح السلام.

٣٣ فقدت مصر القديمة قبل الأسرة الـ ١٩ نفوذها فى سوريا لأسباب ترتبط فى المقام الأول بالنواحى .....

(أ) الاقتصادية.
(ب) الدينية.
(جـ) السياسية.
(د) العسكرية.

٣٤ نستنتج من الخريطة المقابلة أن المنفذ البحرى المباشر لتجارة بلاد العراق القديم طوال تاريخها كان يصلها بـ .....

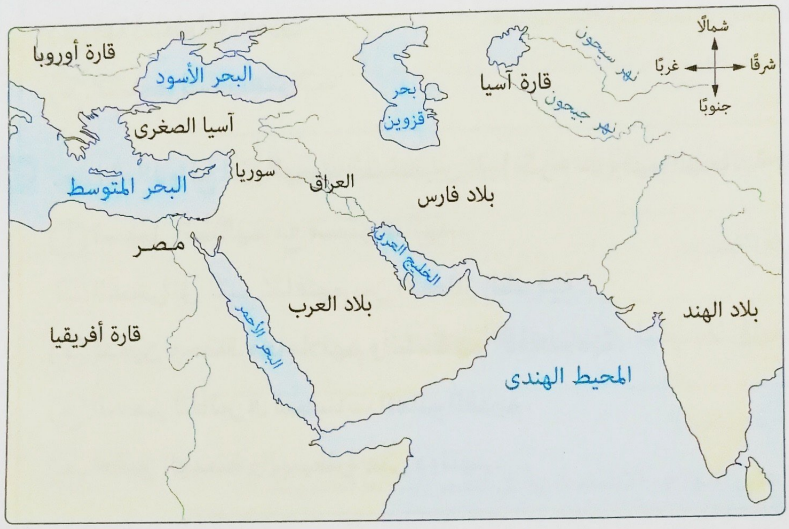

(أ) دول حوض البحر المتوسط.
(ب) بلاد الهند.
(جـ) بلاد الشام.
(د) آسيا الصغرى.

٣٥ يعد صاحب الصورة التى أمامك نقطة تحول فى تاريخ بلاد العراق القديم لأن فى عهده .....

الملك سرجون الأول

(أ) طُبقت مبادئ الديمقراطية لأول مرة.
(ب) وصلت البلاد للنضج السياسى.
(جـ) أصبحت شبه الجزيرة العربية جزءًا من مملكته.
(د) تم اختراع الكتابة المسمارية.

ب اختر إجابتين صحيحتين من بين البدائل التالية :

٣٦ «كان الملك وكيل المعبود فى حكم البلاد والمعبود هو الحاكم الحقيقى» . فى ضوء العبارة السابقة : اصطبغت الحياة السياسية بالدين فى بلاد العراق القديم وظهر ذلك من خلال ..... و .....

(أ) التوسعات والحروب الخارجية.
(ب) التشريعات والقوانين.
(جـ) تتويج الملك.
(د) العلاقات التجارية.
(هـ) العلاقات الخارجية.

٣٧ نشطت حركة الملاحة فى فينيقيا وتطورت نتيجة ..... و .....

(أ) ظروفها السياسية.

(ب) ظروفها الجغرافية.

(جـ) ازدهار التجارة مع الشرق.

(د) قوة أسطولها الحربى.

(هـ) إنشاءها للمستعمرات.

٣٨ تعددت الدوافع التى ألهمت الفينيقيين إلى اختراع حروفهم الهجائية ومنها ..... و .....

(أ) تسهيل اتصالهم مع مستوطناتهم.

(ب) السعى إلى نشر ثقافتهم بين الأقطار الشرقية.

(جـ) تدوين وحفظ معاملاتهم وأنشطتهم الاقتصادية.

(د) السعى للتأثير فى سياسات العالم القديم.

(هـ) تحقيق الهيمنة والسيطرة على دولتهم.

٣٩ *«نجح ملوك مصر الأقوياء فى توسيع ممتلكاتهم وتكوين إمبراطورية واسعة لا سيما فى عهد الملك تحتمس الثالث الذى سيطر على سوريا»*. فى ضوء العبارة السابقة :

كان قيام المصرى القديم بالسيطرة على المناطق المجاورة هدفه ..... و .....

(أ) تأمين مصادر الغذاء لشعب مصر.

(ب) حماية مصر من الهجمات الخارجية.

(جـ) استغلال ثروات تلك المناطق.

(د) تنشيط التجارة بين مصر والدول المجاورة.

(هـ) نشر الحضارة المصرية فى العالم القديم.

جـ أسئلة المقال :

٤٠ دلل : تشابهت استراتيجية الفينيقيون فى الزراعة على المناطق الجبلية مع أحد الإبداعات المعمارية الكلدانية فى بلاد العراق القديم.

٤١ حدد العلاقة بين : السومريين، والزاقورات.

٤٢ حدد الأثر الدال على :

وصول عمارة بلاد العراق القديم لقمة ازدهارها فى عصر الدولة الكلدانية.

٤٣ من خلال دراستك لتاريخ بلاد العراق القديم،
ما تقييمك لـ : سياسة الملك سنحاريب ؟

٤٤ فسر : فشل الإمبراطورية الآشورية فى الاستمرار طويلًا.

٤٥ حدد العلاقة بين : حضارة جمدة نصر، والحضارة الفرعونية.

٤٦ حدد مدى مصداقية العبارة الآتية :
استفادت مصر الفرعونية فى العصر المتأخر من النشاط الرئيسى للحضارة الفينيقية.

٤٧ انقد : الهرم الاجتماعى لبلاد العراق القديم.

٤٨ استنتج العلاقة بين : الموقع الجغرافى لفينيقيا، والنشاط الاقتصادى.

٤٩ ما مدى مصداقية العبارة التالية تاريخيًا :
اقتصرت علاقة مصر مع فينيقيا على النواحى الاقتصادية فى عصر الدولة الحديثة ؟

٥٠ حدد العلاقة بين :
حجر بالرمو، والحضارة الفينيقية.

٥١ دلل تاريخيًا على صحة العبارة الآتية :
نجح الشعب الفينيقى فى التغلب على ظروف الموقع.

٥٢ حدد مظاهر الارتباط بين : الفينيقيين، والديانة المصرية القديمة.

الوحدة

4

حضارة اليونان وحضارة الرومان

الدرس الأول الحضارة اليونانية «الإغريقية» رائدة الفكر والثقافة الغربية.

الدرس الثانى مصر تحت حكم البطالمة.

الدرس الثالث الحضارة الرومانية.

الدرس الرابع مصر تحت حكم الرومان.

للتدريب على حل الامتحانات **إلكترونيًا** استخدم **QR Code** الموجود بجوار كل امتحان

- **أسئلة** على كل درس وفقًا للمعايير الجديدة.
- **امتحان تراكمى** بعد كل درس.
- **بنك أسئلة** على الوحدة الرابعة.

الدرس الأول

الحضارة اليونانية «الإغريقية» رائدة الفكر والثقافة الغربية

أهداف الدرس :

فى نهاية الدرس يتوقع أن يكون الطالب قادرًا على أن :

- يتعرف نشأة الحضارة اليونانية.
- يتتبع تطور الحضارة اليونانية.
- يرسم خريطة زمنية لأهم الأحداث التاريخية للحضارة اليونانية.
- يقارن بين النظام السياسى فى كل من إسبرطة وأثينا.
- يحدد أهم مظاهر الحضارة اليونانية.
- يقدر دور بعض الشخصيات التاريخية فى تطور الحضارة اليونانية.
- يبحث عن معلومات تاريخية ذات صلة بالحضارة الإغريقية من الإنترنت.
- يحدد الطابع المميز للحضارة اليونانية.
- يستخلص أهم القيم الأخلاقية التى سادت الحضارة اليونانية.

القضايا المتضمنة :

- التربية من أجل المواطنة.
- التواصل الحضارى.
- الديمقراطية.

فى هـذا الدرس نتعــرف

أهم حضارات بلاد اليونان «الإغريق»

مظاهر حضارة بلاد اليونان «الإغريق» والتواصل الحضارى بين مصر وبلاد اليونان

* ساعد الموقع الجغرافى لبلاد اليونان «الإغريق»، وقربها من منبع حضارات الشرق القديم (مصر، فينيقيا، بلاد العراق) على التواصل مع هذه الحضارات ونشرها فى كافة أنحاء أوروبا، وكانت جزيرتى كريت وقبرص المعبر الرئيسى لهذا التواصل الحضارى فنشأت بهما أقدم حضارات المنطقة والتى انتقلت إلى باقى بلاد اليونان، فكان لها الأثر الأكبر فى قيام الحضارات الغربية بعد ذلك.

الإغريق

هم سكان بلاد اليونان وكريت وقبرص والمناطق المجاورة الذين أسسوا حضارة كبيرة فى بلاد اليونان بدءًا من القرن الثامن قبل الميلاد.

أهم حضارات بلاد اليونان «الإغريق»

حضارة مدينة أثينا

- نشأت داخل إقليم أتيكا.
- عُرفت بنظامها الديمقراطى «وتعد فكرة الديمقراطية أهم ما قدمته أثينا للإنسانية».
- تميزت بتنوعها الجغرافى، والذى أدى إلى اختلاف نشاط السكان واختلاف مستوياتهم الاجتماعية.

حضارة مدينة إسبرطة

- نشأت باندماج عدد من القرى الصغيرة.
- عُرفت بنظامها العسكرى الصارم الذى طُبق فى كافة نواحى الحياة من أجل إعداد مواطنين قادرين على القتال، وقد انعكس هذا النظام العسكرى فى التربية على كافة مجالات الحياة الاجتماعية، والسياسية، والثقافية، والفكرية.

حضارة جزيرة كريت

- ارتبطت بالحضارة المصرية القديمة وتأثرت بها.
- سُميت بالحضارة المينوية لأن كل ملوكها كانوا يحملون لقب «مينوس» مثل لقب فرعون فى الحضارة المصرية القديمة.

سؤال وجواب

س كانت المنطقة التى شهدت ميلاد فجر الحضارة الأوروبية القديمة .....

(أ) إسبرطة.
(ب) كريت وقبرص.
(جـ) أثينا.
(د) مقدونيا.

جـ (ب) سبب الإجابة : حيث كانت جزيرتا كريت وقبرص المعبر الرئيسى للتواصل الحضارى بين الإغريق وحضارة الشرق القديم فنشأت بهما أقدم حضارات المنطقة والتى انتقلت إلى كافة أنحاء أوروبا.

مظاهر حضارة بلاد اليونان «الإغريق» والتواصل الحضارى بين مصر وبلاد اليونان

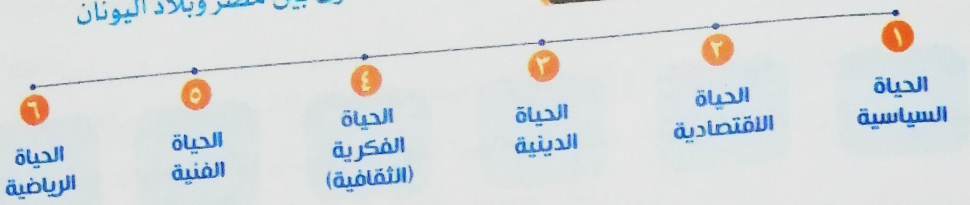

١ الحياة السياسية

إسبرطة

* قامت الحياة السياسية فيها على النظام العسكرى الصارم ومن خلاله سيطرت إسبرطة على بلاد الإغريق لمدة ٢٠٠ عام حتى سقطت فى القرن الـ ٤ ق . م على يد «المقدونيين».
* تكون نظام الحكم فيها من :

١ الملكان

- يُنتخبان مدى الحياة من أكبر أسرتين فى المدينة.
- سلطاتهما :
  - إعلان الحرب وقيادة الجيش.
  - رئاسة الهيئة القضائية وتقدم المواكب الدينية.

٢ مجلس الشيوخ

- يتكون من : ٢٨ عضوًا بالإضافة إلى الملكين فيكون عدد أعضائه ٣٠ عضوًا يُنتخبون مدى الحياة من المواطنين الذين بلغوا سن الـ ٦٠ عامًا.
- سلطته : تشريع القوانين ومناقشتها.

٣ الجمعية الشعبية

دورها : التصويت بالرفض أو القبول على القوانين التى يعرضها مجلس الشيوخ.

٤ الرقباء الشعبيون

- يتكونون من : ٥ أعضاء يتم انتخابهم سنويًا.
- دورهم :
  - ممارسة سلطات تنفيذية وقضائية.
  - مراقبة السلوك والأخلاق وحفظ الأمن.

٥ الجيش

كان محور الحياة فى إسبرطة ويلتحق به كل من بلغ سن الـ ٢٠ عامًا ويظل جنديًا فى الجيش حتى سن الـ ٦٠ عامًا.

أثينا مر نظام الحكم فيها بعدة مراحل، هى :

١ **النظام الملكى**

٢ **النظام الأرستقراطى** وفيه : امتلك الأرستقراطيون كافة الموارد الاقتصادية فى المدينة مما أدى إلى زيادة الفقر داخل المجتمع وقيام سكانها بالثورة ضد هذا النظام، لذلك اضطر الحكام إلى تقديم بعض الحلول لترضيتهم وهو ما أدى إلى تطور نظام الحكم إلى النظام الديمقراطى.

٣ **النظام الديمقراطى** توصلت إليه أثينا من خلال إصلاحات وإصدار عدة تشريعات قام بها حكامها خاصة سولون وبركليس :

* **سولون (٥٩٤ : ٥٩٣ ق.م) :**

- قام بوضع عدة تشريعات وإصلاحات، منها :
  - تشجيع العمل والإنتاج.
  - توفير فرص عمل للعامة.
  - إسقاط الديون.
  - تحديد حد أقصى للمصروفات على الحفلات.

من أقواله

«إن من الصعب على من يقوم بأعمال عظيمة أن يرضى الجميع».

سولون

تخلى سولون عن حكم أثينا بعد أن أخذ عهدًا على الأثينيين بالالتزام بتطبيق إصلاحاته لمدة عشر سنوات وسافر لمصر ليطلع على حضارتها ويستفيد من إنجازاتها.

* **بركليس (٤٦٧ : ٤٢٨ ق.م) :**

- بلغت الديمقراطية ذروتها فى عهده.
- انضم إلى العامة رغم كونه من أسرة غنية وقام بالعديد من الإصلاحات.
- كان مؤمنًا بأن التربية الاجتماعية السليمة هى السبيل لارتقاء شعب أثينا.

* على الرغم من تلك الإصلاحات جميعًا إلا أن الديمقراطية فى أثينا كان لها عيوبها ومميزاتها.



بركليس

الديمقراطية فى أثينا

عيوبها

لم تكن الديمقراطية فى أثينا كاملة بسبب :

- اقتصار الحقوق الانتخابية والتشريعية على الأحرار فقط ولا يجوز للعبيد أو الأجانب الاشتراك فيها.
- حرمان النساء من مباشرة حقوقهن السياسية والتشريعية.

مميزاتها

أتاحت الديمقراطية حرية الفكر والإبداع مما أدى إلى :

تفوق أثينا فى الفنون والآداب والعمارة وظهور الفلاسفة والمفكرين حتى أصبحت رائدة بلاد اليونان فى القرنين الخامس والرابع قبل الميلاد فى كافة المجالات.

توضيح

توجد علاقة بين الحرية والتطور الفكرى الإبداعى حيث :

قال ول ديورانت : إذا ما أمن الإنسان من الخوف تحررت فى نفسه دوافع التطلع وعوامل الإبداع، فهى علاقة ارتباطية وهى وجهين لعملة واحدة تمثل خاصية من خصائص الإنسان فالإبداع يمثل للإنسان هدفه الأول لذلك تسعى الحرية إلى تحقيق هذا الهدف الذى يضمن للإنسان تحقيق سعادته ورفاهيته فلا إبداع بدون حرية.

مقدونيا (تسيطر على بلاد اليونان)

* أدى قيام الحروب بين أثينا وإسبرطة عام ٤٤١ ق.م (حروب البيلوبونيز) إلى ضعف المدن اليونانية إلى أن تمكن فيليب الثانى المقدونى من فرض حكمه بالقوة على بلاد اليونان كلها، وحاول إقناعهم بتوحيد الصف تحت رايته لمواجهة الفرس.

وبعد ... وفاة الملك فيليب الثانى تولى الحكم ابنه الإسكندر، وكان عمره ٢٠ عامًا وخلال حكمه سعى إلى تحقيق مبدأ (العالم وطن واحد) فحارب الفرس فى آسيا الصغرى وهزمهم ثم اتجه نحو الشرق للسيطرة على باقى الولايات الفارسية (مثل سوريا ومصر) ليكون إمبراطورية يونانية (مقدونية).

التواصل السياسى بين مصر وبلاد اليونان

* فى فترة حكم الأسرة الفرعونية الـ ٢٦ توطدت العلاقات بين مصر واليونان حيث جُند اليونانيون كمرتزقة فى الجيش المصرى.

* فى عام ٣٣٢ ق.م تمكن الإسكندر الأكبر المقدونى من الاستيلاء على مصر وعمل على مزج الحضارة المصرية القديمة بالحضارة اليونانية فيما عُرف باسم «الحضارة الهيلينستية».

سؤال وجواب

س١ تدل مشاركة الملكين فى عضوية مجلس الشيوخ فى إسبرطة على .....

(أ) ديمقراطية نظام الحكم.
(ب) عدم الفصل بين السلطات.
(جـ) الحرص على مصالح الشعب.
(د) السلطة الاستشارية للملكين.

جـ (ب) سبب الإجابة : حيث يمثل مجلس الشيوخ السلطة التشريعية وطبيعة عمل الملكين إعلان الحرب وقيادة الجيش وهى تمثل أعمال السلطة التنفيذية مما يدل على عدم الفصل بين السلطات.

س٢ انبثق نظام الحكم الديمقراطى فى أثينا من النظام .....

(أ) الملكى.
(ب) الجمهورى.
(جـ) الأرستقراطى.
(د) الإمبراطورى.

جـ (جـ) سبب الإجابة : حيث أدى امتلاك الأرستقراطيين لكافة الموارد الاقتصادية فى أثينا إلى زيادة الفقر داخل المجتمع وقيام سكانها بالثورة ضدهم، فاضطر الحكام إلى تقديم بعض الحلول لترضيتهم مما أدى إلى تطور نظام الحكم إلى النظام الديمقراطى.

٢ الحياة الاقتصادية

* ساعدت الطبيعة الجغرافية لبلاد اليونان من حيث الموقع البحرى، والتضاريس (الطبيعة الجبلية)، والمناخ على التنوع فى النواحى الاقتصادية، والتى تمثلت فى :

الزراعة

* قام اليونانيون بزراعة أراضى الوديان والسهول والتى تبلغ ٢٠ ٪ فقط من المساحة الكلية.
* انقسمت الأراضى الزراعية إلى :
  - إقطاعات كبيرة.
  - أراضٍ للأفراد.
  - أراضٍ للمراعى.



الزراعة فى بلاد اليونان

تربية الحيوان

اهتم اليونانيون بالثروة الحيوانية لحاجاتهم للحومها وأصوافها وألبانها.

الصناعة

* برع اليونانيون فى صناعة :
  - السفن (لطبيعة البلاد الجغرافية).
  - زيت الزيتون.
  - النبيذ.
  - الأوانى الفخارية.

الصناعة فى بلاد اليونان

التجارة

* تُعد أهم الأنشطة الاقتصادية فقد تحولت موانئ بلاد اليونان إلى محطات تجارية لتبادل السلع بين اليونان وبلاد الشرق فقامت اليونان بـ :
  - تصدير الرخام والمعادن والنبيذ والزيوت.
  - استيراد الأقمشة والحبوب من مصر وسوريا.

التجارة فى بلاد اليونان

التواصل الاقتصادى بين مصر وبلاد اليونان

* أثناء العصر المتأخر لمصر الفرعونية :
  - اشتغل بعض اليونانيين فى مصر بالتجارة وأسسوا فيما بعد مدينة خاصة بهم على الطراز الإغريقى سُميت بـ «نقراطيس» (بمحافظة البحيرة حاليًا).
  - وفد الصناع اليونانيون إلى مصر حيث ارتقت صناعة الزجاج والأوانى الفخارية بها، كما وفد إليها الفنانون.

سؤال و جواب

س١ تمثل العامل الرئيسى فى ارتقاء صناعة الزجاج والأوانى الفخارية بمصر خلال العصر المتأخر فى .....

(أ) حاجة الإغريق لهذه الصناعات.
(ب) تأثر الصناع بالخبرات الخارجية.
(جـ) اهتمام الدولة بتشغيل الأيدى العاملة.
(د) التقدم العلمى للمصريين.

جـ (ب) سبب الإجابة : حيث ساهم الإغريق الذين هاجروا إلى مصر خلال العصر المتأخر فى ازدهار صناعة الزجاج والأوانى الفخارية بعد أن نقلوا خبراتهم إلى المصريين.

س٢ «كانت الظروف الجغرافية لبلاد اليونان القديم المحدد الأساسى للأنشطة الاقتصادية».
أيد صحة العبارة السابقة تاريخيًا.

جـ حيث استغل اليونانيون :
- جميع المساحات التى يمكن زراعتها من أراضى الوديان والسهول والتى بلغت ٢٠ ٪ فقط من المساحة الكلية لليونان.
- الطبيعة الجبلية فى استخراج الرخام وتصديره.
- الطبيعة البحرية فى نشاطهم التجارى فتحولت موانئ اليونان إلى محطات تجارية لتبادل السلع كما برعوا فى صناعة السفن.

٣ الحياة الدينية

* بالرغم من اختلاف النظم السياسية والاجتماعية بين المدن اليونانية إلا أن القاسم المشترك بينها كان فى الحياة الدينية، حيث :

- آمنوا بقوى الطبيعة وزعموا أن لكل منها إلهًا يوجهها.
- اعتقدوا أن الآلهة أُسرة تُقيم فوق قمة جبل الأوليمبوس وجعلوها على صورة بشر، ومن أهم هذه الآلهة :

الإله زيوس (كبير الآلهة اليونانية).


الإله زيوس

- عرفوا الطقوس الدينية المتعددة واستعانوا بالموسيقى كعنصر مهم فى أدائها، ومن هذه الطقوس :
  - المواكب الجنائزية.
  - الأناشيد والقرابين.
- اعتقدوا فى السحر.

التواصل الدينى بين مصر وبلاد اليونان

* تأثر الإغريق بالديانة المصرية القديمة، حيث أصبحت عبادة الإلهة إيزيس عبادة شائعة فى بلاد الإغريق،

لذلك ... عندما جاء الإسكندر الأكبر إلى مصر، قام بـ :

- تقديم القرابين للمعبودات المصرية.
- اتخاذ الألقاب الفرعونية.
- اتخاذ شعار قرنى الكبش المقدس للإله آمون رمزًا له.

٤ الحياة الفكرية (الثقافية)

* تعددت جوانب الحياة الفكرية، أهمها : الفلسفة | الأدب | التاريخ | العلوم

الفلسفة

* تُعد الفلسفة اليونانية من أعظم ما تركه اليونانيون للفكر الإنسانى حيث أعملوا عقولهم فى تحليل مشكلات الحياة والتعرف على أسرار الكون.

* من أشهر فلاسفة اليونان :

سقراط	قامت فلسفته على إعمال العقل فى كل شىء.
أفلاطون	اتسمت مدرسته بالطابع العلمى فى التفكير.
أرسطو	• أسس مدرسة تعتمد على الفكر التاريخى وعلم الأحياء. • أطلق عليه العرب «المعلم الأول» لأنه بحث فى كثير من العلوم بجانب الفلسفة.

سقراط

من أقواله

«إن البحث عن الحقيقة والحق والجمال والخير هو أسمى الغايات، وأن على المرء ألا يخشى أحدًا مادام يتبع سبيل العقل والضمير».

أفلاطون

أرسطو

الأدب

* تميز التراث الأدبى اليونانى بالثراء والتنوع ويُعد الشعر أهم ما يمثله، وقد انقسم إلى :

شعر الملاحم	مثل ملحمة الإلياذة والأوديسة للشاعر الشهير «هوميروس» صاحب الفضل فى نشر التراث الثقافى البطولى لليونان قديمًا.
الشعر الغنائى	الذى يتضمن شعر الحماس والغزل والرثاء، ومن أشهر شعرائه «أرخيلوخس».


هوميروس

التاريخ

* تطورت الكتابة التاريخية من شعر الملاحم المعتمد على الأسطورة إلى الكتابة التاريخية المعتمدة على الحقائق وتحليلها.

* من أشهر مؤرخى اليونان الذين كتبوا تاريخ الإغريق :

هيرودوت	الذى لُقب بـ «أبو التاريخ».
بوليبيوس	• أحد أعظم المؤرخين فى القرن الـ ٢ ق . م. • كتب كثيرًا عن مصر خاصة فى العصر البطلمى. • أشهر ما كتبه كتاب «فى التاريخ العام».
استرابون	• زار مصر بين عامى ٢٥ : ٢٠ ق.م. • أشهر مؤلفاته كتاب «الجغرافيا» الذى يتكون من ١٧ جزءًا، وتحدث عن مصر فى الجزء الـ ١٧ منه.

هيرودوت


بوليبيوس

استرابون

العلوم

* استمد اليونانيون الكثير من أصول العلم من الحضارة المصرية القديمة حيث نجحوا فى تحويل الكثير من تجارب وخبرات المصريين القدماء إلى نظريات علمية.

* تقدمت العلوم فى العصر الذهبى لأثينا خاصة فى مجال الطب حيث توصلوا إلى أن :

- المخ (هو) المتحكم فى كل أعضاء الجسم وهو مركز الإحساس.
- القلب (هو) الذى يضخ الدم فى الشرايين.

من أشهر الأطباء اليونانيين (الإغريق) أبو قراط الذى لقب بـ «أبو الطب».

التواصل الثقافى بين مصر وبلاد اليونان

* حرص كثير من مفكرى الإغريق وعلماؤهم على زيارة مصر والالتقاء بالكهنة العلماء المصريين والاطلاع على مكتبات المعابد المصرية لينقلوا العلوم المصرية إلى بلاد اليونان.

سؤال و جواب

س تدين بلاد اليونان فى إعمال العقل وتحليل المشكلات إلى حضارة مدينة .....

(أ) كريت. (ب) إسبرطة. (جـ) أثينا. (د) طروادة.

جـ سبب الإجابة : حيث ظهر الفلاسفة فى أثينا ومنهم سقراط الذى قامت فلسفته على إعمال العقل فى كل شىء وأفلاطون الذى اتسمت مدرسته بالطابع العلمى فى التفكير كذلك أرسطو الذى أسس مدرسة تعتمد على الفكر التاريخى.

٥ الحياة الفنية

* عاش الفنان اليونانى «فى خياله» قريبًا من الآلهة يتأمل عالمهم العلوى وما فيه من قيم ومُثل، وقد عبر عنها فى أعماله الفنية التى لم تكرس للمعابد فقط، بل أصبحت مظهرًا بديعيًا انتشر فى :

- أفاريز الأبنية.(*)
- تيجان الأعمدة.
- الملاعب.
- المسارح.
- داخل البيوت.

تيجان الأعمدة

جوانب الحياة الفنية تمثلت فى :

العمارة

* تُعد المعابد من أهم مظاهر النشاط المعمارى اليونانى، وتطورت من البساطة إلى مستوى رفيع من الفن.
* من أشهر المعابد : معبد البارثنون الذى أقامه الزعيم بركليس على قمة الأكروبول لعبادة «الإلهة أثينا» عام ٤٤٧ ق.م، ويُعد قمة تطور العمارة اليونانية.

النحت

برع اليونانيون القدماء فى فن النحت، ويُعد فيدياس «عميد النحاتين» فى اليونان ومن أشهر أعماله تمثال زيوس الذى يُعد من عجائب الدنيا السبع.

التواصل الفنى بين مصر وبلاد اليونان

* يرجع الفن اليونانى (الإغريقى) إلى أصول شرقية حيث انتقل الفن من حضارات الشرق إلى بلاد اليونان من خلال الأيونيين الذين استقروا فى جزر بحر إيجة وساحل آسيا الصغرى الغربى وكانت لهم صلات قوية بحضارات الشرق القديم (مصر وسوريا).
* ظهر تأثر الفن اليونانى بالفن المصرى القديم فى مجال العمارة فى :

(١) قصر الملك مينوس.

(٢) معبد البارثنون بأثينا وما به من أعمدة دورية ذات أصول مصرية.

وهكذا ... كان الفن المصرى بمثابة القاعدة التى قام عليها الفن اليونانى.

(*) الإفريز : هو شريط زخرفى بارز يُشكَّل أعلى جدران المبانى.

معلومة إثرائية

«معبد البارثنون»

استخدم لعبادة ثلاثة أديان ففى عهد المسيحية استبدلت العذراء أثينا (آلهة الحكمة والقوة والحرب عند الإغريق) بالعذراء مريم وأصبح البارثنون فى أواخر القرن الخامس الميلادى أول كنيسة مسيحية بيزنطية ثم أصبح كاتدرائية كاثوليكية تحت النفوذ الفرنسى ثم أصبح مسجدًا تحت الحكم الإسلامى التركى عام ١٤٥٨م وهو الآن متحف مفتوح للدارسين والمستمتعين بالفنون.



معبد البارثنون

٦ الحياة الرياضية (الألعاب الأوليمبية)

* أقام اليونانيون فى مدينة «أوليمبيا» مباريات رياضية واسعة النطاق تشترك فيها كل المدن اليونانية لذلك أطلق عليها «الألعاب الأوليمبية»، وكانت أول دورة للألعاب الأوليمبية عام ٧٧٦ ق.م، وقد اكتسبت هذه الألعاب أهمية تاريخية مع مرور الوقت.
* استمرت الألعاب الأوليمبية لمدة تزيد على ١٠٠٠ عام، حتى أوقفها أحد الأباطرة الرومان، ثم ظهرت مرة أخرى فى نهاية القرن الـ ١٩م ليشترك فيها كافة بلاد العالم.

سؤال وجواب

س١ ظهر تأثر الحضارة اليونانية قديمًا بالحضارة الفرعونية خاصة فى بناء .....

(أ) المقابر.
(ب) المعابد.
(جـ) المدن.
(د) المسارح.

جـ (ب) سبب الإجابة : حيث ظهر تأثر الحضارة الإغريقية بالحضارة المصرية القديمة فى بناء المعابد كما فى معبد البارثنون بأثينا وما به من أعمدة دورية ذات أصول مصرية.

س٢ شهدت بلاد اليونان قديمًا نوعًا من الوحدة قبل تولى فيليب الثانى المقدونى الحكم من خلال .....

(أ) ممارسة الألعاب الرياضية.
(ب) الاهتمام بالعلوم الفلسفية.
(جـ) توحيد الأنشطة الاقتصادية.
(د) توحيد النظم السياسية.

جـ (أ) سبب الإجابة : حيث اشتركت كل المدن اليونانية فى مباريات رياضية واسعة النطاق فى مدينة أوليمبيا لذلك أطلق عليها «الألعاب الأوليمبية».

أهم حضارات اليونان (الإغريق)

① حضارة جزيرة كريت

ارتبطت بالحضارة المصرية القديمة وتأثرت بها.

② حضارة مدينة إسبرطة

نشأت باندماج عدد من القرى الصغيرة، وعُرفت بنظامها العسكرى الصارم.

③ حضارة مدينة أثينا

نشأت داخل إقليم أتيكا، وعُرفت بنظامها الديمقراطى.

مظاهر حضارة بلاد اليونان

الحياة السياسية

* **فى إسبرطة :** تكون نظام الحكم من : الملكين، مجلس الشيوخ، الجمعية الشعبية، الرقباء الشعبيون، الجيش.
* **فى أثينا :** مر نظام الحكم بعدة مراحل هى : النظام الملكى، النظام الأرستقراطى، النظام الديمقراطى.

الحياة الاقتصادية

اهتم اليونانيون بالزراعة، وبرعوا فى الصناعة، أما التجارة فكانت أهم الأنشطة الاقتصادية عندهم فقد تحولت موانئ بلاد اليونان إلى محطات تجارية لتبادل السلع بين اليونان وبلاد الشرق.

الحياة الدينية

كانت الحياة الدينية القاسم المشترك بين المدن اليونانية بالرغم من اختلاف النظم السياسية والاجتماعية بينهم حيث آمنوا بقوى الطبيعة وزعموا أن لكل منها إله.

الحياة الفكرية (الثقافية) تعددت جوانب الحياة الفكرية وأهمها :

* **الفلسفة :** تُعد من أعظم ما تركه اليونانيون للفكر الإنسانى ومن أشهر فلاسفة اليونان : سقراط، أفلاطون، أرسطو.
* **الأدب :** تميز بالثراء والتنوع، ويعد الشعر أهم ما يمثله وقد انقسم إلى : شعر الملاحم، الشعر الغنائى.
* **التاريخ :** تطورت الكتابة التاريخية من شعر الملاحم المعتمد على الأسطورة إلى الكتابة التاريخية المعتمدة على الحقائق وتحليلها، ومن أشهر المؤرخين اليونان : هيرودوت، بوليبيوس، استرابون.
* **العلوم :** استمد اليونانيون الكثير من أصول العلم من الحضارة المصرية القديمة.

الحياة الفنية

تمثلت فى : العمارة، والنحت.

الحياة الرياضية

اشتهرت اليونان بالألعاب الأوليمبية وقد اكتسبت أهمية تاريخية مع مرور الوقت.

التواصل الحضارى بين مصر وبلاد اليونان

التواصل السياسى

* توطدت العلاقات بين مصر واليونان فى فترة حكم الأسرة الـ ٢٦ الفرعونية.
* استولى الإسكندر الأكبر على مصر عام ٣٣٢ ق.م وعمل على مزج الحضارة المصرية القديمة بالحضارة اليونانية فيما عُرف بالحضارة الهيلينستية.

التواصل الاقتصادى

* اشتغل بعض اليونانيين بمصر فى العصر المتأخر بالتجارة وأسسوا فيها مدينة «نقراطيس».
* وفد الصناع اليونانيون إلى مصر وارتقت صناعة الزجاج والأوانى الفخارية.

التواصل الدينى

تأثر الإغريق بالديانة المصرية القديمة وعبدوا الإلهة إيزيس.

التواصل الثقافى

حرص كثير من مفكرى الإغريق وعلماؤهم على زيارة مصر لنقل العلوم المصرية إلى بلاد اليونان.

التواصل الفنى

كان الفن المصرى بمثابة القاعدة التى قام عليها الفن اليونانى.

أسئلة

الدرس الأول

● فهم ● تطبيق ● تحليل ● تقويم ● ابتكار

أ اختر الإجابة الصحيحة من بين البدائل التالية :

١ تشابهت السياسة الخارجية لإسبرطة مع سياسة الدولة .....

(أ) السومرية.
(ب) الفينيقية.
(ج) الآشورية.
(د) الأكادية.

٢ جاء فى تشريعات سولون : «*توفير فرص عمل للعامة*» .

فى ضوء النص السابق : كان الهدف الرئيسى لسولون من ذلك .....

(أ) مواجهة طبقة الأغنياء.
(ب) دعم الاستقرار السياسى.
(ج) حل مشكلة الديون الخارجية.
(د) القضاء على الأرستقراطية.

٣ عند تحليل الأحداث التاريخية لمدينة أثينا نجد أنها تتفق مع أقرب الحضارات الشرقية لها من حيث .....

(أ) النضج السياسى.
(ب) النشاط الاقتصادى.
(ج) تطبيق الديمقراطية.
(د) القوة العسكرية.

٤ يواجه الإنسان خلال حياته العديد من العقبات، وقد سعى الإغريق قديمًا لتحليل ودراسة تلك العقبات بواسطة جهود .....

(أ) الفلاسفة والمفكرين.
(ب) المشرعين والمؤرخين.
(ج) رجال الدين والعلماء.
(د) السياسيون والشعراء.

٥ يتضح من خلال دراسة تطور الاقتصاد الإغريقى أن الصناعات ذات الأولوية لمواطنى إسبرطة تمثلت فى .....

(أ) وسائل النقل البحرى.
(ب) النبيذ والزيوت.
(ج) أدوات الرى والزراعة.
(د) السيوف وأدوات القتال.

٦ ارتبط اختيار السلطة الحاكمة فى إسبرطة بالاعتماد على .....

(أ) الاعتبارات الطبقية.
(ب) الكفاءة العسكرية.
(جـ) الخبرة السياسية.
(د) العلم والثقافة.

٧ تستدل من تحليل الخريطة التى أمامك أن أولى مناطق أوروبا تأثرًا بحضارات بلاد الشرق القديم تمثلت فى المناطق الواقعة فى .....

(أ) جنوبها الغربى.
(ب) جنوبها الشرقى.
(جـ) شمالها الغربى.
(د) شمالها الشرقى.

٨ «كان الموقع الجغرافى سببًا فى الازدهار الاقتصادى فى كل من بلاد اليونان وفينيقيا».
نستدل من ذلك أن الصناعة المشتركة بينهم هى .....

(أ) السفن.
(ب) الأسلحة.
(جـ) ورق البردى.
(د) الثياب المزخرفة.

٩ «كانت بمثابة سوط العذاب لجيرانها بسبب شدتها فى الحكم». تنطبق العبارة السابقة على حضارة .....

(أ) كريت.
(ب) أثينا.
(جـ) إسبرطة.
(د) مقدونيا.

١٠ ترتب على الموقع الجغرافى لأثينا قديمًا .....

(أ) قيام النظام الديمقراطى فى الحكم.
(ب) الاهتمام بالجيش والأسطول.
(جـ) ازدهار النشاط التجارى.
(د) الاعتماد على الزراعة بشكل أساسى.

١١ ركزت إصلاحات بركليس للوصول إلى الديمقراطية الكاملة فى بلاد اليونان على .....

(أ) تحقيق نهضة اقتصادية شاملة.
(ب) الاهتمام بالجوانب العلمية والثقافية.
(جـ) التركيز على التربية العسكرية الصارمة.
(د) الارتقاء بمستوى القيم والأخلاق.

١٢ حققت مصر بعض المكاسب من التواصل الحضارى مع الإغريق خلال العصر المتأخر فى المجالات .....

(أ) السياسية والدينية.

(ب) الاقتصادية والدينية.

(جـ) العسكرية والثقافية.

(د) الاقتصادية والعسكرية.

١٣ تمثل السبب الرئيسى فى تغير نظم الحكم فى أثينا للوصول إلى الديمقراطية فى .....

(أ) الحرية والديمقراطية السائدة.

(ب) تأثر أثينا بالحضارات المجاورة.

(جـ) قوة الطبقة الأرستقراطية.

(د) توجهات حكام أثينا.

١٤ ظهر مفهوم عالمية الحضارة الإنسانية على يد .....

(أ) الإسكندر الأكبر.

(ب) سولون.

(جـ) فيليب المقدونى.

(د) بركليس.

١٥ ظهر أكبر اتساع للحضارة الإغريقية على يد أحد ملوك .....

(أ) إسبرطة.

(ب) مقدونيا.

(جـ) أثينا.

(د) كريت.

١٦ أى من المناطق التالية يمكن اعتبارهما النواة الأولى للحضارات الأوروبية ؟ .....

(أ) كريت وقبرص.

(ب) إسبرطة وأثينا.

(جـ) أثينا و مقدونيا.

(د) كريت و إسبرطة.

١٧ إذا اخترت أن تدرس آخر تطور للفن المعمارى فى حضارة بلاد اليونان قديمًا فأنك بالتأكيد ستتجه إلى .....

(أ) مدينة إسبرطة.

(ب) مدينة أثينا.

(جـ) جزيرة قبرص.

(د) جزيرة كريت.

١٨ تُعد أعمال هوميروس من أفضل ما أنتجته الحضارة الإغريقية لأنها .....

(أ) مرجعًا مهمًا للعلوم الإغريقية.

(ب) سجلت تاريخ الفنون الإغريقية.

(جـ) رسخت الأعمال العسكرية للإغريق.

(د) رسمت صورة صادقة للمجتمع الإغريقى.



هوميروس

١٩ استطاعت مقدونيا السيطرة على بلاد اليونان قديمًا وقد ساعدها على ذلك .....

(أ) الطبيعة الجبلية لبلاد اليونان.
(ب) انشغال أثينا بالنواحى الثقافية.
(جـ) كثرة حروب إسبرطة الخارجية.
(د) الحروب الداخلية بين المدن اليونانية.

٢٠ يمثل مجلس الشيوخ فى إسبرطة فى الوقت الحالى .....

(أ) الحكومة المحلية.
(ب) مجلس النواب.
(جـ) الحكومة المركزية.
(د) مجلس الوزراء.

٢١ «*الشعوب وحدها مالكة الإرادة وصانعة التغيير*».
تنطبق العبارة السابقة على أسباب تطور الحكم فى مدينة .....

(أ) كريت.
(ب) أثينا.
(جـ) إسبرطة.
(د) مقدونيا.

٢٢ يعود تقدم العلوم خلال العصر الذهبى لأثينا إلى .....

(أ) تواصلها السياسى مع مصر.
(ب) نظم الحكم السائدة.
(جـ) ارتباط العلوم بالدين.
(د) قدوم العلماء إليها.

٢٣ أفاد شعر الملاحم فى بلاد اليونان كل من .....

(أ) الأدب والعلوم.
(ب) الفلسفة والتاريخ.
(جـ) العلوم والفلسفة.
(د) التاريخ والأدب.

٢٤ أمامك خريطة لحضارات بلاد اليونان القديم نستنتج من خلالها أقرب المعابر بينها وبين حضارات الشرق القديم هى .....

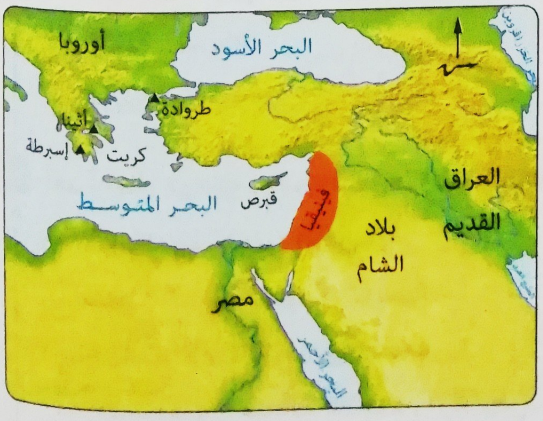

(أ) طروادة.
(ب) كريت.
(جـ) قبرص.
(د) إسبرطة.

٢٥ تأثر الكثير من الفلاسفة اليونانيين بالعلوم الطبيعية وكان من أشهرهم .....

(أ) أفلوطين.
(ب) أرسطو.
(جـ) أفلاطون.
(د) سقراط.

٢٦ «*الحرية السياسية والحرية الفكرية جناحان يقودان المجتمع للتقدم*».

المقولة السابقة تنطبق على أعمال .....

(أ) الإسكندر.
(ب) فيدياس.
(جـ) فيليب الثانى.
(د) بركليس.

٢٧ نستنتج من الخريطة المقابلة تشابه تأثير الطبيعة الجغرافية لكل من حضارة بلاد الإغريق والحضارة .....

(أ) الآشورية.
(ب) الفينيقية.
(جـ) السومرية.
(د) الفرعونية.

٢٨ اتخذ الإسكندر الأكبر بعد دخوله مصر شعار قرنى الكبش المقدس للإله آمون رمزًا له كما فى الصورة المقابلة، ويدل ذلك على رغبته فى تحقيق أهداف .....

(أ) دينية.
(ب) سياسية.
(جـ) اقتصادية.
(د) اجتماعية.

٢٩ سافر سولون إلى مصر بعد تخليه عن حكم أثينا للاستفادة من .....

(أ) المكانة الاقتصادية لمصر.
(ب) المهارة العسكرية للمصريين.
(جـ) الخبرات السياسية للمصريين.
(د) التفوق العلمى للمصريين.

ب اختر إجابتين صحيحتين من بين البدائل التالية :

٣٠ تُعد أكثر العوامل تأثيرًا فى نشأة الحضارة الإغريقية ..... و .....

(أ) تنوع مواردها الطبيعية.
(ب) تطبيق قواعد الديمقراطية.
(جـ) موقعها الجغرافى المتميز.
(د) ظهور العلماء والفلاسفة بها.
(هـ) اتساع السهول الفيضية.

٣١ جاءت تشريعات سولون موجهة ضد الطبقة الأرستقراطية وتمثل هذا فى ..... و .....

(أ) تشجيع العمل والإنتاج.
(ب) إسقاط الديون.
(جـ) تحديد الإنفاق على الحفلات.
(د) توفير فرص عمل للعامة.
(هـ) اقتصار الحقوق الانتخابية على الأحرار.

٣٢ اختلفت المدن الإغريقية فى العديد من نواحى الحياة إلا أنها اتفقت فى ..... و .....

(أ) تطبيق النظم الديمقراطية.
(ب) التمسك بالهوية العقائدية.
(جـ) النزعة العسكرية فى التربية.
(د) نظم إدارة المدن والقوانين المطبقة.
(هـ) الحفاظ على التقاليد الإغريقية.

٣٣ يُعد العاملين المؤثرين فى تغير أنظمة الحكم الأثينية هما ..... و .....

(أ) التحركات الشعبية.
(ب) الصراع المسلح بين المدن.
(جـ) احتكار الطبقة العليا للسلطة.
(د) تدخل رجال الدين فى شئون الحكم.
(هـ) تشكيل التحالفات الخارجية ضدها.

جـ أسئلة المقال :

٣٤ **ما تقييمك لـ :** حروب البيلوبونيز عام ٤٤١ ق.م ؟

٣٥ **ما الدروس المستفادة من :** تأليف هوميروس ملحمة الإلياذة والأوديسة ؟

٣٦ **استنتج :** أهم القيم التى أكدت عليها تشريعات سولون فى أثينا.

٣٧ **دلل تاريخيًا على صحة العبارة الآتية :**

ارتباط اليونانيين بجبل أوليمبوس كان له دافع روحى وترفيهى.

تنويه

لمعرفة كيفية الوصول للإجابة الصحيحة
استخدم QR Code

امتحان تراكمى

أسئلة تفاعلية

● فهم ● تطبيق ● تحليل ● تقويم ● ابتكار

أ اختر الإجابة الصحيحة من بين البدائل التالية :

١ تخصص سكان المدن الداخلية بفينيقيا بالنقل البرى نتيجة .....

(أ) قربهم من حضارات الشرق.

(ب) ازدهار نشاطهم الزراعى والصناعى.

(جـ) ازدهار التجارة البحرية للمدن الساحلية.

(د) الصراع بينهم وبين المدن الساحلية.

٢ رغم التشابه الكبير بين العقيدة المصرية القديمة والعقيدة العراقية القديمة إلا أنهما اختلفا فى .....

(أ) فكرة تعدد الآلهة.

(ب) الإيمان بالحساب بعد الموت.

(جـ) تقديس ظواهر الطبيعة.

(د) الإيمان بالبعث والخلود.

٣ تشابهت عوامل سقوط إسبرطة وأثينا مع عوامل سقوط مدينتى .....

(أ) أورولجش.

(ب) نينوى وآشور.

(جـ) بابل وأكاد.

(د) جُبيل وسومر.

٤ كان النشاط الاقتصادى الأول فى المجتمع الفينيقى النشاط .....

(أ) الزراعى.

(ب) الصناعى.

(جـ) التجارى.

(د) التعدينى.

٥ كانت بلاد الإغريق بمثابة المعلم والأستاذ لحضارات القارة الأوروبية بفضل .....

(أ) اتساع إمبراطوريتها.

(ب) انتصاراتها العسكرية.

(جـ) التواصل الحضارى مع الشرق.

(د) تأثير العقيدة الدينية فى حضارتها.

٦ النص المقابل يدل على أسلوب التربية فى حضارة .....

وصية أم لابنها وهو ذاهب للقتال «عد بدرعك أو محمولًا عليه».

(أ) إسبرطة.

(ب) كريت.

(جـ) أثينا.

(د) مقدونيا.

٧ ظهر تأثير الفينيقيين على الحضارات الأخرى عن طريق .....

(أ) الصناعات الزجاجية.

(ب) زراعة المدرجات.

(جـ) صناعة ورق البردى.

(د) صناعة السفن.

٨ تحرى العراقيين القدماء الدقة والعدالة فى معاملاتهم التجارية بدليل .....

(أ) إصدار القوانين.
(ب) استخدام المكاييل والأختام.
(جـ) إيمانهم بالحساب بعد الموت.
(د) احتكار الدولة للتجارة الخارجية.

٩ تشابهت أعمال الحاكم الأثينى سولون مع أعمال الملك العراقى .....

(أ) حمورابى.
(ب) سرجون الأول.
(جـ) سنحاريب.
(د) سرجون الثانى.

١٠ تأثرت الأنشطة الاقتصادية لبلاد اليونان بالطبيعة الجبلية كما هو الحال فى حضارة .....

(أ) العراق القديم.
(ب) فينيقيا.
(جـ) مصر الفرعونية.
(د) اليمن.

١١ مثلت الموسيقى عاملًا مهمًا فى حياة اليونانيين .....

(أ) العقائدية.
(ب) الاقتصادية.
(جـ) الأدبية.
(د) الفكرية.

١٢ ظهرت أولى صور التفاعل الحضارى بين مصر وفينيقيا فى المجال .....

(أ) الاجتماعى.
(ب) العسكرى.
(جـ) الاقتصادى.
(د) الدينى.

ب اختر إجابتين صحيحتين من بين البدائل التالية :

١٣ أى مما يلى كان لهما سلطة تنفيذية بإسبرطة ؟ ..... و .....

(أ) الجمعية الشعبية.
(ب) مجلس الشيوخ.
(جـ) الجيش.
(د) الرقباء الشعبيون.
(هـ) الملكان.

جـ أسئلة المقال :

١٤ أيد صحة العبارة الآتية تاريخيًا :

أثر النظام العسكرى الصارم فى إسبرطة على حياتهم الاجتماعية.

١٥ حدد الدروس المستفادة من : أسباب سقوط الدولة الآشورية.

١٦ ما العلاقة بين :

الدعوة إلى الوحدانية بمصر خلال عصر الدولة الحديثة، والسياسة الخارجية لمصر فى فينيقيا ؟

الدرس الثانى

مصر تحت حكم البطالمة

أهداف الدرس :

فى نهاية الدرس يتوقع أن يكون الطالب قادرًا على أن :

- يفسر اهتمام الإسكندر الأكبر بمصر.
- يستنتج أسباب اختيار الإسكندر الأكبر لموقع الإسكندرية.
- يفسر الدور التاريخى والعلمى لمدينة الإسكندرية فى العصر البطلمى.
- يتعرف أهم مظاهر الحضارة الهيلينستية.
- يحدد على خريطة زمنية أهم ملوك البطالمة فى مصر.
- يقدر دور البطالمة الأوائل فى تكوين إمبراطورية بطلمية مركزها مصر.
- يجمع معلومات تاريخية ذات صلة بالحضارة البطلمية من الإنترنت.
- يكتب تقريرًا عن دور مكتبة الإسكندرية فى نشر العلم.

فى هذا الدرس نتعرف

- الإسكندر الأكبر
- دولة البطالمة فى مصر
- الحضارة الهيلينستية والتواصل الحضارى بين مصر والبطالمة

القضايا المتضمنة :

- التربية من أجل المواطنة.
- حُسن استخدام الموارد وتنميتها.
- التواصل الحضارى.

الإسكندر الأكبر

* جعل الإسكندر مصر هدفًا له بعد الانتصارات التى حققها على الفرس فى آسيا الصغرى وسوريا وفلسطين لاستكمال إخضاع الولايات الفارسية لحكمه، لتكوين إمبراطورية مقدونية فتقدم بجيشه إلى مصر ونجح فى السيطرة عليها دون قتال عام ٣٣٢ ق.م.

لُقب الإسكندر بـ «الإسكندر الأكبر» لأنه كان من أكبر الفاتحين وحقق انتصارات مبهرة

الإسكندر الأكبر فى مصر (سياسته)

* سعى الإسكندر الأكبر إلى إرضاء الشعب المصرى فقام بـ:
  - إظهار ولاءه للمعبودات المصرية، وعلى رأسها «آمون».
  - معاملة المصريين معاملة حسنة.
  - الإبقاء على النظم الإدارية المصرية.

بناء مدينة الإسكندرية

* وقع اختيار الإسكندر على قرية مصرية قديمة تُسمى «راقودة» تقابلها جزيرة صغيرة فى البحر تُسمى «فاروس» لإقامة مدينة جديدة هى الإسكندرية.

لكى:

- تحمل اسمه مثل عدة مدن أخرى أسسها.
- تكون مركزًا لنشر الحضارة الإغريقية فى العالم.
- تكون قاعدة بحرية؛ لتدعيم سيطرته على البحر المتوسط.

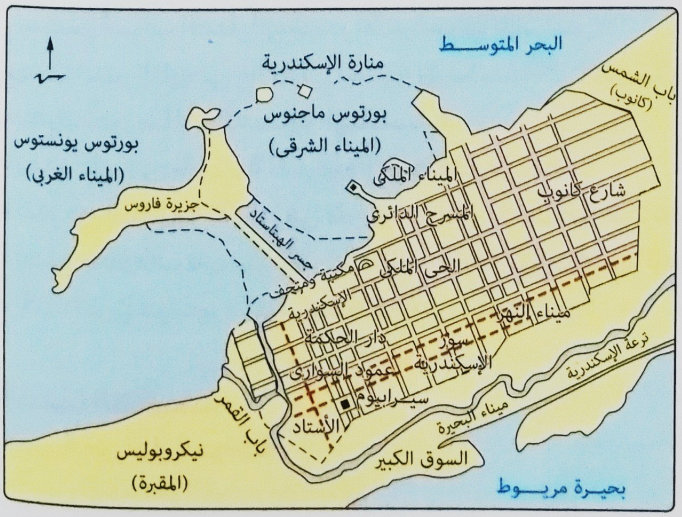

مدينة الإسكندرية قديمًا

توسعات الإسكندر الأكبر

* غادر الإسكندر مصر عام ٣٣١ ق.م بعد تخطيطه لمدينة الإسكندرية متجهًا إلى الشرق لمحاربة الفرس (فى عقر دارهم) فانتصر عليهم فى العراق وإيران واستولى على أملاكهم.

* توغل الإسكندر فى القارة الآسيوية حتى وصل لحدود الهند مكونًا إمبراطورية عظيمة، هى: «الإمبراطورية المقدونية».

وفاة الإسكندر وتقسيم إمبراطوريته

* توفى الإسكندر(*) عام ٣٢٣ ق.م تاركًا وراءه مملكة كبيرة مترامية الأطراف، ولم يكن له وريثًا للعرش وترتب على ذلك أن اجتمع قادة جيش الإسكندر فى بابل فيما يُعرف بـ «مؤتمر بابل» عام ٣٢٣ ق.م وتقاسموا الإمبراطورية المقدونية فيما بينهم كالتالى:

(١) مصر ← من نصيب بطلميوس بن لاجوس (أسس بها دولة البطالمة).

(٢) سوريا والعراق ← من نصيب سليوقس (أسس بها دولة السليوقيين).

(٣) بلاد مقدونيا ← من نصيب أنتيجونس.

سؤال و جواب

س١ خرجت حملات الإسكندر المتجهة نحو الشرق لمحاربة الفرس عن إطار الحملات التقليدية بسبب اهتمامه بـ .....

(أ) بناء المدن.
(ب) النواحى الإدارية.
(جـ) إنشاء المعابد.
(د) نشر العلم.

ج (أ) **سبب الإجابة**: حيث أنه أقام مدينة الإسكندرية وغيرها من المدن لتكون مركزًا لنشر الحضارة الجديدة (الحضارة الهيلينستية) فى العالم.

س٢ تغير الوضع السياسى فى مصر خلال القرن الرابع قبل الميلاد نتيجة .....

(أ) تخطيط الإسكندر لمدينة الإسكندرية.
(ب) انعقاد مؤتمر بابل فى العراق.
(جـ) توحيد فيليب المقدونى لبلاد الإغريق.
(د) استيلاء الإسكندر على العراق وإيران.

ج (ب) **سبب الإجابة**: حيث تم تقسيم إمبراطورية الإسكندر الأكبر بعد وفاته بين قادة جيشه وكانت مصر من نصيب بطلميوس بن لاجوس والذى أسس بها دولة البطالمة.

(*) توفى الإسكندر الأكبر فى بابل بعد إصابته بحمى المستنقعات.

دولة البطالمة فى مصر

المراحل التاريخية لدولة البطالمة فى مصر تتمثل فى :

المرحلة الأولى (مرحلة القوة والازدهار) ويتمثل ملوكها فى :

بطلميوس الأول (٣٢٣ ق.م : ٢٨٤ ق.م)

* ينتمى إلى إحدى العائلات المقدونية النبيلة.
* دخل فى حروب كثيرة لتوطيد حكمه فى مصر حتى أعلن نفسه ملكًا عام ٣٠٥ ق.م.
* كوَّن إمبراطورية بطلمية مركزها مصر.
* وضع أسس النظم الإدارية والمالية فى مصر ولُقب بـ «المنقذ».

بطلميوس الثانى (٢٨٤ ق.م : ٢٤٦ ق.م)

* تولى العرش بعد وفاة والده بطلميوس الأول.
* أحدث نهضة كبيرة فى شتى المجالات الاقتصادية والثقافية.
* شهد عهده توجهًا نحو شبه الجزيرة العربية والبحر الأحمر وأفريقيا لتحقيق أهداف اقتصادية وعسكرية وسياسية فأصبحت مصر إمبراطورية كبيرة فى عهده.

عملة تعود إلى القرن الـ ٣ ق.م تمثل الملك بطلميوس الثانى مع زوجته

بطلميوس الثالث (٢٤٦ ق.م : ٢٢١ ق.م)

* تولى العرش بعد وفاة والده بطلميوس الثانى.
* كان محبًا للعلم والثقافة.
* تمتع بصفات حميدة حتى لُقب بـ «الخيِّر أو الصالح» لأنه أمر بإسقاط الضرائب المفروضة على الأهالى وفتح صوامع الغلال الحكومية لهم أثناء انخفاض منسوب فيضان النيل.

المرحلة الثانية (مرحلة الضعف والانهيار) وأشهر ملوكها :

بطلميوس الرابع (٢٢١ ق.م : ٢٠٥ ق.م)

* يُعد عهده بداية لمرحلة من التدهور لحكم البطالمة.

عملة ذهبية عليها صورة الملك بطلميوس الرابع

بطلميوس الخامس (٢٠٣ ق.م : ١٨٠ ق.م)

* كان بطلميوس الخامس طفلًا لم يتجاوز السابعة عند وفاة والده بطلميوس الرابع، وانفرد أجاثوكليس بالوصاية عليه وأدار البلاد بما يحقق مصالحه الشخصية مما ترتب عليه انهيار البلاد سياسيًا واقتصاديًا وفقد معظم أملاكها الخارجية.

كليوباترا السابعة (آخر ملوك البطالمة)

* تولت العرش مع أخيها بطلميوس الثالث عشر وقد غرق أثناء حرب الإسكندرية.
* أجلسها يوليوس قيصر(*) بجوار أخيها الأصغر بطلميوس الرابع عشر على عرش مصر ولكنها سرعان ما تخلصت من أخيها، لتُجلس بدلًا منه ابنها من زوجها يوليوس قيصر.
* كانت تخطط لتصبح ملكة على روما فتحالفت مع ماركوس أنطونيوس (بعد وفاة يوليوس قيصر)، ولكنه انتحر بعد هزيمته (على يد القائد الرومانى أكتافيوس) فى معركة أكتيوم البحرية عام ٣١ ق.م، وعندما علمت كليوباترا بانتهاء الحكم البطلمى انتحرت عام ٣٠ ق.م.

وبذلك أصبحت مصر تحت الحكم الرومانى

سؤال وجواب

س١ يُعد أقرب حكام البطالمة إلى قلوب الشعب المصرى .....

(أ) الملك بطلميوس الأول.
(ب) الملك بطلميوس الثانى.
(جـ) الملك بطلميوس الثالث.
(د) الملكة كليوباترا السابعة.

جـ (جـ) سبب الإجابة : حيث أمر بإسقاط الضرائب المفروضة على الأهالى وفتح صوامع الغلال الحكومية لهم أثناء انخفاض منسوب فيضان النيل فلقب بالخير أو الصالح.

س٢ «طغت الأطماع السياسية على العلاقات الاجتماعية». تنطبق هذه المقولة على .....

(أ) بطلميوس الثانى.
(ب) بطلميوس الرابع.
(جـ) بطلميوس الخامس.
(د) كليوباترا السابعة.

جـ (د) سبب الإجابة : حيث تخلصت من أخيها بطلميوس الرابع عشر لتجلس بدلًا منه ابنها من زوجها يوليوس قيصر.

س٣ أثبت صحة العبارة الآتية تاريخيًا :

سار الملك بطلميوس الثانى على نهج أبيه سياسيًا وعسكريًا.

جـ حيث شهد عهد بطلميوس الثانى توجهًا كبيرًا نحو شبه الجزيرة العربية والبحر الأحمر وأفريقيا لتحقيق أهداف اقتصادية وعسكرية وسياسية فأصبحت مصر فى عهده إمبراطورية كبيرة مثل أبيه الملك بطلميوس الأول.

(*) ساند يوليوس قيصر كليوباترا السابعة ضد أخيها بطلميوس الثالث عشر فى حرب الإسكندرية.

4

الحضارة الهيلينستية والتواصل الحضارى بين مصر والبطالمة

* كان الإسكندر يهدف إلى تكوين حضارة جديدة تجمع بين مزايا الحضارات الشرقية العريقة والحضارات اليونانية والتى سُميت بـ (الحضارة الهيلينستية)، ولتحقيق ذلك عمل على :
  - فتح أبواب الشرق على مصراعيها أمام اليونانيين للإقامة به.
  - أقام بعض المدن الجديدة كالإسكندرية فى مصر وغيرها لتصبح مراكز لنمو تلك الحضارة الجديدة، ولتعمل على نشرها فى كل مكان.
* استفادت الحضارة الهيلينستية من حضارات بلادنا العريقة واستمرت هذه الحضارة خلال عصر البطالمة.

وفيما يلى نتعرف أهم جوانب الحضارة الهيلينستية فى مصر :

١ الحياة السياسية
٢ الحياة الاقتصادية
٣ الحياة الاجتماعية
٤ الحياة الدينية
٥ الحياة الثقافية (الفكرية) والعلمية

١ الحياة السياسية

* حكم البطالمة مصر من خلال الحكم الملكى الذى ورثوه عن الملوك الفراعنة، وقام على أن الملك له :
  - الحق فى تملك كل شىء فى مصر.
  - كل السلطات التشريعية والتنفيذية والقضائية والدينية.

وكان يساعد الملك فى الحكم :

- وزير المالية.
- كبير القضاة.

٢ الحياة الاقتصادية

* طبق البطالمة نظام الاحتكار على الحياة الاقتصادية (الزراعة والصناعة والتجارة) بهدف إقامة اقتصاد قوى يجعل الدولة قوية مما يساعدها على التأثير فى سياسات العالم لذلك سيطرت الدولة على جميع نواحى الحياة الاقتصادية كما يلى :

الزراعة

- اهتم البطالمة بالزراعة باعتبارها الركيزة الأولى للاقتصاد المصرى فعملوا على النهوض بها من خلال :
  ١ إصلاح نظم الرى وشق القنوات وإقامة الجسور.
  ٢ استصلاح مساحات كبيرة من الأراضى الزراعية.
  ٣ استخدام وسائل الرى الحديثة، مثل : الساقية والطنبور.
  ٤ اتباع نظام الدورة الزراعية للحفاظ على جودة الأرض وخصوبتها.

٥ الاهتمام بزراعة المحاصيل (القمح، الذرة، الشعير).
٦ استقدام أنواع جديدة من الفواكه وخاصة (العنب، التين، الرمان، المشمش).

• قُسمت الأرض الزراعية بمصر فى عصر البطالمة إلى خمسة أنواع هى :

أراضى الملك	حيث آلت أراضى ملوك الفراعنة إلى ملوك البطالمة باعتبارهم ورثة الفراعنة.
الأراضى المقدسة	- الأراضى التى يمنحها الملوك للمعابد، وتنقسم إلى نوعين : ♦ أراضى مخصصة للكهنة. ♦ أراضى مخصصة للإنفاق على المعابد.
أراضى الإقطاعات العسكرية	الأراضى التى منحها البطالمة للجنود المرتزقة من الإغريق الذين اعتمد عليهم البطالمة فى تكوين جيشهم.
أراضى الهبات	الأراضى التى يمنحها البطالمة لكبار موظفيهم.
أراضى المدن	- الأراضى التى تُخصصها الدولة للمدن *(التى تتمتع بوضع المدينة اليونانية)*، وهى : ♦ نقراطيس. ♦ الإسكندرية. ♦ بطلميس.

الصناعة

كانت مصر منذ القدم موطنًا للعديد من الصناعات من أهمها :

١ صناعة الزيوت.
٢ صناعة الفخار والزجاج.
٣ صناعة التعدين وقطع الأحجار.
٤ صناعة الجلود.
٥ صناعة المنسوجات.
٦ صناعة الورق من نبات البردى.

صناعة النسيج

التجارة

• ازدهرت التجارة فى عصر البطالمة بسبب :
- موقع مصر الجغرافى فى قلب العالم القديم.
- ازدهار النشاط الزراعى والصناعى.

• اهتم البطالمة بالنواحى التجارية حيث عملوا على :
- إنشاء الموانئ على ساحلى البحرين الأحمر والمتوسط.
- إقامة الترسانات لبناء السفن.
- بناء المنارات لإرشاد السفن، مثل : منارة الإسكندرية.
- تنظيم شئون الجمارك.
- سك العملة لتسهيل التبادل التجارى.



منارة الإسكندرية

- انقسمت التجارة فى عصر البطالمة إلى نوعين هما :

(١) التجارة الداخلية : سيطرت عليها الدولة عن طريق :

- إحكام رقابتها على الأسواق.
- التدخل فى تحديد الأسعار وخاصة السلع التى تخضع لسياسة الاحتكار.

(٢) التجارة الخارجية : انتعشت نتيجة لإنشاء البطالمة عدة موانئ على البحرين الأحمر والمتوسط وأصبحت الإسكندرية أكبر الموانئ فى العالم القديم.

سؤال و جواب

س١ يرجع السبب وراء قيام البطالمة باستصلاح مساحات كبيرة من الأراضى الزراعية إلى .....

(أ) منحها كرواتب للقادة العسكريين.

(ب) اعتبار الزراعة عماد القوى الاقتصادية.

(جـ) تراجع أهمية الصناعة والتجارة عند البطالمة.

(د) سد حاجة المقدونيين من الحبوب الغذائية.

جـ (ب) سبب الإجابة : حيث اهتم البطالمة بالزراعة باعتبارها الركيزة الأولى للاقتصاد لذلك عمل البطالمة على النهوض بها بهدف إقامة اقتصاد قوى مما يساعدهم على التأثير فى سياسات العالم.

س٢ أدى اهتمام البطالمة بالصناعة إلى .....

(أ) حرية ممارسة الأنشطة الاقتصادية.

(ب) تحسن الأوضاع الاجتماعية للمصريين.

(جـ) تنمية صناعة الفخار والزجاج.

(د) ازدهار التجارة الخارجية.

جـ (د) سبب الإجابة : حيث يؤدى الاهتمام بالصناعة إلى زيادة الإنتاج الصناعى مما يعنى ظهور فائض للتصدير وازدهار التجارة الخارجية.

٣ الحياة الاجتماعية

* أراد البطالمة إقامة دولة تقوم على أسس شرقية مع إضفاء الصبغة اليونانية عليها فعملوا على :
  - الظهور أمام رعاياهم من المصريين فى مظهر الحكام الوطنيين.
  - فتح أبواب البلاد على مصراعيها أمام الأجانب خاصة المقدونيين والإغريق، وذلك لـ :
    - الاعتماد عليهم كأعوان مخلصين فى تكوين دولة بطلمية حديثة.
    - توافر رؤوس الأموال لديهم والخبرات بأحدث الأساليب الاقتصادية ونظم التجارة العصرية.
* تعددت طبقات المجتمع المصرى فى عصر البطالمة حيث انقسمت إلى :

١ المقدونيين واليونانيين	شجعهم البطالمة على الاستقرار فى مصر واختصوهم بالوظائف العُليا وأغدقوا عليهم المنح والهبات.
٢ يهود الإسكندرية	كونوا جالية كبيرة فى الإسكندرية، وكان لهم وضع اجتماعى مميز حيث اشتغلوا بالتجارة والأعمال المصرفية والإقراض.
٣ المصريين	أهل البلاد والأغلبية الساحقة وعماد الاقتصاد باعتبارهم الأيدى العاملة.

ولكن ... كيف عامل اليونانيون المصريين ؟

كان اليونانيون يعاملون المصريين معاملة تتسم بالتعالى، وقد تغير الوضع قليلًا منذ عهد الملك بطلميوس الرابع حيث أخذت الدولة تفسح المجال للمصريين لتولى وظائف أعلى وأقبل المصريون على تعلم اللغة اليونانية وتشكلت منهم فئتين هما :

(١) المحاربين.

(٢) الموظفين : حيث بدأ المصريون يشغلون بعض الوظائف فى الجهاز الإدارى.

توضيح

* التمييز العنصرى : له عدة أنواع منها معاملة الإنسان بطريقة غير لائقة لأسباب متعددة منها الاختلاف العرقى أو الدينى.
* أضرارة على المجتمع :
  - يعمل على تفكيك الروابط الاجتماعية بين أفراده.
  - يولد حالة من عدم الاستقرار والإضطهاد والخوف.
  - يجعل مشاعر الحقد والكراهية هى المسيطر الأساسى بين الأفراد.
  - احتمالية حدوث نزاعات وحروب بين أفراد المجتمع.

التواصل الاجتماعى بين مصر والبطالمة

تأثر البطالمة اليونانيون بالكثير من مظاهر الحياة المصرية، فتعلموا اللغة المصرية وعبدوا الآلهة المصرية واتخذوا أسماء مصرية.

سؤال وجواب

س احتل المصريون قاع الهرم الاجتماعى فى عصر البطالمة نتيجة .....

(أ) احتكار اليهود للأعمال التجارية.
(ب) صعوبة تعلم اللغة اليونانية.
(جـ) الاعتماد عليهم كجنود مرتزقة.
(د) سياسة البطالمة العنصرية.

جـ (د) سبب الإجابة : حيث كان «اليونانيين» البطالمة يعاملون المصريين معاملة تتسم بالتعالى كما أنهم لم يعتمدوا عليهم فى تكوين دولتهم بل اعتمدوا على المقدونيين والإغريق ليكونوا أعوانًا مخلصين لهم.

٤ الحياة الدينية

* أدرك البطالمة أهمية العقيدة الدينية عند المصريين لذلك ...

اتسمت سياستهم الدينية بالتسامح الدينى واحترام الديانة المصرية حيث :

- قام بطلميوس الأول بـ :
  - تقديم القرابين للآلهة المصرية فوردخوله مصر (كما فعل الإسكندر الأكبر).
  - إعادة تماثيل الآلهة المصرية التى استولى عليها الفرس أثناء احتلالهم مصر.
- أنشأ البطالمة العديد من المعابد فى صعيد مصر وبُنيت على الطراز المصرى، وصوروا فيها أنفسهم بملابس الملوك الفراعنة يقدمون القرابين للآلهة المصرية،

ومن هذه المعابد والتى لا تزال شامخة حتى الآن :

معابد فيلة

معبد إدفو

٥ الحياة الثقافية (الفكرية) والعلمية

* اهتم البطالمة بالعلم مما جعل الإسكندرية تحتل مركز الصدارة وتتفوق على أثينا.
* قام البطالمة بإنشاء دار العلم (جامعة الإسكندرية)، ومكتبة الإسكندرية وكان لإنشاءهما أثرًا كبيرًا فى جذب العلماء والدارسين من شتى أرجاء العالم فى مختلف العلوم، ومن هذه العلوم :

رسم تخيلى لمكتبة الإسكندرية القديمة

الفلك	تقدم علم الفلك على يد العالم الرياضى **أريستارخوس** وهو أول من قام بدراسات نسبية لأحجام الشمس والقمر والأرض. أريستارخوس
الرياضيات	• من أشهر علماء الرياضيات بدار العلم بالإسكندرية : - **إقليدس** : واضع كتاب «الأصول» فى الهندسة الرياضية. - **أرشميدس** : صاحب قانون الطفو. أرشميدس إقليدس
الطب	برع علماء الإسكندرية فى التشريح والجراحة، ومن أشهر العلماء فى هذا المجال : **هيروفيلوس** : الذى اكتشف الدورة الدموية واستخدم أداة لقياس سرعة النبض. ساعد وجود حديقة الحيوان التى أقامها بطلميوس الثانى على تطور **علم الحيوان**.
الجغرافيا	• شهدت الجغرافيا اهتمامًا كبيرًا من جامعة الإسكندرية بفضل تشجيع البطالمة **حيث** توصل علمائها للكثير من الحقائق والمبادئ العلمية الجغرافية، **منها** : - نظرية دوران الأرض حول الشمس. - قياس محيط الكرة الأرضية.
التاريخ	تمكن المؤرخ المصرى **مانيتون** من كتابة تاريخ مصر القديم باللغة اليونانية **حيث** قسم تاريخ مصر الفرعونية إلى ٣٠ أسرة وهو التقسيم المتبع فى عصرنا الراهن.
الأدب	• شهد الأدب ازدهارًا كبيرًا وقد أُطلق على الأدب اليونانى فى عصر البطالمة «الأدب السكندرى». • من أشهر الإنجازات الأدبية : نشر ملاحم «هوميروس»، وتاريخ «هيرودوت».

سؤال وجواب

س١ يدل إعادة الملك بطلميوس الأول تماثيل المعبودات المصرية من أيدى الفرس على .....

(أ) خوفه من ثورات المصريين.

(ب) اقتدائه بسياسة الإسكندر.

(جـ) تقديره للفن والعمارة المصرية.

(د) تقديره للملكية الفكرية والثقافية.

جـ (ب) **سبب الإجابة** : حيث استفاد البطالمة من سياسة الإسكندر الأكبر الدينية التى اتبعها للتقرب من الشعب المصرى ولذلك اتسمت سياستهم بالتسامح الدينى والحرص على إظهار احترامهم للديانة المصرية.

س٢ يرجع الفضل للبطالمة فى الحفاظ على التاريخ السياسى والعسكرى للإغريق بمصر من خلال .....

(أ) نشر الإنجازات الأدبية والثقافية للإغريق.

(ب) تشجيع الإغريق على الإقامة فى مصر.

(جـ) نشر الحضارة الهيلينستية فى العالم القديم.

(د) بناء الإسكندرية لنشر الحضارة الإغريقية.

جـ (أ) **سبب الإجابة** : حيث قام البطالمة بنشر ملاحم هوميروس صاحب الفضل فى نشر التراث الثقافى والبطولى للإغريق قديمًا.

أهم نقاط الدرس

مصر تحت حكم البطالمة

نجح **الإسكندر الأكبر** فى السيطرة على مصر دون قتال عام ٣٣٢ ق.م، وعندما توفى عام ٣٢٣ ق.م ترك إمبراطورية كبيرة لم يكن لها وريث فتقاسمها قادة جيشه فيما بينهم وكانت مصر من نصيب بطلميوس بن لاجوس مؤسس الدولة البطلمية.

دولة البطالمة فى مصر

١ **مرحلة القوة والازدهار**، وملوكها :

- الملك بطلميوس الأول.
- الملك بطلميوس الثانى.
- الملك بطلميوس الثالث.

٢ **مرحلة الضعف والانهيار**، ومن أشهر ملوكها :

- الملك بطلميوس الرابع.
- الملك بطلميوس الخامس.
- الملكة كليوباترا السابعة (آخر ملوك البطالمة).

الحضارة الهيلينستية

أهم جوانب الحضارة الهيلينستية فى مصر :

- **الحياة السياسية :** كان نظام الحكم البطلمى فى مصر نظام ملكى ورثوه عن الملوك الفراعنة.
- **الحياة الاقتصادية :** طبق البطالمة نظام الاحتكار على الحياة الاقتصادية بهدف إقامة اقتصاد قوى يجعل الدولة قوية ويساعدها على التأثير فى سياسات العالم.
- **الحياة الاجتماعية :** كان المجتمع فى مصر أثناء عصر البطالمة مجتمعًا طبقيًا يتكون من ٣ طبقات :

– الأولى : المقدونيين واليونانيين. – الثانية : يهود الإسكندرية. – الثالثة : المصريين.

وقد حدث تواصل اجتماعى بين مصر والبطالمة ظهر فى تعلُّم البطالمة اللغة المصرية وعبادة الآلهة المصرية واتخاذ الأسماء المصرية.

- **الحياة الدينية :** أدرك البطالمة أهمية الحياة الدينية عند المصريين فاتسمت سياستهم الدينية بالتسامح الدينى واحترام الديانة المصرية.
- **الحياة الثقافية (الفكرية) والعلمية :** اهتم البطالمة بالعلم مما جعل الإسكندرية تحتل مركز الصدارة وتتفوق على أثينا، فأنشأوا مكتبة الإسكندرية وجامعة الإسكندرية مما كان له أثرًا فى جذب العلماء والدارسين

ومن هذه العلوم :

الفلك : الذى تقدم على يد العالم الرياضى أريستارخوس.
الرياضيات : من أشهر علمائها إقليدس، أرشميدس.
الطب : من أشهر علماء هذا المجال هيروفيلوس.
الجغرافيا : توصل علماء جامعة الإسكندرية للكثير من الحقائق والمبادئ العلمية الجغرافية.
التاريخ : كتب المؤرخ المصرى مانيتون تاريخ مصر القديم باللغة اليونانية وقسم التاريخ المصرى القديم إلى ٣٠ أسرة.
الأدب : شهد ازدهارًا كبيرًا وقد أطلق على الأدب اليونانى فى عصر البطالمة (الأدب السكندرى)، ومن أشهر الإنجازات الأدبية نشر ملاحم «هوميروس» وتاريخ «هيرودوت».

أسئلة

الدرس الثانى

فهم ● تطبيق ● تحليل ● تقويم ● ابتكار

أ اختر الإجابة الصحيحة من بين البدائل التالية :

١ يتضح من خلال الخريطة المقابلة توجهات الملكة حتشبسوت الاقتصادية ويتشابه معها فى ذلك الملك .....

(أ) بطلميوس الأول.
(ب) بطلميوس الثانى.
(جـ) بطلميوس الثالث.
(د) بطلميوس الرابع.

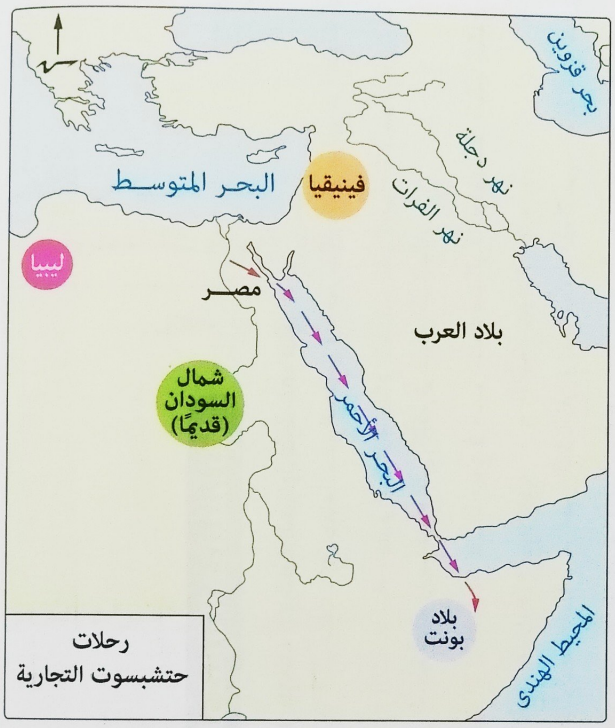

---

٢ حظى اليهود بمكانة متميزة فى مصر تحت حكم البطالمة نتيجة لـ .....

(أ) نشاطهم الاقتصادى.
(ب) منافستهم للإغريق.
(جـ) التسامح الدينى للبطالمة.
(د) دورهم فى دعم البطالمة.

---

٣ عمل الإسكندر الأكبر على إرضاء الشعب المصرى بعد دخوله مصر نتيجة .....

(أ) العلاقات القديمة بين الإغريق ومصر.
(ب) حرصه على تثبيت حكمه.
(جـ) رغبته فى بناء عاصمة جديدة لمصر.
(د) خروج جيشه لمطاردة جيوش الفرس.

---

٤ هدف بطلميوس الأول من إعادة تماثيل الآلهة المصرية التى استولى عليها الفرس .....

(أ) المحافظة على التراث الإنسانى.
(ب) كسب ثقة الدول المجاورة لمصر.
(جـ) تحقيق مصالح سياسية لدولته.
(د) التقرب من علماء الإسكندرية.

٥ زادت صادرات مصر لأوروبا فى بداية عهد البطالمة نتيجة .....
(أ) تطور موانئ مصر الشمالية.
(ب) استمرار العمل بنظام المقايضة.
(جـ) زيادة أعداد التجار الأجانب.
(د) احترام المصريين للمعاهدات التجارية.

٦ يرجع إقبال المصريين على تعلم اللغة اليونانية فى عصر البطالمة إلى .....
(أ) تحسين وضعهم الاجتماعى.
(ب) إيمانهم بأهمية التنوع الثقافى.
(جـ) الاطلاع على العلوم الإغريقية.
(د) التطلع للسفر إلى بلاد الإغريق.

٧ سعى البطالمة إلى نجاح سياسة الاحتكار فى التجارة الداخلية من خلال .....
(أ) الاهتمام بسك العملة.
(ب) الرقابة على المكاييل.
(جـ) تحديد قيمة الضرائب.
(د) تحديد قيمة المنتجات.

٨ يرجع تدخل روما فى شئون مصر بشكل واضح أواخر عهد البطالمة إلى .....
(أ) السياسة الداخلية للملوك البطالمة.
(ب) تعرض مصر لأزمات اقتصادية متتالية.
(جـ) ثورات المصريين ضد الملوك البطالمة.
(د) تدخل رجال الدين فى الشئون السياسية.

٩ هدفت سياسة البطالمة بالاهتمام بالزراعة فى المقام الأول إلى .....
(أ) تحقيق الاكتفاء الذاتى من القمح للمصريين.
(ب) خلق فرص عمل للمصريين والإغريق.
(جـ) بناء القوة الذاتية للدولة داخليًا وخارجيًا.
(د) كسب ثقة المصريين وخاصة المزارعين.

١٠ ترتب على عقد مؤتمر بابل بين قادة جيش الإسكندر عام ٣٢٣ ق.م .....
(أ) ضياع استقلال مصر.
(ب) تفكك الوحدة السياسية للإغريق.
(جـ) عودة مصر لحكم الفرس.
(د) استقرار أحوال مصر.

١١ يرجع عدم مقاومة المصريين للإسكندر المقدونى إلى رغبتهم فى .....

(أ) إقامة جبهة موحدة ضد الرومان.

(ب) الاستفادة من حضارة الإغريق.

(جـ) التخلص من سلبيات العصر المتأخر.

(د) تغيير الأوضاع السياسية فى البلاد.

١٢ توضح الصورة المقابلة أحد المعبودات التى كانت مزيج بين الديانة المصرية والإغريقية وتدل على .....



سرابيس

(أ) محاكاة البطالمة لسياسة الإسكندر المعمارية.

(ب) تميز البطالمة بالتسامح الدينى.

(جـ) حرص البطالمة على نشر معتقداتهم الدينية.

(د) رغبة ملوك البطالمة فى تخليد ذكراهم.

١٣ «*العولمة هى تغيير الأنماط والنظم الاقتصادية والاجتماعية تقوم بها الدول الأقوى لفرض هيمنتها على الدول الأخرى*». فى ضوء العبارة السابقة :

يتضح أن البطالمة قاموا بتطبيق أفكار مشابهة للعولمة من خلال .....

(أ) الاهتمام بالمنشآت الدينية.

(ب) تعديل النظم الاقتصادية.

(جـ) الاهتمام بالخطط العسكرية.

(د) الاستفادة من خبرات المصريين.

١٤ نستنتج من الخريطة المقابلة أن أولى الشعوب التى تخلصت من حكم الفرس خلال توسعات الإسكندر الأكبر نحو الشرق هم شعب .....

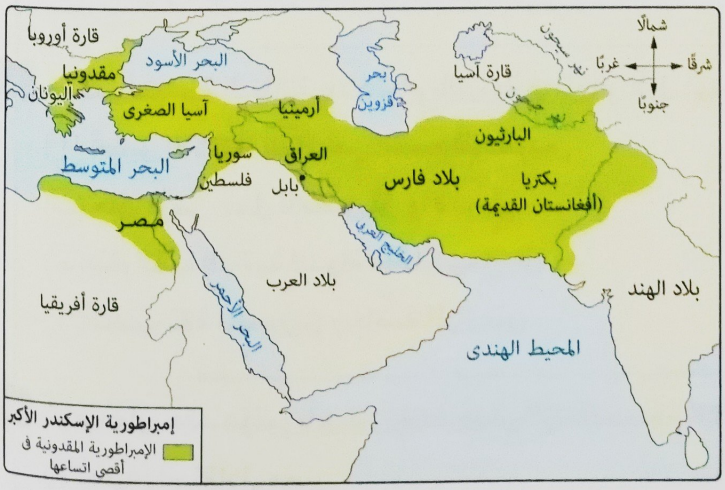

(أ) العراق.

(ب) فينيقيا.

(جـ) آسيا الصغرى.

(د) شمال أفريقيا.

١٥ تغيرت أوضاع الطبقة الدنيا للأفضل أثناء حكم البطالمة بداية من عهد الملك .....

(أ) بطلميوس الأول.

(ب) بطلميوس الثانى.

(جـ) بطلميوس الرابع.

(د) بطلميوس الخامس.

١٦ بلغ التدخل الرومانى السياسى والعسكرى فى مصر أثناء حكم البطالمة ذروته خلال عهد .....

(أ) بطلميوس الخامس.
(ب) بطلميوس الرابع عشر.
(جـ) أجاثوكليس.
(د) كليوباترا السابعة.

١٧ عمل الإسكندر الأكبر على تكوين حضارة تجمع بين مزايا الحضارات الشرقية والحضارة اليونانية عن طريق .....

(أ) توطين اليونانيين فى مصر.
(ب) السيطرة العسكرية المحكمة.
(جـ) إظهار الولاء للمعبودات المصرية.
(د) سيطرة الدولة على النواحى العلمية.

١٨ أطلق على الأدب اليونانى أثناء حكم البطالمة لمصر الأدب السكندرى بسبب .....

(أ) اتخاذ الإسكندرية عاصمة لدولتهم.
(ب) كثرة أعداد الإغريق فى مصر.
(جـ) الدور السياسى لأدباء الإسكندرية.
(د) ضخامة التراث الأدبى فى الإسكندرية.

١٩ «يؤدى ضعف سلطة الملك وسوء استغلال موارد الدولة وعدم الاهتمام بأمور الرعية إلى انهيار البلاد».
فى ضوء العبارة السابقة :
أى حكام البطالمة تعرضت مصر فى عهده لهذا المصير ؟ .....

(أ) بطلميوس الثانى.
(ب) بطلميوس الرابع.
(جـ) بطلميوس الثالث.
(د) بطلميوس الخامس.

٢٠ تدل انتصارات الإسكندر الأكبر المتتالية على الفرس على .....

(أ) ترحيب الشعوب به.
(ب) كراهية الشعوب للفرس.
(جـ) حكمة الإسكندر السياسية.
(د) مهارة الإسكندر العسكرية.

٢١ اعتمد البطالمة الأوائل فى تكوين جيوشهم على الجنود المرتزقة من الإغريق بسبب .....

(أ) تمسك المصريين بالعمل فى الأراضى الزراعية.
(ب) الثقة فى كفاءة الإغريق العسكرية.
(جـ) اعتماد المصريين السابق على الإغريق.
(د) الحرص على ربط اليونانيين بمصر.

٢٢ حرص البطالمة على ربط المقدونيين والإغريق بمصر من خلال .....

(أ) إسناد الوظائف التشريعية إليهم.
(ب) منحهم مساحات من الأراضى.
(جـ) بناء المعابد اليونانية.
(د) إنشاء دار العلم والمكتبة.

سرابيس

هيمنتها على

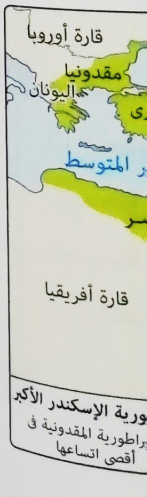

٢٣ اهتم البطالمة بإنشاء العديد من المعابد على الطراز المصرى مثل معبد إدفو ومعابد فيلة فى صعيد مصر من أجل .....

(أ) التقرب من المصريين وتجنب ثوراتهم.

(ب) نشر الحضارة الهيلينستية.

(جـ) الاستفادة من براعة أهالى الصعيد فى العمارة.

(د) استغلال الأحجار اللازمة لبناء المعابد.

---

٢٤ يدل وضع بطلميوس الأول لأسس النظم الإدارية والمالية فى مصر على .....

(أ) رغبة البطالمة فى تحسين وضع المصريين.

(ب) رغبة البطالمة فى السيطرة على التجارة.

(جـ) استقرار الأوضاع السياسية منذ بداية حكمه.

(د) طموحات البطالمة فى تأسيس دولة قوية.

---

٢٥ *«ظهر فى العقود الأخيرة مفهوم التنمية المستدامة للحفاظ على الموارد فى الحاضر والمستقبل».*

فى ضوء العبارة السابقة :

نجح البطالمة فى تطبيق مفهوم الاستدامة من خلال .....

(أ) تطبيق نظام الاحتكار.

(ب) اتباع نظام الدورة الزراعية.

(جـ) تشجيع هجرة الإغريق لمصر.

(د) تخصيص أراضى للمدن اليونانية.

---

٢٦ *«وقع اختيار الإسكندر على قرية صغيرة تسمى راقودة تقابلها جزيرة تسمى فاروس لإقامة مدينة تحمل اسمه».*

نستنتج من العبارة السابقة :

سبب اختيار الإسكندر لهذه المنطقة هو .....

(أ) طبيعتها الجغرافية.

(ب) بعدها عن تجمعات المصريين.

(جـ) غناها بالموارد الطبيعية.

(د) قربها من مدينة نقراطيس.

---

٢٧ نقل البطالمة إلى مصر الكثير من مظاهر الحضارة اليونانية باستثناء الجانب .....

(أ) السياسى.

(ب) الاقتصادى.

(جـ) الدينى.

(د) العسكرى.

ب اختر إجابتين صحيحتين من بين البدائل التالية :

٢٨ نجح الإسكندر الأكبر فى الاستيلاء على مصر بسهولة ويرجع ذلك إلى ..... و .....

(أ) خبرات الإسكندر بجغرافية مصر.
(ب) ضعف قوات الفرس فى مصر.
(جـ) تفوق الأسطول البحرى الإغريقى.
(د) وجود جنود إغريق فى مصر.
(هـ) عدم مقاومة المصريين له.

٢٩ تؤكد الصورة التى أمامك على تفوق البطالمة فى ..... و .....

(أ) العمارة.
(ب) الثقافة.
(جـ) الفن.
(د) الاقتصاد.
(هـ) النحت.



منارة الإسكندرية

جـ أسئلة المقال :

٣٠ ما رأيك فى : معاملة الإسكندر الأكبر للمصريين ؟

٣١ بم تفسر : انهيار البلاد اقتصاديًا بعد وفاة بطلميوس الرابع ؟

٣٢ اكتب مقترحاتك لـ : تستفيد مصر المعاصرة من تجربة البطالمة فى الاهتمام بالتجارة.

٣٣ «العلم يرفع من شأن صاحبه» . طبق هذه العبارة على :
أحوال المصريين خلال عصر البطالمة.

٣٤ ما العلاقة بين : طموحات كليوباترا، وانتهاء دولة البطالمة ؟

تنويه

لمعرفة كيفية الوصول للإجابة الصحيحة
استخدم QR Code

امتحان تراكمى

أسئلة تفاعلية

● فهم ● تطبيق ● تحليل ● تقويم ● ابتكار

أ اختر الإجابة الصحيحة من بين البدائل التالية :

١ أول الأعمال التى قام بها الملك بطلميوس الأول لتوطيد حكمه فى مصر .....

(أ) تأمين المجال الحيوى لدولته.

(ب) تكوين إمبراطورية عظيمة.

(جـ) وضع النظم الإدارية والمالية.

(د) إظهار ولائه للمعبودات المصرية.

---

٢ «أطلقت كلمة فينكس على أول الشعوب التى استقرت على الشريط الساحلى الضيق لبلاد الشام».

العبارة السابقة دليلًا على .....

(أ) التواصل الحضارى بين الشرق والغرب.

(ب) حفاظ بلاد الشام على وحدتها.

(جـ) براعة الفينيقيين فى صناعة الزجاج.

(د) سيطرة الإغريق على الساحل الفينيقى.

---

٣ تعبر الصورة التى أمامك عن .....



معابد فيلة

(أ) سير البطالمة على خطى الإسكندر فى بناء المعابد.

(ب) حرص البطالمة على تحقيق الاستقرار السياسى.

(جـ) التطور العلمى والثقافى لدولة البطالمة فى مصر.

(د) تأثر العمارة الفرعونية بالعمارة الإغريقية.

---

٤ العامل المشترك بين العقيدة الدينية فى كل من الحضارة الفينيقية والحضارة الإغريقية .....

(أ) تقديس الحيوانات والطيور.

(ب) السمو إلى توحيد الآلهة.

(جـ) تجسيد المعبودات بصورة بشرية.

(د) الاعتقاد فى الثواب والعقاب.

---

٥ تشابهت مشكلات الزراعة التى واجهت كلا من الحضارتين الفينيقية والإغريقية وتمثل ذلك فى .....

(أ) نظام ملكية الأرض الزراعية.

(ب) صغر مساحة الأراضى المتاحة.

(جـ) ندرة موارد المياه.

(د) نقص الأيدى العاملة.

٦ حاول البطالمة إقامة دولة قوية قادرة على التأثير فى سياسات العالم القديم عن طريق .....

(أ) نشر العقيدة الإغريقية.

(ب) الحرية الاقتصادية.

(جـ) السيطرة على الاقتصاد.

(د) استحداث الأنظمة الصناعية.

---

٧ يُعد مؤتمر بابل عام ٣٢٣ ق.م شاهدًا تاريخيًا على حالة التفكك السياسى الذى حدث فى الحضارة .....

(أ) الفرعونية.

(ب) العراقية.

(جـ) الفينيقية.

(د) الإغريقية.

---

٨ نستنتج من الخريطة المقابلة أن أول الحضارات سقوطًا فى يد الإسكندر فى الشرق كانت الحضارة .....

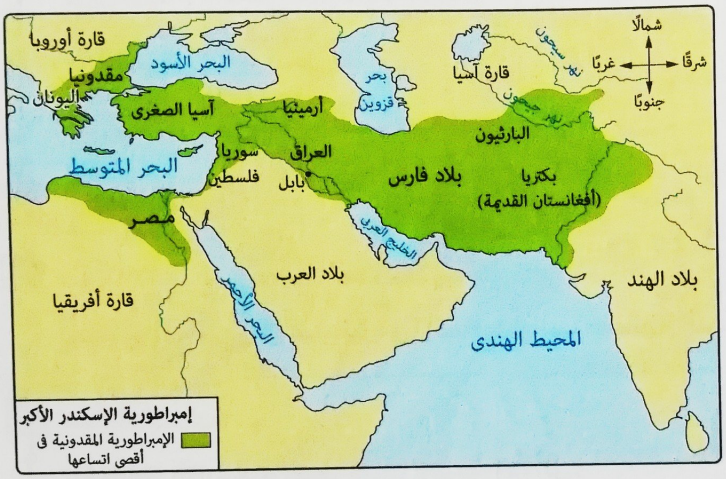

(أ) الفينيقية.

(ب) الفارسية.

(جـ) الفرعونية.

(د) العراقية.

---

٩ «*كانت بمثابة سوط العذاب لجيرانها بسبب شدتها فى الحكم*». تنطبق العبارة السابقة على حضارة .....

(أ) كريت.

(ب) أثينا.

(جـ) إسبرطة.

(د) مقدونيا.

---

١٠ أى من المدن التالية كانت الأكثر ميلًا للنزعة العسكرية ؟ .....

(أ) إسبرطة وقبرص.

(ب) مقدونيا وأثينا.

(جـ) كريت وقبرص.

(د) آشور وإسبرطة.

---

١١ يُعد العامل المشترك بين حضارتى فينيقيا واليونان قديمًا .....

(أ) القيام بدور الوسيط الحضارى.

(ب) المساهمة فى نشر الديمقراطية فى العالم.

(جـ) الاعتماد بشكل أساسى على الزراعة.

(د) السعى إلى ضم مصر.

١٢ تشابهت الزراعة فى كل من بلاد العراق وبلاد اليونان قديمًا فى .....

(أ) اعتبارها النشاط الاقتصادى الأول.
(ب) قلة مساحة السهول الفيضية.
(جـ) نظام ملكية الأراضى الزراعية.
(د) التركيز على زراعة سفوح الجبال.

ب اختر إجابتين صحيحتين من بين البدائل التالية :

١٣ من الآثار التى ترتبت على اتجاه الفينيقيين إلى البحر ..... و .....

(أ) قيامهم بدور الوسيط بين الشرق والغرب.
(ب) الاهتمام بعمل محطات تجارية.
(جـ) الاهتمام بالتجارة الداخلية.
(د) التعرض للغزو الخارجى.
(هـ) الاستقرار ووحدتهم السياسية.

جـ أسئلة المقال :

١٤ **دلل تاريخيًا على صحة العبارة الآتية :**

لعب رجال الدين فى فينيقيا دورًا إضافيًا بجانب مهمتهم الدينية.

١٥ **حدد أوجه النقد لـ :**

الكتابات التاريخية للمؤرخين الإغريق الأوائل.

١٦ **حدد تقييمك لمصداقية العبارة الآتية تاريخيًا :**

عرفت بلاد العراق القديم الكتابة وتدوين الأحداث فى عصر الدولة البابلية القديمة.

الدرس الثالث

الحضارة الرومانية

أهداف الدرس :

فى نهاية الدرس يتوقع أن يكون الطالب قادرًا على أن :

- يتعرف مقومات نشأة الحضارة الرومانية.
- يتعرف أهم مظاهر النظام السياسى فى روما.
- يحدد على خريطة زمنية أهم الأحداث التاريخية للحضارة الرومانية.
- يحلل أهم مظاهر الحضارة الرومانية القديمة.
- يحدد أهم الخصائص التى تميز الحضارة الرومانية القديمة.
- يتنبأ بالنتائج التى ترتبت على اهتمام الرومان بالفنون والعمارة.
- يجمع معلومات تاريخية ذات صلة بالحضارة الرومانية من الإنترنت.
- يكتب تقريرًا عن أهم معالم روما التاريخية.
- يقدر دور الفن الرومانى بالنسبة للعالم القديم.

القضايا المتضمنة :

- الفن ودوره فى بناء المجتمع.
- الديمقراطية.
- التواصل الحضارى.

فى هذا الدرس نتعرف

نشأة روما وتوسعاتها

مظاهر الحضارة الرومانية

والتواصل الحضارى بين مصر وبلاد الرومان

نشأة روما وتوسعاتها

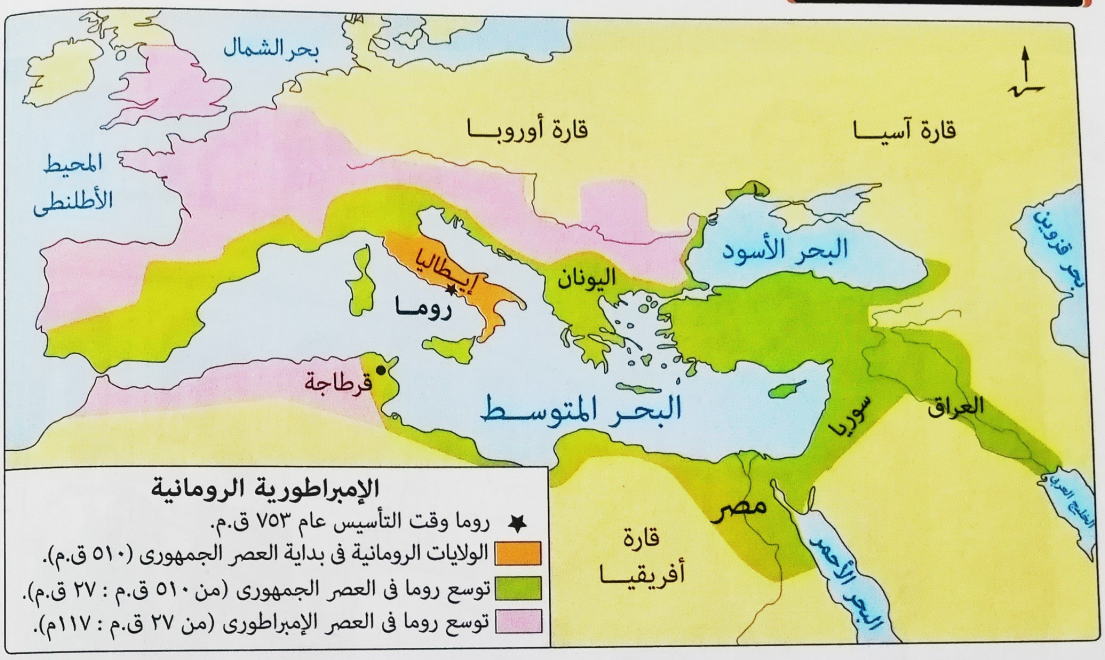

* تأسست روما عام ٧٥٣ ق.م ودخلت فى حروب عديدة، من أهمها :

(١) حروبها مع جيرانها فى شبه الجزيرة الإيطالية.

(٢) حروبها مع مدينة قرطاجة والتى استمرت حوالى ١٠٠ عام (٢٦٤ : ١٤٦ ق.م) فيما عُرف بـ«الحروب البونية»، وقد سعت إليها روما للسيطرة على غرب البحر المتوسط، والتى انتهت بهزيمة قرطاجة، لتسيطر روما على شمال غرب أفريقيا.

مدينة روما قديمًا

(٣) حروبها مع مقدونيا، نتج عنها :

- تدخل روما فى شئون اليونان.
- تحويل مقدونيا إلى ولاية رومانية عام ١٤٨ ق.م، ومن بعدها كل بلاد اليونان عام ١٤٦ ق.م.

(٤) حروبها فى الشرق، حيث :

- استطاعت روما مد نفوذها إلى سوريا وتحويلها لولاية رومانية عام ٦٤ ق.م.
- سيطرت روما على مصر وجعلتها ولاية رومانية عام ٣٠ ق.م.

وبسقوط سوريا ومصر فى أيدى الرومان أصبح البحر المتوسط بحيرة رومانية تحيط به أراضى الإمبراطورية الرومانية من كل الجهات وأصبحت روما سيدة العالم القديم بلا منازع

سؤال وجواب

س استطاعت روما أن تكون دولة كبيرة فى قلب قارات العالم القديم بعد .....

(أ) الانتصار على مقدونيا.
(ب) السيطرة على قرطاجة.
(جـ) الانتصار على الفرس.
(د) معركة أكتيوم البحرية.

جـ (د) **سبب الإجابة** : حيث انتهت معركة أكتيوم البحرية بانتصار أكتافيوس على تحالف كليوباترا السابعة (آخر ملوك الدولة البطلمية) وأنطونيوس والذى أدى إلى سيطرة روما على مصر وبسقوطها أصبح البحر المتوسط بحيرة رومانية تحيط به أراض الإمبراطورية الرومانية من كل الجهات.

مظاهر الحضارة الرومانية والتواصل الحضارى بين مصر وبلاد الرومان

١ الحياة السياسية
٢ الحياة الاقتصادية
٣ الحياة الاجتماعية
٤ الحياة الدينية
٥ الحياة الثقافية (الفكرية) والعلمية
٦ الحياة الفنية

١ الحياة السياسية

* كانت روما هى عاصمة الدولة التى نشأت فى إيطاليا وقد مرت بثلاث أنظمة سياسية للحكم، وهى : النظام الملكى | النظام الجمهورى | النظام الإمبراطورى

النظام الملكى (٧٥٣ ق.م : ٥١٠ ق.م)

نظام قائم على فرد واحد يجمع فى يده كل السلطات ويحكم مدى الحياة ويورث الحكم لمن بعده.

تكون من :

١ الملك

- تتركز بيده السلطة العليا فى الشئون الدينية والقضائية والسياسية والعسكرية.
- يحكم مدى الحياة، وعقب وفاته يتم اختيار نائب له ليحكم روما لمدة خمسة أيام فقط لحين اختيار الملك الجديد.

٢ مجلس الشيوخ (السناتو)

- يتكون من ٣٠٠ عضو من الأرستقراطيين.
- يُعد مجلسًا استشاريًا للملك.


مجلس الشيوخ (السناتو)

٣ جمعية الأحياء

- يمثل أعضائها أحياء روما التى كانت مقسمة إلى ٣٠ حى، ثم اندمجت هذه الأحياء لتصبح ٣ أحياء.
- تُعد بمثابة مجلس شعبى يجتمع أعضاؤه بأمر من الملك لمناقشة الأمور التى تهم الشعب.

★ **نهاية النظام الملكى :**

قرر الأرستقراطيون الثورة على الملك «تاركوينوس» وسلب سلطاته وتوزيعها عليهم بسبب :

(١) عدم إحساسه بمعاناة شعبه.

(٢) تعديه على التقاليد الرومانية.

ونتج عن ذلك

إسقاط النظام الملكى عام ٥١٠ ق.م، وإعلان الأرستقراطيين النظام الجمهورى.

النظام الجمهورى (٥١٠ ق.م : ٢٧ ق.م)

نظام حكم يقوم على أساس تقسيم السلطات وتوزيعها بين هيئات متعددة.

تكون من :

١ القنصلان

هما اثنان من الحكام يُنتخبان سنويًا لمدة عام واحد ويتم اختيارهما بالانتخاب المباشر بواسطة الشعب.

٢ مجلس الشيوخ

- يتكون من ٣٠٠ عضو من الأرستقراطيين.
- يقوم بإدارة شئون البلاد السياسية والتشريعية والاقتصادية والعسكرية.

٣ جمعية القبائل

- تُعد تطورًا للجمعية الشعبية.
- كانت تنعقد بناءً على دعوة أحد نقباء العامة.

٤ نقباء العامة

- هم همزة الوصل بين الدولة والعامة، ومهمتهم هى :
  - نقل مشاكل العامة لحكام المدينة.
  - إبلاغ العامة بأوامر الحكومة.

ديمقراطية روما

* لم يكن النظام الجمهورى فى روما ديمقراطيًا بمعنى الكلمة، فبالرغم من منح النظام الجمهورى للعامة حقوقًا كفلت لهم المساواة قانونًا مع الأشراف إلا أنها كانت مساواة شكلية حيث كان العامة يميلون لانتخاب مرشحين ينتمون لأسر من الأشراف وبالتالى استولى الأشراف على جميع المناصب ولم يكن للعامة نصيب منها وبذلك ظل نظامًا أرستقراطيًا.

الديكتاتورية

تركيز السلطات فى يد فرد واحد دون الاستناد إلى قوانين معينة ويخضع له المحكومون بدافع الخوف.

النظام الإمبراطورى (عصر الإمبراطورية الرومانية)

أكتافيوس

- بدأ بعد سيطرة القائد أكتافيوس على مصر عام ٣٠ ق.م، وقد منحه مجلس الشيوخ لقب «أغسطس»(*) عام ٢٧ ق.م، وأصبح بذلك أول إمبراطور رومانى.
- أدرك أكتافيوس أن أمن روما القومى يكمن فى :

(١) إنهاء الانقسامات بين القادة العسكريين الرومان والتفافهم حوله.
(٢) إعادة الأمن فى ربوع الإمبراطورية الرومانية.
(٣) المحافظة على أملاك الإمبراطورية الرومانية فى الشمال والشرق.
(٤) تحقيق العدالة الاجتماعية للمواطنين الرومان.

★ **انقسام الإمبراطورية الرومانية :**

تم تقسيم الإمبراطورية عام ٣٩٥م إلى قسمين كبيرين، هما :

	الإمبراطورية الرومانية الغربية	الإمبراطورية الرومانية الشرقية (الدولة البيزنطية)
عاصمتها	روما	القسطنطينية
سقوطها	سقطت على يد البربر عام ٤٧٦م وبذلك انتهت آخر حضارات العالم القديم.	انتهت باستيلاء السلطان العثمانى محمد الثانى على مدينة القسطنطينية عام ١٤٥٣م أى بعد سقوط روما بمدة تقرب من الألف عام.

سؤال و جواب

س١ قرر الأرستقراطيون فى روما الثورة على النظام الملكى بدافع .....

(أ) زيادة سلطة العامة.
(ب) حماية أملاك الإمبراطورية الرومانية.
(جـ) تحقيق طموحاتهم فى السلطة.
(د) تحديد سلطات الملك السياسية.

جـ **سبب الإجابة** : حيث قام الأرستقراطيون بالثورة على الملك تاركوينوس وسلب سلطاته وتوزيعها عليهم مما كان سببًا فى إسقاط النظام الملكى وإعلان النظام الجمهورى الذى كان يُعد نظامًا أرستقراطيًا.

س٢ ساهم حفاظ أكتافيوس على مكتسبات العصر الجمهورى بعد انفراده بحكم روما فى .....

(أ) تحقيق أمن روما القومى.
(ب) نشر العدالة الاجتماعية للرومان.
(جـ) نشر الثقافة الرومانية.
(د) السيطرة على التجارة الداخلية.

جـ (أ) **سبب الإجابة** : حيث ساهم حفاظ أكتافيوس على أملاك الإمبراطورية الرومانية فى الشمال والشرق إلى تحقيق الأمن القومى لروما.

(*) أغسطس : يعنى الحاكم الفعلى المتصرف فى جميع شئون الدولة.

٢ الحياة الاقتصادية

* نعمت إيطاليا بأراضى زراعية واسعة وموارد طبيعية وبشرية كبيرة جعلت الاقتصاد الرومانى قائمًا على الزراعة والتجارة إلى جانب الصناعة، يتضح ذلك فيما يلى :

الزراعة

- كانت الزراعة أساس الحياة فى روما، وكان يعمل بها جميع أفراد الأسرة وعبيدها.
- كانت الملكية الفردية قائمة فى روما منذ أقدم العصور، وقد امتلكت الطبقة الأرستقراطية مساحات واسعة من الأراضى الزراعية، وعمل عندهم أعداد كبيرة من العبيد.
- كان من أهم المحاصيل الزراعية عند الرومان :
  - القمح (أهم المحاصيل).
  - الزيتون.
  - الفاكهة خاصة الكروم (العنب).
  - البقول.

> بعد أن سيطرت روما على مصر أصبحت مصر مخزن القمح الدائم للإمبراطورية الرومانية.

تربية الحيوان

قام الرومان بتربية الخنازير، والأبقار والأغنام من أجل ألبانها، وأصوافها وجلودها.

الصناعة

- كانت أقل أهمية من الزراعة، وتمثلت الصناعات الكبيرة فى :
  - الصناعات التعدينية :
    (القائمة على المعادن المستخرجة من المناجم)، مثل :
    - صناعة الأدوات.
    - صناعة الأسلحة من الحديد والرصاص والقصدير.
    - صناعة العملة والمجوهرات من الذهب والفضة.
  - الصناعات الحجرية : القائمة على الأحجار المستخرجة من المحاجر لبناء المشروعات المختلفة.
  - الصناعات الفخارية : بواسطة مصانع صغيرة للفخار إلى جانب الصناعات اليدوية.
  - صناعات أخرى، مثل :
    - صناعة النسيج.
    - الصباغة.
    - صناعة الطوب.
    - النجارة.

نماذج من الأسلحة فى روما

نماذج من الصناعات فى روما

التجـارة

- **فى العصر الملكى** : كانت التجارة قاصرة على تبادل البضائع والسلع بين الأقاليم الرومانية.
- **فى العصر الإمبراطورى** : ازداد النشاط التجارى على يد أغسطس، **بسبب** :

(١) هيمنـة الإدارة المركزيـة فى رومـا علـى الإمبراطورية فى الداخل والخارج.

(٢) تأمين الملاحة البحرية بفضل قوة الأسطول الرومانى.

(٣) فتح أسواق جديدة فى أفريقيا وإسبانيا.

(٤) إعطاء الفرصة لقرطاجة لممارسة نشاطها التجارى من جديد.

(٥) تقدم السفن التجارية الرومانية بشكل كبير عن السفن اليونانية.

التجارة والسفر عند الرومانى القديم

وهكذا... أصبح البحر المتوسط طريقًا داخليًا للربط بين الولايات الرومانية.

وقد... استخدم الرومان نقودًا خاصة بهم لتسهيل المعاملات التجارية، كانت تُصنع من الفضة أو الذهب أو البرونز.

عملات رومانية

سؤال وجواب

س١ مثلت بعض الصناعات أهمية خاصة للدولة الرومانية خلال العصر الجمهورى ومنها .....

(أ) صناعة الغزل والنسيج.
(ب) الصناعات الفخارية.
(جـ) الصناعات المعدنية.
(د) الصناعات الحجرية.

جـ (جـ) **سبب الإجابة** : حيث تميز العصر الجمهورى بكثرة الحروب ولذلك ظهرت أهمية الصناعات المعدنية وخاصة صناعة الأسلحة من الحديد والرصاص والقصدير.

س٢ يعود تقدم السفن التجارية الرومانية بشكل كبير عن السفن اليونانية إلى .....

(أ) وفرة الأخشاب الجيدة فى روما.
(ب) الاستفادة من خبرات الفينيقيين.
(جـ) اهتمام اليونانيين بالأسطول العسكرى.
(د) اعتبار التجارة أساس حياة الرومان.

جـ (ب) **سبب الإجابة** : حيث سيطرت روما على فينيقيا وقرطاجة فاستفاد الرومان من خبرة الفينيقيين البحرية وكذلك خبرتهم فى بناء السفن مما أدى إلى تفوق السفن الرومانية على السفن اليونانية.

٣ الحياة الاجتماعية

انقسم المجتمع فى روما إلى عدة طبقات، هى :

طبقات المجتمع فى روما

١ الأشراف

- هم الطبقة الثرية ومنهم الفرسان (كبار رجال الجيش) حيث :
- امتلكت السلطة والمال والأراضى الزراعية الشاسعة.
- لها كافة الحقوق السياسية.

٢ التجار والحرفيون

- شكلوا جزءًا كبيرًا من المجتمع الرومانى.
- عاشوا حياة اقتصادية صعبة حيث تضرروا من كثرة حروب روما.

٣ العامة والمزارعون

دخلوا فى صراع سلمى ضد الأشراف «الأرستقراطيين» بهدف الحصول على حقوقهم السياسية والاجتماعية، واشتركوا فى ذلك مع طبقة التجار، والحرفيين وحققوا إنجازات كبيرة.

٤ العبيد

هم أسرى الحرب الذين فقدوا كافة حقوقهم الاجتماعية والسياسية، وقد شكلوا أزمة حقيقية داخل المجتمع الرومانى.

٤ الحياة الدينية

* تعددت معبودات الرومان، وكان من أهمها :
  - المعبود جوبيتر كبير المعبودات عند الرومان والذى يمثل السماء الصافية.
  - عبادة الأباطرة، مثل : أغسطس، تيبريوس والتى سقطت بعد انتشار الديانة المسيحية.
* لم يكن للكهنة طبقة مميزة عن غيرهم من الطبقات الاجتماعية ولم تتطلب وظيفتهم إعدادًا خاصًا أو تمرينًا وممارسة وهو دليل على مدى ارتباط الدين بالدولة.

التواصل الدينى بين مصر وبلاد الرومان

* تأثر الرومان بالإغريق (الذين تأثروا بالحضارة المصرية القديمة) فانتقلت إلى روما، الكثير من معتقدات الإغريق الدينية وكذلك المصرية مثل :
  - عبادة بعض المعبودات المصرية القديمة فقد تسامح الرومان مع المعبودات الأجنبية وأقاموا لها المعابد الدينية، مثل :
    - الإله سرابيس (المعبود المصرى الإغريقى).
    - الإلهة إيزيس (المعبودة المصرية العالمية) والإله أوزوريس.
  - عبادة بعض الأباطرة الرومان نتيجة لتأثرهم بظاهرة تقديس الفراعنة فى مصر القديمة.



الإله سرابيس

٥ الحياة الثقافية (الفكرية) والعلمية

* استخدم الرومان اللغة اللاتينية لغة رسمية للدولة ومن ثم انتشرت فى بقية أنحاء الدولة الرومانية.

الشعر

ازدهر الشعر خاصة فى عهد أغسطس حيث ظهر فى عهده «فرجيل» أعظم شعراء الرومان الذى خلد قصة تأسيس روما.

التاريخ

- كان هناك بعض المؤرخين من أصل رومانى تم تصنيفهم ضمن مؤرخى اليونان لأنهم كتبوا التاريخ باليونانية، مثل : «استرابون».
- من أشهر المؤرخين :

إينوس	لُقب بأبى التاريخ الرومانى، كتب حوليات(*) لملوك روما وحكامها.
كاتو الرقيب	– أول مؤرخ رومانى كتب بالنثر اللاتينى. – من مؤلفاته المهمة فى التاريخ «الأصول» ويتحدث عن تأسيس مدينة روما.

سؤال وجواب

س١ ظهرت بعض المشاكل الاجتماعية والأزمات داخل طبقات المجتمع الرومانى بسبب .....

(أ) السياسة الخارجية للرومان.
(ب) نقص الإنتاج الصناعى.
(جـ) تعدد المعبودات الرومانية.
(د) تغير نظام الحكم.

جـ (أ) **سبب الإجابة** : حيث اتسمت السياسة الخارجية للرومان بكثرة الحروب والمعارك التى أدت إلى :
– تضرر طبقة التجار والحرفيين فعاشوا حياة اقتصادية صعبة.
– وجود طبقة العبيد أسرى الحروب الذين فقدوا كافة الحقوق الاجتماعية والسياسية والذين شكلوا أزمة حقيقية داخل المجتمع الرومانى.

س٢ ظهر تأثير السياسة على المعتقدات الدينية فى الحضارة الرومانية خلال العصر .....

(أ) الملكى.
(ب) الجمهورى.
(جـ) الإمبراطورى.
(د) البيزنطى.

جـ (جـ) **سبب الإجابة** : حيث انتشرت عبادة الأباطرة مثل أغسطس، وتيبريوس والتى سقطت بعد انتشار الديانة المسيحية.

(*) الحوليات : هى مؤلفات تاريخية تسجل الوقائع والأحداث بترتيب زمنى دقيق حسب السنوات.

٦ الحياة الفنية تتمثل فى :

العمـارة

* بلغت العمارة عند الرومان درجة كبيرة من الإتقان حتى أصبحت أهم مظهر فنى للدولة الرومانية والتى كانت مزيجًا من العمارة اليونانية والمصرية وتدل البقايا الأثرية على مدى التفاعل الحضارى بين الحضارات.
* أنشأ الرومان أكثر المدن روعة فـى التاريخ وهى مدينة روما التى تميزت بالعديد من المنشآت الضخمة كالمعابد والقصور والحمامات وأقواس النصر.
* المنشآت المعمارية فى روما ومن أمثلتها :
  - مبنى الكوليسيوم.
  - البانثينون الرومانى والذى يظهر فيه التأثر بالعمارة اليونانية.

مبنى الكوليسيوم

البانثينون الرومانى

النحـت

* تميز بالواقعية الشديدة خاصة فى نحت التماثيل الشخصية، مثل :
  - رأس قيصر (من حجر البازلت).
  - تمثال بومبى.
* تفوق الرومان فى النقوش البارزة على الجدران والأعمدة واستخدمت كزخارف وزينة، مثل :
  - نقوش عمود تراجان.
  - زخارف الصلصال المحروق على جدران المعابد التى تجلى فى نحتهم دقة العمل والتعبير عن الشعور.
  - النقـوش الموجودة على أقـواس النصر (من روائع النحت الرومـانى) التى كانت تقام تخليدًا لانتصارات القادة العظام والأباطرة وأجملها :

    قوس الإمبراطور تيتوس.



قوس النصر

عمود تراجان

التصوير (الرسم)

* انتقل فن التصوير الإغريقى إلى الإمبراطورية الرومانية بانتقال الرسامين الإغريق إلى روما عاصمة الإمبراطورية.

* ازدهر فن التصوير القديم وازداد انتشارًا عند الرومان وذلك لـ: حاجة المسكن الرومانى إلى تجميل حوائطه من الداخل، فقد استخدم النبلاء الرومان المصورين الإغريق فى تزيين جدران قصورهم بالرسوم الملونة لتنقل الطبيعة والحياة من خارج المسكن إلى داخله، كما اهتموا بزخرفة أرضيات الحجرات بلوحات من الفسيفساء الملون التى تحمل مناظر معبرة.

فن الفسيفساء الرومانى

التواصل الفنى بين مصر وبلاد الرومان

• أقام الرومان بالإسكندرية العديد من المنشآت المعمارية التى تأثرت بالحضارة الإغريقية والمصرية مثل :

- البوابات.
- المسارح.
- المعابد.

• تأثر النحت الرومانى بالنحت المصرى والدليل على ذلك العثور على تمثال رومانى من الرخام يعود للقرن الثانى الميلادى منحوت على هيئة مصرية.

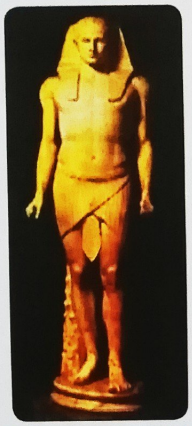

تمثال رومانى من الرخام فى هيئة مصرية

سؤال وجواب

س بلغ فن النحت الرومانى درجة كبيرة من الإتقان ولكنه ابتعد عن .....

(أ) تجسيد الآلهة.
(ب) محاكاة الواقع.
(جـ) تخليد انتصارات القادة العظام.
(د) الخيال والمبالغة.

جـ (د) **سبب الإجابة** : حيث تميز النحت عند الرومان بالواقعية الشديدة خاصة فى نحت التماثيل الشخصية مثل تمثال بومبى ورأس قيصر وبالتالى ابتعد الفنان الرومانى عن الخيال والمبالغة.

أهم نقاط الدرس

الحضـــارة الرومـــانية

تأسست روما عام ٧٥٣ ق.م ودخلت فى العديد من الحروب
حتى وصلت إلى الشرق وسيطرت على مصر وجعلتها ولاية رومانية عام ٣٠ ق.م.

مظاهر الحضارة الرومانية

١ الحياة السياسية :

* كانت روما هى عاصمة الإمبراطورية التى نشأت فى إيطاليا.
* مرت الدولة الرومانية بثلاث أنظمة سياسية :
  • النظام الملكى. • النظام الجمهورى. • النظام الإمبراطورى.

٢ الحياة الاقتصادية :

* **الزراعـة :** كانت أساس الحياة فى روما حيث يعمل جميع أفراد الأسرة وعبيدها.
* **تربية الحيوان :** قاموا بتربية الخنازير والأبقار والأغنام.
* **الصناعة :** كانت أقل أهمية من الزراعة ومن أمثلتها الصناعات التعدينية والحجرية والفخارية وغيرها.
* **التجـارة :** فى العصر الملكى كانت التجارة قاصرة على تبادل البضائع والسلع بين الأقاليم الرومانية، بينما زاد النشاط التجارى فى العصر الإمبراطورى.

٣ الحياة الاجتماعية :

* كان المجتمع الرومانى مجتمعًا طبقيًا يتكون من أربع طبقات تتمثل فى :
  • الأشراف. • التجار والحرفيون. • العامة والمزارعون. • العبيد.

٤ الحياة الدينية :

* تعددت معبودات الرومان، وأهمها المعبود جوبيتر.
* انتشرت عبادة الأباطرة مثل أغسطس وتيبريوس.

٥ الحياة الثقافية (الفكرية) والعلمية :

* **الشعر :** ازدهر خاصة فى عهد «أغسطس»، ومن أشهر شعراء الرومان «فرجيل».
* **التاريخ :** من أشهر المؤرخين «إينوس، كاتو الرقيب».

٦ الحياة الفنية : تمثلت فى :

* **العمارة :** تُعد مزيجًا من العمارة اليونانية والمصرية.
* **النحـت :** تميز بالواقعية الشديدة خاصة فى نحت التماثيل الشخصية.
* **التصوير :** انتقل فن التصوير الإغريقى (الرسم) إلى الإمبراطورية الرومانية بانتقال الرسامين الإغريق إلى روما.

التواصل الحضارى بين مصر وبلاد الرومان

١ التواصل الديـنى

* تأثر الرومان بالإغريق الذين تأثروا بالحضارة المصرية فانتقلت إلى روما :
  • الكثير من معتقدات الإغريق الدينية.
  • عبادة بعض المعبودات المصرية القديمة وأقاموا لها المعابد الدينية.
  • عبادة بعض الأباطرة الرومان.

٢ التواصل الفـنى

* أقام الرومان بالإسـكندرية العديد من المنشـآت المعمارية التى تأثرت بالحضـارة الإغريقيـة والمصريـة مثل البوابات والمسارح والمعابد.
* تأثر النحـت الرومانى بالنحـت المصرى.

أسئلة

الدرس الثالث

• فهم • تطبيق • تحليل • تقويم • ابتكار

أ اختر الإجابة الصحيحة من بين البدائل التالية :

١ يتضح من خلال الخريطة التالية أن الدولة الرومانية امتد نفوذها إلى الأراضى الآسيوية خلال العصر.....

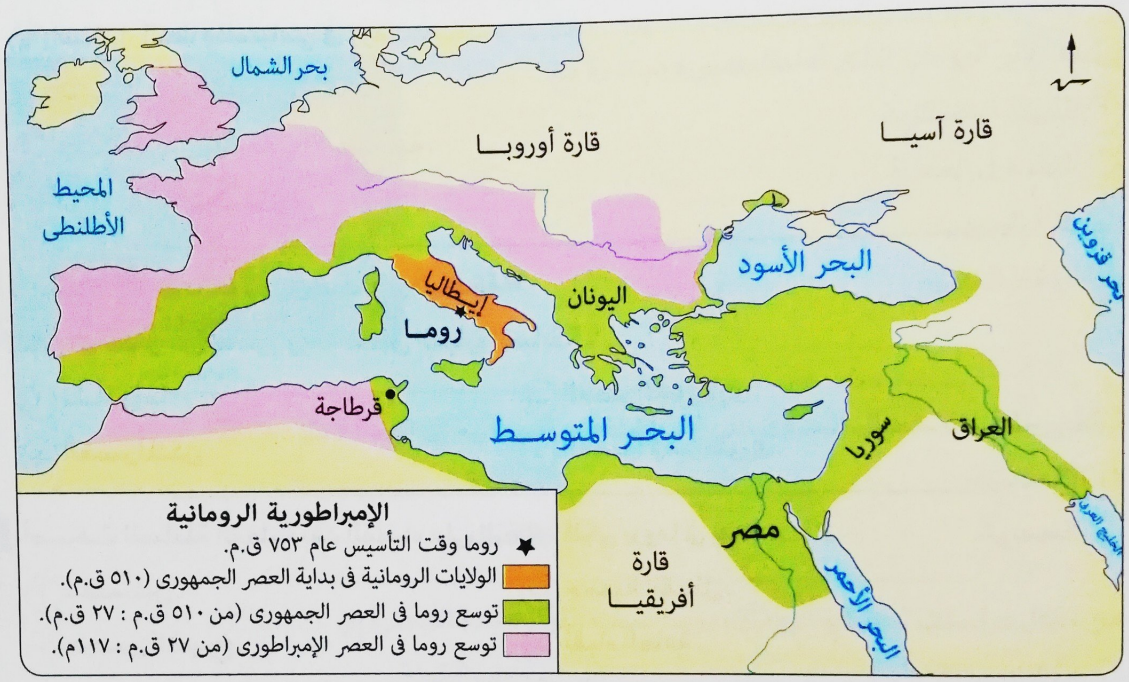

(أ) الملكى. (ب) الجمهورى.

(جـ) الإمبراطورى. (د) البيزنطى.

---

٢ نتج عن تحول روما من النظام الملكى إلى النظام الجمهورى زيادة سلطة .....

(أ) القنصلان. (ب) مجلس الشيوخ.

(جـ) جمعية القبائل. (د) نقباء العامة.

---

٣ اتسمت الدولة الرومانية قبل تولية أكتافيوس الحكم بـ.....

(أ) الصراعات السياسية والعسكرية. (ب) وجود فصل بين السلطات.

(جـ) العدالة الاجتماعية. (د) الصراعات الدينية والطبقية.

---

٤ يمكن انتقاد النظام الجمهورى فى روما قديمًا بسبب .....

(أ) دور نقباء العامة. (ب) نظام اختيار القنصلين.

(جـ) سلبية جمعية القبائل. (د) قِصر مدة حكم القنصلين.

٥ يعد العامل المشترك بين الأنظمة الحاكمة الثلاث فى تاريخ الرومان .....
(أ) تطبيق الديمقراطية.
(ب) تحقيق العدالة الاجتماعية.
(جـ) سيطرة النبلاء على السلطة التنفيذية.
(د) إسناد السلطة القضائية لرجال الدين.

٦ أدت الحروب البونية التى انتهت عام ١٤٦ ق.م إلى .....
(أ) استقرار النظام السياسى فى روما.
(ب) اتساع الحدود الرومانية شرقًا.
(جـ) معاناة بعض الطبقات الاجتماعية.
(د) ازدهار التجارة الداخلية.

٧ *«امتلاك الثروة قد يؤدى إلى الطمع فى السلطة»*.
على أى عصر من عصور روما تنطبق العبارة السابقة ؟ .....
(أ) نشأة روما.
(ب) العصر الجمهورى.
(جـ) العصر الملكى.
(د) العصر الإمبراطورى.

٨ أصبحت السلطة الفعلية بعد القضاء على النظام الملكى بروما فى يد .....
(أ) القنصلين.
(ب) جمعية القبائل.
(جـ) مجلس الشيوخ.
(د) نقباء العامة.

٩ زاد نفوذ روما فى العالم القديم حتى أصبحت .....
(أ) راعية الديمقراطية.
(ب) راعية الفكر والثقافة.
(جـ) سيدة البحر الأحمر.
(د) القوة العظمى.

١٠ كان البحر المتوسط قديمًا طريقًا داخليًا يربط بين الولايات الرومانية مما يدل على .....
(أ) قوة الأسطول العسكرى الرومانى.
(ب) اتساع أراضى الإمبراطورية الرومانية.
(جـ) تقدم السفن التجارية الرومانية.
(د) انتصار الإمبراطورية الرومانية على قرطاجة.

١١ تأثر الرومان قبل احتلالهم لمصر بالعقائد المصرية القديمة من خلال .....
(أ) التجارة مع مصر.
(ب) التواصل الثقافى مع الفراعنة.
(جـ) التواصل مع اليونانيين.
(د) زيارات الرومان لمصر.

١٢ مَثَّلَ نقباء العامة فى النظام الجمهورى بروما جزءًا من السلطة .....

(أ) القضائية.
(ب) التشريعية.
(جـ) الدينية.
(د) التنفيذية.

١٣ قامت الحروب البونية التى خاضتها روما واستمرت لمدة مائة عام لأسباب .....

(أ) سياسية واقتصادية.
(ب) سياسية ودينية.
(جـ) اجتماعية واقتصادية.
(د) دينية واجتماعية.

١٤ يرتبط الأثر الرومانى الذى أمامك بصورة مباشرة مع .....

قوس النصر

(أ) التربية العسكرية.
(ب) التقدم فى العمارة.
(جـ) كثرة الحروب.
(د) الرخاء المادى.

١٥ تنتمى زخارف الصلصال المحروق على جدران المعابد الرومانية إلى الصناعات .....

(أ) التعدينية.
(ب) الفخارية.
(جـ) الحجرية.
(د) الخشبية.

١٦ من خلال دراستك لحضارة الرومان، يرجع سبب انتهاء عبادة الأباطرة إلى .....

(أ) انتشار عبادة إيزيس.
(ب) اعتراض الكهنة.
(جـ) تعارضها مع الشرائع السماوية.
(د) إلغاء الأباطرة لها.

١٧ تعبر الصورة التى أمامك عن تأثر العمارة الرومانية بالعمارة اليونانية و .....



البانثيون الرومانى

(أ) الفينيقية.
(ب) البابلية.
(جـ) الآشورية.
(د) الفرعونية.

١٨ تحولت روما من مدينة صغيرة إلى إمبراطورية كبيرة وتلك رحلة نجاح تحسب لروما، وتعد نقطة البداية الحقيقية لهذا الصعود .....

(أ) السيطرة على مقدونيا.
(ب) الانتصار فى أكتيوم البحرية.
(جـ) السيطرة على شبه الجزيرة الإيطالية.
(د) تحول قرطاجة لولاية رومانية.

٢٨ ارتبط ازدهار التجارة الداخلية والخارجية فى الإمبراطورية الرومانية بالصناعات .....

(أ) الورقية.
(ب) المعدنية.
(جـ) الفخارية.
(د) الحجرية.

٢٩ ارتبطت عودة النشاط التجارى لغرب البحر المتوسط بعد سيطرة الرومان عليه إلى سابق عهده مع .....

(أ) سقوط قرطاجة فى يد روما.
(ب) هزيمة السليوقيين فى سوريا.
(جـ) تحول روما إلى إمبراطورية.
(د) فترة حكم يوليوس قيصر.

ب اختر إجابتين صحيحتين من بين البدائل التالية :

٣٠ نستدل على تأثر الرومان بمعتقدات الحضارات الأخرى الدينية من خلال ..... و .....

(أ) الإيمان بالحساب بعد الموت.
(ب) تقديس المعبود سرابيس.
(جـ) تقديس الأباطرة الرومان.
(د) الإيمان بالثواب والعقاب.
(هـ) عبادة الإله آمون.

جـ أسئلة المقال :

٣١ **ما تقييمك لـ :**

أثر الحروب البونية التى انتهت عام ١٤٦ ق.م على الأوضاع الاجتماعية والاقتصادية لروما ؟

٣٢ **ما رأيك فى :**

إعطاء الرومان الفرصة لقرطاجة لممارسة نشاطها التجارى من جديد ؟

٣٣ «*كان النظام الجمهورى حدًا فاصلًا بين سقوط نظام وإحياء نظام آخر*».

فى ضوء العبارة السابقة ، حدد : دور الأرستقراطيين فى النظامين الملكى والجمهورى.

٣٤ **أثبت بالأدلة التاريخية صحة العبارة الآتية :**

تأثر النشاط التجارى فى روما قديمًا بالنظام السياسى.

تنويه

لمعرفة كيفية الوصول للإجابة الصحيحة
استخدم QR Code

امتحان تراكمى

أسئلة تفاعلية

● فهم ● تطبيق ● تحليل ● تقويم ● ابتكار

أ اختر الإجابة الصحيحة من بين البدائل التالية :

١ أى من الصناعات الآتية وجدت فى الحضارة الرومانية وخلا وجودها فى الحضارة الفرعونية ؟ .....

(أ) الصناعات الحجرية.
(ب) الصناعات الفخارية.
(جـ) صناعة العملات.
(د) صناعة الأسلحة.

---

٢ ظهرت عبادة الإلهة عشتار فى كل من مصر وسوريا والعراق قديمًا نتيجة لـ .....

(أ) وحدتهم السياسية.
(ب) تواصلهم الحضارى.
(جـ) تقديسهم للظواهر الطبيعية.
(د) وحدة نشاطهم الاقتصادى.

---

٣ يرجع سماح روما لقرطاجة بممارسة نشاطها التجارى من جديد إلى .....

(أ) سعيها للصلح مع قرطاجة.
(ب) تخوفها من ثورات القرطاجيين.
(جـ) رغبتها فى تأمين تجارتها البحرية.
(د) رغبتها فى الاستفادة من خبرات قرطاجة البحرية.

---

٤ قام النظام السياسى للدولة البطلمية فى مصر على .....

(أ) السيطرة على جميع السلطات.
(ب) سيطرة رجال الدين على الحكم.
(جـ) استقلالية القضاء عن الملك.
(د) تطبيق ديمقراطية أثينا.

---

٥ اختلفت قرطاجة عن المدن الفينيقية منذ نشأتها فى المجال .....

(أ) الاقتصادى.
(ب) الثقافى.
(جـ) العسكرى.
(د) السياسى.

---

٦ الدرس المستفاد من نجاح الفينيقيين فى تنويع أنشطتهم الاقتصادية رغم صعوبة الظروف الطبيعية هو .....

(أ) الوحدة السياسية موطن القوة.
(ب) التواصل الحضارى أساس التقدم.
(جـ) حُسن استغلال الموارد المتاحة.
(د) وفرة الموارد يؤدى إلى الازدهار.

٧ تعد سلطة جمعية الأحياء فى روما قديمًا سلطة .....

(أ) تنفيذية.
(ب) قضائية.
(جـ) استشارية.
(د) تشريعية.

٨ من الروابط المشتركة بين كل من الحضارة العراقية القديمة والحضارة الإغريقية .....

(أ) الارتباط بالأنهار والسهول الخصبة.
(ب) سيادة الإله زيوس على جميع الآلهة.
(جـ) الالتزام بقواعد الحكم الديمقراطى.
(د) تشييدهم لإحدى عجائب الدنيا السبع القديمة.

٩ تمكن الرومان من السيطرة الكاملة على سواحل البحر المتوسط بعد سقوط .....

(أ) مدينة قرطاجة.
(ب) دولة السليوقيين.
(جـ) دولة البطالمة.
(د) الدولة المقدونية.

١٠ تتويج الملك فى الزاقورات فى بلاد العراق القديم يدل على .....

(أ) سيطرة الكهنة على أمور الحكم.
(ب) اعتبار الزاقورة مقر للحكم فى الدولة.
(جـ) تغلغل الدين فى حياة العراقيين القدماء.
(د) التواصل الدينى مع الحضارة المصرية القديمة.

١١ استكمل الإسكندر الأكبر مسيرة أبيه فيليب المقدونى من خلال رغبته فى .....

(أ) نشر الثقافة الإغريقية.
(ب) القضاء على دولة الفرس.
(جـ) توسيع إمبراطوريته غربًا.
(د) القضاء على إسبرطة وأثينا.

١٢ رغم تنوع الأنشطة الاقتصادية فى بلاد اليونان وفينيقيا إلا أن المورد الأساسى للاقتصادين كان النشاط .....

(أ) الزراعى.
(ب) الصناعى.
(جـ) التجارى.
(د) التعدينى.

ب اختر إجابتين صحيحتين من بين البدائل التالية :

١٣ الشكل المقابل يوضح طبقات المجتمع فى روما قديمًا يمكن أن نستدل منه على ..... و .....

(أ) القوة السياسية للإمبراطورية الرومانية.

(ب) كثرة حروب الإمبراطورية الرومانية.

(جـ) نجاح القانون الرومانى فى تحقيق العدالة.

(د) تمتع المجتمع الرومانى بالاستقرار الاجتماعى.

(هـ) افتقاد المجتمع الرومانى للتجانس.

طبقات المجتمع فى روما

جـ أسئلة المقال :

١٤ حدد العلاقة بين :

البطالمة، ومعرفة التاريخ المصرى الفرعونى.

١٥ فسر : نجاح الملك نبوخذ نصر الثانى فى تكوين إمبراطورية بابلية قوية.

١٦ حدد تقييمك لمصداقية العبارة التالية تاريخيًا :

استحدث البطالمة نظامًا سيطر على جميع نواحى الاقتصاد فى مصر.

الدرس الرابع

مصر تحت حكم الرومان



أهداف الدرس :

فى نهاية الدرس يتوقع أن يكون الطالب قادرًا على أن :

- يفسر أسباب اهتمام الرومان بحكم مصر.
- يتعرف أهم مظاهر حكم الرومان فى مصر.
- يحدد على خريطة زمنية أهم الأحداث التاريخية المرتبطة بحكم الرومان فى مصر.
- يحدد أهم المظاهر الدينية فى العصر الرومانى.
- يعدد أسباب فساد حكم الرومان لمصر.
- يحدد أهم الخصائص التى تميز الحضارة الرومانية فى مصر.
- يتنبأ بالنتائج التى ترتبت على فساد الحكم الرومانى فى مصر.
- يكتب بحثًا تاريخيًا عن حالة مصر تحت الحكم الرومانى.
- يقدر دور الشعب المصرى فى مقاومة الاحتلال الرومانى.

القضايا المتضمنة :

- التربية من أجل المواطنة.
- الاضطهاد الدينى.
- الوحدة الوطنية.

فى هـذا الدرس نتعــرف

أحوال مصر تحت الحكم الرومانى

سقوط الحكم الرومانى فى مصر

الفتح العربى الإسلامى لمصر ٦٤١م

* تمتعت مصر بمركز خاص عن بقية الولايات الرومانية، بسبب :
- أهمية موقعها الجغرافى فى ملتقى قارات العالم القديم والمتحكم فى طرق التجارة آنذاك.
- إمدادها لروما بالقمح اللازم لإطعام سكانها حيث كانت مصر مخزن القمح الدائم للإمبراطورية.

أحوال مصر تحت الحكم الرومانى تمثلت فى :

١ الحياة السياسية
٢ الحياة الاقتصادية
٣ الحياة الاجتماعية
٤ الحياة الدينية
٥ الحياة الثقافية (الفكرية)
٦ الحياة الفنية

١ الحياة السياسية

* كان النظام السياسى المتبع فى الإمبراطورية الرومانية يقضى بأن يحكم الولايات قنصل سابق، ولكن نظرًا لأهمية مصر الاقتصادية والجغرافية قرر الإمبراطور «أغسطس» :

١ أن يكون حاكم مصر :
- تابعًا له ويتلقى الأوامر منه مباشرة.
- من طبقة الفرسان الموالية له.
- ذو كفاءة إدارية ومالية وخبرة عسكرية.

٢ حظر على أى شخص من أعضاء السناتو دخول مصر إلا بإذن من الإمبراطور مباشرة.

الإمبراطور أغسطس

* التقسيم الإدارى لمصر : قُسمت مصر إداريًا إلى ثلاثة أقسام يرأس كل منها حاكم رومانى، وهى :

(١) مصر السفلى تشمل الوجه البحرى.
(٢) مصر الوسطى تشمل القسم الشمالى من الوجه القبلى.
(٣) مصر العليا تشمل القسم الجنوبى من الوجه القبلى.

سؤال و جواب

س غير الرومان تنظيم مصر الإدارى بهدف .....
(أ) تحقيق السيطرة والاستقرار.
(ب) توزيع السلطات على الرومان.
(جـ) حرمان المصريين من المناصب.
(د) تحقيق التنمية الشاملة لمصر.

جـ (أ) سبب الإجابة : حيث قام الرومان بتقسيم مصر إداريًا إلى ثلاث أقسام مصر السفلى ومصر الوسطى ومصر العليا يرأس كل منها حاكم رومانى.

٢ الحياة الاقتصادية

* كانت مصر بالنسبة للرومان مورد اقتصادى كبير ينعش الخزانة الرومانية بالمال والغلال لذلك حاول الرومان النهوض بالمجالات الاقتصادية فى مصر للانتفاع بمواردها، ويتضح ذلك فيما يلى :

الزراعة اهتم بها الرومان فقاموا بـ :

- حفر ترع جديدة وتطهير الترع القديمة.
- ضبط مياه النيل.
- زيادة المحاصيل الزراعية، خاصة القمح.
- زيادة محاصيل الفواكه والخضراوات ونبات البردى ونباتات الزينة.

الصناعة اهتم الرومان بالصناعات خاصة التى أتقنها المصريون منذ أيام الفراعنة، ومن أهمها :

- صناعة ورق البردى الذى كانت مصر مصدره الوحيد فى العالم.
- صناعة النسيج من الكتان ويُعد من أجود أنواع الأقمشة آنذاك والمنسوجات الصوفية.
- صناعة الأوانى الفخارية والأدوات المنزلية.
- صناعة الحُلى الذهبية والفضية وتصنيع المعادن.
- صناعة الزيوت والعطور والعقاقير الطبية.
- الصناعات الزجاجية والخشبية.

هادريان يتحدث عن مدينة الإسكندرية



هادريان
(١١٦م : ١٣٨م)

زار الإمبراطور الرومانى هادريان الإسكندرية فى القرن الـ ٢م، وتحدث عنها قائلًا :
إنها مدينة غنية تتمتع بالثراء والرخاء، لا يوجد بها عاطل عن العمل فهناك من يعمل فى صناعة الزجاج وآخرون فى صناعة البردى أو النسيج أو أى حرفة أخرى، الكل يعمل حتى أصحاب العاهات من العجزة والعميان، وحتى الذين فقدوا أيديهم لا يقضون حياتهم عاطلين.

المؤرخ استرابون

زار مصر فى أوائل العصر الرومانى وقد ذكر «أن صانعى الزجاج بالإسكندرية كانت لديهم أسرار خاصة بهذه الصناعة، كما أن تربة مصر كانت تحتوى على مادة معينة تصلح بوجه خاص لصناعة الزجاج متعدد الألوان».

التجـارة

انقسمت فى مصر تحت الحكم الرومانى إلى نوعين هما :

(١) التجارة الداخلية :

- اهتم بها الرومان فقاموا بتحسين الطرق وتمهيدها.
- مارسها سكان مصر فى عهد الرومان بكل حرية.

(٢) التجارة الخارجية :

- أشـرف عليها الرومان إشـرافًا كاملًا حيث كانت الإدارة الرومانية ترسـل ممثلين لها مع السـفن التجارية فى البحرين المتوسط والأحمر.
- أعاد الرومان حفر القناة التى تصل بين النيل والبحر الأحمر لتنشيط التجارة.

وقد استفاد الرومان من هذه الموارد عن طريق فرض الضرائب ...

الضرائب

كانت أهم ما سعى إليه الرومان فى مصر ولذلك وضعوا نظام ضرائب فى منتهى الدقة (لم يسمع عنه فى العالم القديم كله) حتى يتمكنوا من تحصيل أية مبالغ من الأهالى للدولة حيث :

(١) استخدموا نظام الإحصاء السُكانى، الذى يحدد أعداد السكان وأعمالهم وأنواعهم.

(٢) فرضوا على سكان مصر أكثر من ٢٠٠ نوع من الضرائب.

(٣) استحدثوا نظام الخدمات الإلزامية، وهى أعمال تُفرض على الأهالى بدون مقابل.

سـؤال و جواب

س تُعد أكثر الفئات المصرية التى استفادت من النشاط الاقتصادى للرومان .....

(أ) الصناع. (ب) التجار.

(جـ) الجنود. (د) الفلاحون.

جـ (ب) **سبب الإجابة** : لأن الرومان سمحوا للتجار المصريين بممارسة التجارة الداخلية بكل حرية.

٣ الحياة الاجتماعية

انقسم المجتمع فى مصر تحت الحكم الرومانى إلى عدة طبقات، هى :

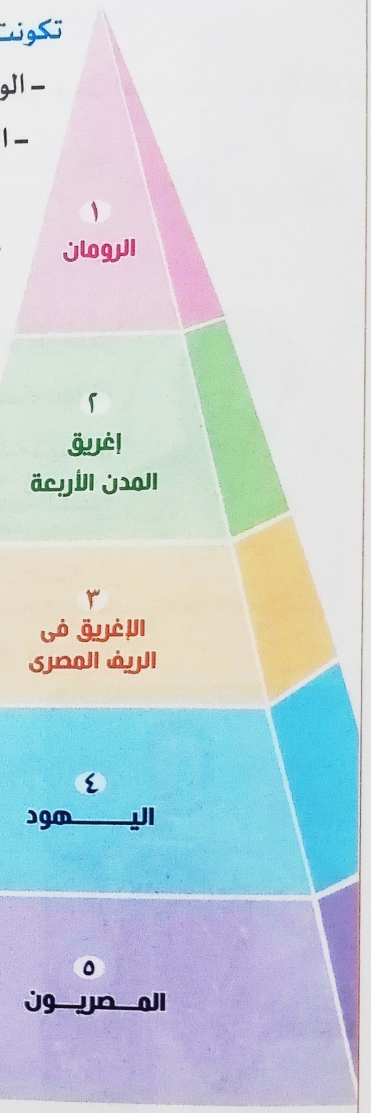

١ الرومان

تكونت من :

- الوالى : كان على رأس الهرم الاجتماعى، ويقيم فى الإسكندرية ويساعده حُكام المديريات.
- الجنود الرومان : جنود الحاميات الرومانية التى عاشت فى مصر وتضم الفرسان والمشاة.
- المواطنون الرومان : الذين قدموا إلى مصر للتجارة نظرًا لثرائهم. وقد تمتعوا بكافة الامتيازات المالية والقانونية فى مصر.

٢ إغريق المدن الأربعة

- شكلوا الطبقة الوسطى وقد تمتعوا ببعض الامتيازات أهمها عدم دفع ضريبة الرأس (الجزية).
- سكنوا المدن الأربعة، وهى : نقراطيس، والإسكندرية، وبطلميس، وأنطينوبوليس.

٣ الإغريق فى الريف المصرى

- انتشروا فى عواصم الأقاليم.
- عملوا فى التجارة والأعمال المصرفية وشغلوا المناصب العامة فى الدولة.

٤ اليهود

- عاشوا فى أحياء مخصصة لهم، مثل : (الحى الرابع بالإسكندرية).
- كانوا أصحاب رؤوس أموال ويعملون فى التجارة والبنوك والمراباة.

٥ المصريون

- يقصد بهم كل من كان يعيش فى أنحاء مصر وليس من الفئات السابقة.
- فُرضت عليهم كافة الأعباء الضريبية.
- ليست لهم حقوق قانونية.

! كان لا يُسمح لأى أحد من فئة سكانية أن يرقى إلى الفئة الأعلى إلا بقانون يصدر من الإمبراطور نفسه.

سؤال وجواب

س تمتعت الطبقة العليا من الإغريق فى ظل حكم الرومان لمصر ببعض المخصصات .....

(أ) المالية.
(ب) السياسية.
(جـ) العسكرية.
(د) الدينية.

جـ (أ) سبب الإجابة : حيث أعطى الحكام الرومان للإغريق امتياز عدم دفع ضريبة الرأس (الجزية).

٤ الحياة الدينية تمثلت فى :

عبادة الأباطرة

* اعتبر المصريون الإمبراطور هو الوريث الشرعى للملك الفرعونى والبطلمى حيث استبدلوا عبادة الملوك البطالمة بعبادة الأباطرة الرومان.

هادريان فى زيارة لمصر

أقام الإمبراطور الرومانى هادريان «١١٦م : ١٣٨م» معبدًا للإله السكندرى «سرابيس» المعبود المصرى الإغريقى كما زار مصر وقام برحلة إلى الصعيد عن طريق نهر النيل ووصل إلى الأقصر، وأثناء عودته غرق صديقه أنطينوس فى النيل فحزن عليه الإمبراطور وأمر بتشييد مدينة فى مكان الحادث تحمل اسمه، وهى مدينة «أنطينوبوليس» وهى مدينة الشيخ عبادة الآن تجاه مدينة ملوى بمحافظة المنيا.



هادريان

الديانة المسيحية

* كانت أهم متغير دينى فى القرون الثلاثة الأولى الميلادية.

ولكن... كيف ظهرت المسيحية ؟ وكيف دخلت مصر ؟

* ظهورها :

ولد السيد المسيح عليه السلام فى بيت لحم بفلسطين فى عهد الإمبراطور الرومانى أكتافيوس «أغسطس» وأخذ يبشر للإيمان بالله الواحد والمحبة والسلام والإخاء والتسامح.

* دخولها مصر :

- دخلت المسيحية مصر على يد القديس مرقس فى منتصف القرن الأول الميلادى فى عهد الإمبراطور الرومانى نيرون (٥٤م : ٦٨م).
- أقبل المصريون على اعتناق المسيحية لأنهم وجدوا فيها مبادئ سامية وخلاصًا لهم من واقعهم المضطرب والقهر والذل الذى عانوا منه تحت الحكم الرومانى.



القديس مرقس
أحد تلاميذ السيد المسيح

الاضطهاد الرومانى للمسيحيين

* تعرض السيد المسيح عليه السلام وأتباعه للاضطهاد الرومانى لأن :

- مبادئ المسيحية تخالف الوثنية.
- المسيحيون رفضوا تقديس صور الأباطرة الرومان.

نشأت الرهبنة المسيحية فى مصر وانتشرت الأديرة بسبب محاولات المسيحيين الابتعاد عن بطش السلطة الحاكمة.

وقد اختلف موقف الأباطرة الرومان من المسيحية كالتالى :

الإمبراطور نيرون (٥٤م : ٦٨ م)

بلغ الاضطهاد للمسيحية فى عهده إلى حد كبير.

الإمبراطور دقلديانوس (٢٨٤م : ٣٠٥م)

- قام بإصدار مرسوم يقضى بـ :
  - هدم الكنائس.
  - حرق الكتب المقدسة.
  - إعدام من يتبع التعاليم المسيحية.
- سُمى عصره بعصر الشهداء بسبب ما تعرض له المصريين من حركة اضطهاد.

لذلك اتخذت الكنيسة القبطية فى مصر من عام ٢٨٤ م بداية للتقويم القبطى تخليدًا لتاريخ شهدائها.

> الأقباط كلمة تطلق على المصريين جميعًا.

الإمبراطور قسطنطين

قام بإصدار مرسوم ميلان عام ٣١٣ م (*مرسوم التسامح مع المسيحيين*) والذى أعطى الحرية الدينية للمسيحيين.

الإمبراطور ثيؤدوسيوس (٣٧٨م : ٣٩٥ م)

قام بإصدار مرسومًا بإلغاء الوثنية والاعتراف بالمسيحية ديانة رسمية للدولة.

سؤال وجواب

س١ أقام الإمبراطور هادريان معبدًا للإله سرابيس بهدف .....

(أ) نشر المعبودات الإغريقية.
(ب) نشر الحضارة الهيلينستية.
(جـ) تأكيد السيادة الرومانية.
(د) إظهار التسامح الدينى.

جـ (د) سبب الإجابة : حيث كان سرابيس أحد المعبودات المصرية الإغريقية، وإقامة الإمبراطور هادريان لمعبد سرابيس يدل على احترامه للمعبودات المصرية.

س٢ بدأت شعائر المسيحية تمارس فى العلن منذ عهد الإمبراطور.....

(أ) نيرون.
(ب) قسطنطين.
(جـ) هادريان.
(د) ثيؤدوسيوس.

جـ (ب) سبب الإجابة : حيث قام الإمبراطور قسطنطين بإصدار مرسوم ميلان عام ٣١٣م والذى أعطى الحرية الدينية للمسيحيين.

٥ الحياة الثقافية (الفكرية)

* خلال العصر الرومانى ظلت الإسكندرية مركزًا للعلم، حيث :
  - ازدهر بها الكثير من العلوم خاصة :
    - الطب، فقد احتفظت الإسكندرية بشهرتها ومكانتها فى علم الطب.
    - الهندسة.
    - التاريخ.
    - الميكانيكا.
    - الجغرافيا.
    - الفلسفة، ومن أشهر فلاسفتها «أفلوطين» وهو مصرى من أسيوط عاش فى القرن الـ ٣م.
  - اقتصرت الدراسات الأدبية على نشر وشرح الأعمال الأدبية القديمة.

* قامت المدرسة المسيحية بالإسكندرية بدور فعال فى إثراء الحياة الثقافية وانتشر الأدب القبطى الذى اتخذ شكل مواعظ تتعلق بالأمور الدينية، مثل :
  - قصص القديسين.
  - شرح الكتاب المقدس.
  - تراجم (سيَّر) شهداء الأقباط.

  } كان الغرض منها الحث على الفضائل ومكارم الأخلاق.

ولكن ... لم يدم ازدهار منشآت الإسكندرية الثقافية والعلمية طويلًا حيث قام الرومان بتدمير المدينة عدة مرات بما فيها دار العلم والمكتبة نتيجة لقيام ثورات واضطرابات بها.

بقيت الإسكندرية فى عصر الرومان من أعظم موانئ البحر المتوسط وأعرقها حضارة.

اشتملت الأديرة فى مصر على مراكز علمية ممتازة لعلوم الكنيسة، وقام الرهبان بها بدور فعال فى نسخ المخطوطات ومن أهمها الكتاب المقدس وقوانين الكنيسة وغيرها.

التواصل الثقافى بين مصر وبلاد الرومان

قام الرومان بتعديل تقويمهم القديم الذى كان يقسم السنة إلى عشرة أشهر ليصبح كالتقويم المصرى الذى يتكون من اثنى عشر شهرًا لأنه التقويم الأهم الذى يعتمد على السنة الشمسية التى تتكون من ٣٦٥ يومًا وربع اليوم.

٦ الحياة الفنية

* خلال العصر الرومانى ظلت الفنون مزدهرة فى مصر والدليل على ذلك ما عثر عليه فى مدينة الإسكندرية ولا يزال معروضًا حتى الآن بالمتحف اليونانى الرومانى، وقد انقسمت الفنون إلى قسمين رئيسيين هما :

فن الطبقة الحاكمة يتمثل فى :

تماثيل الأباطرة الرومان والنقوش التى زُينت بها جدران التوابيت الحجرية.

الفن الشعبى يتمثل فى :

- آلاف التماثيل الصغيرة والأوانى الفخارية والحجرية والمعدنية التى تزخر بها المتاحف.
- استخدام الفسيفساء والذى كُثر فى الأرضيات بوجه خاص، وكانت تمثل صور أشخاص وحيوانات منها الحقيقى ومنها الخيالى.

وقد ... ظهر نوع جديد من الفن بعد ظهور المسيحية هو :

الفن القبطى فن عبّر عن الديانة (المسيحية) فى إطار الموروث من الفن المصرى والشرقى.

* تمثل فى الكنائس والأديرة القديمة وقد ظهر فيها تأثر الفنان القبطى بخصائص الفن المصرى القديم فى التصوير والرسم التشكيلى والنحت والعمارة ولا تزال الآثار القبطية باقية حتى اليوم، ومن أمثلة هذه الآثار فى مصر :

الكنيسة المعلقة تقع فى حى مصر القديمة بمحافظة القاهرة.



المتحف القبطى	يقع داخل أسوار حصن بابليون ويتسم بالطابع القبطى الممزوج بالتقاليد المصرية القديمة والهيلينستية والبيزنطية والإسلامية.	
دير المحرق	يُعرف باسم دير السيدة العذراء مريم بأسيوط.	
دير الأنبا أنطونيوس	يقع بالقرب من مدينة الزعفرانة بمحافظة البحر الأحمر.	
أديرة وادى النطرون	هى أربعة أديرة تقع بالقرب من دلتا مصر ومنها دير الأنبا بيشوى.	

سؤال و جواب

س تعرضت المنشآت الثقافية بالإسكندرية خلال العصر الرومانى للفناء بسبب .....

(أ) الحروب الخارجية للرومان.
(ب) رفض الإغريق للسياسة الرومانية.
(جـ) ثورات اليهود داخل المدينة.
(د) قسوة الرومان على المصريين.

جـ (د) سبب الإجابة : حيث قام الرومان بتدمير المدينة عدة مرات نتيجة لقيام ثورات واضطرابات بها.

سقوط الحكم الرومانى فى مصر

* بالرغم من محاولات الإصلاح التى حدثت فى عهد الرومان إلا أن الحكم الرومانى فى مصر اتسم بالفساد بصفة عامة وظهر ذلك فى :

يقول المؤرخ الغربى «ايدرس بل» :
«إن تاريخ مصر الرومانى قصة محزنة من قصص الاستغلال الذى يدل على قصر النظر وينتهى حتمًا بالانهيار الاقتصادى والاجتماعى».

(١) استبداد الحكام وظلمهم واستنزافهم لموارد مصر الاقتصادية.

(٢) النظام الإقطاعى فقد اعتبروا أرض مصر كلها ملكًا للإمبراطور يمنح قطعًا منها للمقربين منه أو للمحاربين أو لغيرهم.

(٣) فداحة وتعدد الضرائب المفروضة على المصريين واستخدام العنف فى وسائل جمعها.

(٤) اعتبار المصريين طبقة أقل تعمل فى سبيل إرضاء الطوائف المميزة وعلى رأسهم الرومان والإغريق.

لذلك ... قاوم المصريون الرومان ودافعوا عن حرياتهم **وتمثل ذلك فى :**

- قيامهم بثورات ضدهم.
- هجرة القرى وترك الحقول لإهمال الزراعة كوسيلة سلمية لمحاربة الرومان.

وقد ... استمر هذا الوضع حتى جاء الفتح العربى الإسلامى عام ٦٤١م.

الفتح العربى الإسلامى لمصر ٦٤١م

* تم فتح مصر على يد القائد عمرو بن العاص وبهذا الفتح دخلت مصر عصرًا جديدًا تحت الحكم الإسلامى الذى تميز بالتسامح الدينى واحترام الأديان **وقد ظهر ذلك فى قيام عمرو بن العاص بإصدار :**

- خطاب أمان **للبابا بنيامين** الذى كان مختبئًا بأديرة وادى النطرون وصعيد مصر لمدة ١٣ عامًا من الاضطهاد الرومانى (البيزنطى) فعاد البابا للنشاط الدينى.
- أمر باسترداد جميع الكنائس التى استولى عليها الروم خاصة فى الإسكندرية.

* أوصى رسول الله ﷺ بأهل مصر خيرًا حيث قال :
- «إذا فتحتم مصر فاستوصوا بالقبط خيرًا».
- «إذا فتح الله عليكم مصر فاتخذوا منها جندًا كثيفًا فذلك الجند خير أجناد الأرض، لأنهم فى رباط إلى يوم القيامة».

سؤال وجواب

س لجأ المصريون إلى مقاومة فساد الحكم الرومانى بأساليب مختلفة منها .....

(أ) المقاومة السلبية.
(ب) التحالفات العسكرية.
(جـ) الإضرابات العمالية للموظفين.
(د) الاستعانة بالإغريق.

جـ (أ) **سبب الإجابة :** حيث قام المصريون بهجر القرى وترك الحقول لإهمال الزراعة كوسيلة سلمية لمحاربة الرومان.

أهم نقاط الدرس

أحوال مصر تحت الحكم الرومانى

١ الحياة السياسية

* تمتعت مصر بمكانة سياسية مميزة فى الإمبراطورية الرومانية حيث كان حاكم مصر يتبع الإمبراطور مباشرة ويتلقى الأوامر منه.
* قسمت مصر فى عهد الرومان إداريًا إلى ثلاث أقسام سفلى ووسطى وعليا يرأس كل منها حاكم رومانى.

٢ الحياة الاقتصادية

كانت مصر مورد اقتصادى هام ينعش الخزانة الرومانية لذلك حاول الرومان النهوض بالمجالات الاقتصادية فى مصر فاهتموا بالزراعة والصناعة والتجارة.

٣ الحياة الاجتماعية

* كان المجتمع الرومانى فى مصر مجتمعًا طبقيًا يتكون من خمس طبقات.
* كان لا يسمح لأى أحد من فئة سكانية أن يرقى إلى الفئة الأعلى إلا بقانون يُصدر من الإمبراطور نفسه.

٤ الحياة الدينية

* **تمثلت فى :**
  - عبادة الأباطرة.
  - الديانة المسيحية والتى تُعد أهم متغير دينى فى القرون الثلاثة الأولى الميلادية.
* **اختلف موقف الأباطرة الرومان من المسيحية** فقام كل من :
  - الإمبراطور نيرون
  - الإمبراطور دقلديانوس

  باضطهاد المسيحيين.
  - الإمبراطور قسطنطين بإصدار مرسوم ميلان عام ٣١٣م الذى أعطى الحرية الدينية للمسيحيين.
  - الإمبراطور ثيؤدوسيوس بالاعتراف بالديانة المسيحية ديانة رسمية للدولة.

٥ الحياة الثقافية (الفكرية)

خلال العصر الرومانى ظلت الإسكندرية مركزًا للعلم فقد ازدهر بها الكثير من العلوم ولكن لم يدم ازدهار منشآت الإسكندرية الثقافية والعلمية طويلًا لقيام الرومان بتدمير المدينة عدة مرات وذلك لقيام الثورات والاضطرابات بها.

٦ الحياة الفنية

* ظلت الفنون فى مصر مزدهرة فى عصر الرومان **وقد انقسمت إلى :**
  - فن الطبقة الحاكمة.
  - الفن الشعبى.
  - الفن القبطى.

التواصل الثقافى بين مصر والرومان

قام الرومان بتعديل تقويمهم القديم ليصبح كالتقويم المصرى الذى يعتمد على السنة الشمسية.

سقوط الحكم الرومانى فى مصر والفتح العربى الإسلامى لها

اتسم الحكم الرومانى فى مصر بالفساد لذلك قاوم المصريون الرومان ودافعوا عن حرياتهم واستمر هذا الوضع حتى مجىء الفتح العربى الإسلامى عام ٦٤١م.

أسئلة

الدرس الرابع

فهم • تطبيق • تحليل • تقويم • ابتكار

أ اختر الإجابة الصحيحة من بين البدائل التالية :

١ من خلال دراستك لأحوال مصر الاقتصادية فى ظل حكم الرومان نستنتج .....

(أ) تطبيق الرومان لسياسة الاحتكار الاقتصادية.

(ب) رغبة الرومان فى تحسين أحوال الشعب المصرى.

(جـ) وفرة مقومات النهضة الاقتصادية الشاملة.

(د) خبرات المصريين فى صناعة العملات المعدنية.

---

٢ استفاد الرومان من التراث العلمى للمصريين القدماء خاصة فى مجالى .....

(أ) الفلسفة والجغرافيا.

(ب) الفلك والطب.

(جـ) التاريخ والأدب.

(د) الكيمياء والفلسفة.

---

٣ نجح الرومان فى استنزاف موارد مصر من خلال .....

(أ) تنويع موارد خزانة الدولة.

(ب) فرض أعمال السُخرة.

(جـ) إعداد قواعد بيانات سكانية.

(د) تطبيق سياسة الاحتكار الاقتصادية.

---

٤ ظهر التأثير الحضارى الفرعونى على كل من البطالمة والرومان من خلال .....

(أ) اتباع نفس النظم المالية والإدارية.

(ب) إرساء النظم الديمقراطية.

(جـ) تطور علوم التاريخ والفلسفة.

(د) تقديس الملوك والأباطرة.

---

٥ نستنتج من خلال تحليل الطبقات الاجتماعية بمصر فى عصرى البطالمة و الرومان .....

(أ) احتفاظ الرومان بمكانتهم الاجتماعية.

(ب) اعتبار اليهود طبقة عليا فى العصرين.

(جـ) تراجع مكانة السكان اليونانيين.

(د) تحسن حياة المصريين فى عصر البطالمة.

---

٦ أى من الصناعات التالية اقتصر وجودها فى مصر على مر العصور ومنها العصر الرومانى ؟ .....

(أ) الأوانى الفخارية.

(ب) ورق البردى.

(جـ) المنسوجات الكتانية.

(د) العقاقير الطبية.

---

٧ قسم الرومان مصر إداريًا إلى ثلاثة أقسام لتحقيق مصالحهم .....

(أ) الدينية والسياسية.

(ب) الاجتماعية والدينية.

(جـ) الاقتصادية والسياسية.

(د) السياسية والاجتماعية.

٨ جاء المواطنون الرومان إلى مصر أثناء الحكم الرومانى لها بهدف .....

(أ) المشاركة فى الحكم.
(ب) استثمار أموالهم.
(جـ) التعرف على الديانة المصرية.
(د) دراسة الحضارة المصرية.

٩ اختلف العصر الرومانى لمصر عن العصر البطلمى فى .....

(أ) الاستعانة بالإغريق فى بعض الوظائف.
(ب) عمل حصر للموارد البشرية فى مصر.
(جـ) عبادة الملوك والأباطرة.
(د) الاستفادة من خبرات المصريين الصناعية.

١٠ قامت سياسة الرومان المالية والاقتصادية فى مصر على مبدأ أساسى هو .....

(أ) تحقيق تنمية شاملة للمصريين.
(ب) الاهتمام بالنشاط الصناعى فى مصر.
(جـ) تحقيق العدالة الاجتماعية فى فرض الضرائب.
(د) استغلال أكبر قدر ممكن من موارد مصر.

١١ اختلفت مصر كولاية رومانية عن اليونان والشام بسبب .....

(أ) وجود سواحل لها على البحر المتوسط.
(ب) وفرة إنتاجها الزراعى من الحبوب الغذائية.
(جـ) موقعها القريب من مركز الحكم الرومانى.
(د) تحكمها فى الممرات الملاحية المهمة.

١٢ «*عدم السماح بترقية أحد من فئة سكانية إلى الفئة الأعلى إلا بقانون يصدر من الإمبراطور نفسه*».
ترتب على هذا الوضع .....

(أ) غضب اليهود والإغريق.
(ب) استبداد الحكام الرومان.
(جـ) فرار المصريين إلى الصحراء.
(د) ثورات المصريين المستمرة.

١٣ «*وضع الرومان فى مصر نظام ضرائب فى منتهى الدقة لم نسمع عنه فى العالم القديم*».
العبارة السابقة تدل على .....

(أ) اهتمام الرومان بالتجارة.
(ب) التقدم الاقتصادى لمصر.
(جـ) استغلال الرومان للمصريين.
(د) تطبيق الرومان للعدالة.

١٤ أى من العلوم التالية دعت إلى تحليل مشكلات الحياة وأكدت على استمرار التواصل بين الإغريق والمصريين أثناء حكم الرومان لمصر ؟ .....

(أ) الطب.
(ب) الفلسفة.
(جـ) الجغرافيا.
(د) التاريخ.

١٥ طبق الرومان نظام الإحصاء السكانى فى مصر لتحقيق أهدافهم .....

(أ) السياسية.
(ب) الاجتماعية.
(جـ) الاقتصادية.
(د) العلمية.

١٦ استقر اليهود فى الإسكندرية أثناء الحكم الرومانى لأنها كانت .....

(أ) ميناء بحرى مهم.
(ب) مقر للعلم والثقافة.
(جـ) بعيدة عن الثورات.
(د) قريبة من روما.

١٧ يُعد معبر انتقال فكرة الملكية المقدسة للفراعنة من مصر إلى الرومان .....

(أ) البطالمة.
(ب) السليوقيين.
(جـ) الفرس.
(د) الفينيقيين.

١٨ تمتعت مصر بمركز خاص ميزها عن باقى الولايات الرومانية لأسباب .....

(أ) دينية وسياسية.
(ب) اقتصادية واجتماعية.
(جـ) استراتيجية واقتصادية.
(د) سياسية واجتماعية.

١٩ يُعد الحكم الرومانى لمصر امتدادًا للحكم البطلمى حيث .....

(أ) اتخذوا مصر مقرًا للحكم.
(ب) اعتمدوا على الإغريق فى الحكم والإدارة.
(جـ) استخدموا المصريين كجنود مرتزقة.
(د) اتبعوا سياسة التفرقة العنصرية.

ب اختر إجابتين صحيحتين من بين البدائل التالية :

٢٠ تُعد من العوامل التى ساهمت فى ارتقاء صناعة الزجاج بمصر خلال حكم الرومان ..... و .....

(أ) الاستفادة من خبرات الفينيقيين.
(ب) تشجيع الدولة للصناعة.
(جـ) وفرة رؤوس الأموال لدى اليهود.
(د) المهارة والخبرة الفنية.
(هـ) التواصل الفنى مع الإغريق.

٢١ أصبحت مصر تحت الحكم المباشر للإمبراطور الرومانى من خلال ..... و .....

(أ) إعطاء حكمها لأحد كبار رجال الجيش.

(ب) سك عملة خاصة بها لتسهيل المعاملات التجارية.

(جـ) منع دخولها أى عضو من مجلس الشيوخ إلا بإذن منه مباشرة.

(د) الاعتماد على اليونانيين فى شغل الوظائف العليا بها.

(هـ) عدم السماح بترقية أى فئة سكانية بها إلا بقانون منه.

جـ أسئلة المقال :

٢٢ **أيد صحة العبارة التالية تاريخيًا :**

أثرت الأوضاع السياسية على الحياة الثقافية بالإسكندرية أثناء حكم الرومان لمصر.

٢٣ ذكر المؤرخ استرابون الذى زار مصر فى أوائل العصر الرومانى :

«إن صانعى الزجاج بالإسكندرية كانت لديهم أسرار خاصة بهذه الصناعة» . **فى ضوء ما درست، اقترح :**

عدة صناعات تستطيع مصر المعاصرة التخصص والتفوق فيها.

٢٤ **أثبت تاريخيًا صحة العبارة التالية :**

كان الاضطهاد الرومانى للمسيحيين سببًا فى ثراء الحياة الثقافية فى مصر.

٢٥ **وضح كيف :** سبق عمرو بن العاص عقب الفتح الإسلامى لمصر العالم الحديث فى ترسيخ حقوق المواطنة.

٢٦ **أثبت بالأدلة التاريخية :**

تناقض موقف الرومان من الحياة الدينية للمصريين وفقًا لمصالحهم.

تنويه

لمعرفة كيفية الوصول للإجابة الصحيحة
استخدم QR Code

امتحان تراكمى

• فهم • تطبيق • تحليل • تقويم • ابتكار

أسئلة تفاعلية

أ اختر الإجابة الصحيحة من بين البدائل التالية :

١ تولى حكم بلاد اليونان بعد سيطرة روما عليها أحد .....

(أ) القناصل السابقين.
(ب) كبار رجال الدين.
(جـ) نقباء العامة.
(د) أعضاء جمعية القبائل.

٢ استعادت قرطاجة مرة أخرى فى عصر الإمبراطورية الرومانية نشاطها .....

(أ) السياسى.
(ب) الاقتصادى.
(جـ) العسكرى.
(د) الثقافى.

٣ تُعد أكثر العصور الرومانية استقرارًا لطبقة التجار والحرفيون خلال الحكم .....

(أ) الملكى.
(ب) الأرستقراطى.
(جـ) شبه الديمقراطى.
(د) الإمبراطورى.

٤ اختلف مجلس الشيوخ فى العصر الجمهورى عن العصر الملكى فى .....

(أ) السلطات التى يمارسها.
(ب) عدد الأعضاء.
(جـ) الطبقة التى يتكون منها.
(د) تبعيتهم السياسية للحاكم.

٥ تأثرت الأنشطة الاقتصادية لبلاد اليونان بالطبيعة الجبلية كما هو الحال فى حضارة .....

(أ) اليمن.
(ب) العراق.
(جـ) مصر.
(د) فينيقيا.

٦ أى من الحضارات القديمة التالية تميزت باستخدام فكرة التعداد السكانى لزيادة مواردها ؟

الحضارة .....

(أ) الفرعونية.
(ب) الرومانية.
(جـ) العراقية.
(د) اليونانية.

٧ تدل تسمية الفينيقيين بهذا الاسم على التواصل الحضارى مع .....

(أ) دول جنوب شرق أوروبا.
(ب) بلاد آسيا الصغرى.
(جـ) حضارة بلاد الرافدين.
(د) الحضارة الفرعونية.

٨ صدرت القرارات بتوسع روما للسيطرة على غرب البحر المتوسط من خلال .....

(أ) نقباء العامة.
(ب) القنصلين.
(جـ) جمعية القبائل.
(د) مجلس الشيوخ.

٩ ازدهرت الصناعة فى مصر أثناء حكم البطالمة بسبب .....

(أ) سيطرة المصريين على الصناعة.
(ب) مهارة المصريين وبراعة الإغريق.
(جـ) استغلال موارد مصر الزراعية.
(د) اتساع الأسواق الخارجية.

١٠ عمل كل من سولون وحمورابى على تحقيق الاستقرار الاجتماعى من خلال .....

(أ) الاهتمام بالنواحى العسكرية.
(ب) السعى لبناء إمبراطورية.
(جـ) إصدار التشريعات الإلزامية.
(د) بناء نهضة زراعية.

١١ اختلف ترتيب اليهود فى الهرم الاجتماعى المصرى خلال عصرى البطالمة والرومان إلا أنهما اتفقا فى .....

(أ) احتكار صناعة البردى.
(ب) ممارسة الأعمال المالية.
(جـ) الانفراد بالوظائف السياسية.
(د) الانفراد بالأعمال الفنية.

١٢ أسند الإمبراطور الرومانى أغسطس حكم مصر إلى أحد الموالين له من .....

(أ) مجلس الشيوخ.
(ب) كبار القادة.
(جـ) نقباء العامة.
(د) جمعية القبائل.

ب اختر إجابتين صحيحتين من بين البدائل التالية :

١٣ أدى اجتماع قادة الإسكندر عقب وفاته فى مؤتمر بابل ٣٢٣ ق.م إلى ..... و .....

(أ) سقوط مبدأ الإسكندر الأكبر.
(ب) تجدد الصراع بين الفرس والمقدونيين.
(جـ) تخلص مصر من حكم الإغريق.
(د) استمرار الإمبراطورية المقدونية.
(هـ) استمرار فقد مصر لاستقلالها.

جـ أسئلة المقال :

١٤ فسر : فشل القانون الرومانى فى تحقيق العدالة الاجتماعية خلال العصر الجمهورى.

١٥ أيد صحة العبارة الآتية تاريخيًا :

كانت سياسة البطالمة متناقضة مع سياسة الرومان بالنسبة للتجارة الداخلية فى مصر.

١٦ حدد مصداقية العبارة التالية تاريخيًا :

كانت الديمقراطية فى أثينا غير مكتملة.

بنك أسئلة

على الوحدة الرابعة

فهم • تطبيق • تحليل • تقويم • ابتكار

أ اختر الإجابة الصحيحة من بين البدائل التالية :

١ يتضح من الخريطة التالية أن جميع سواحل البحر المتوسط أصبحت تحت السيطرة الرومانية خلال العصر .....

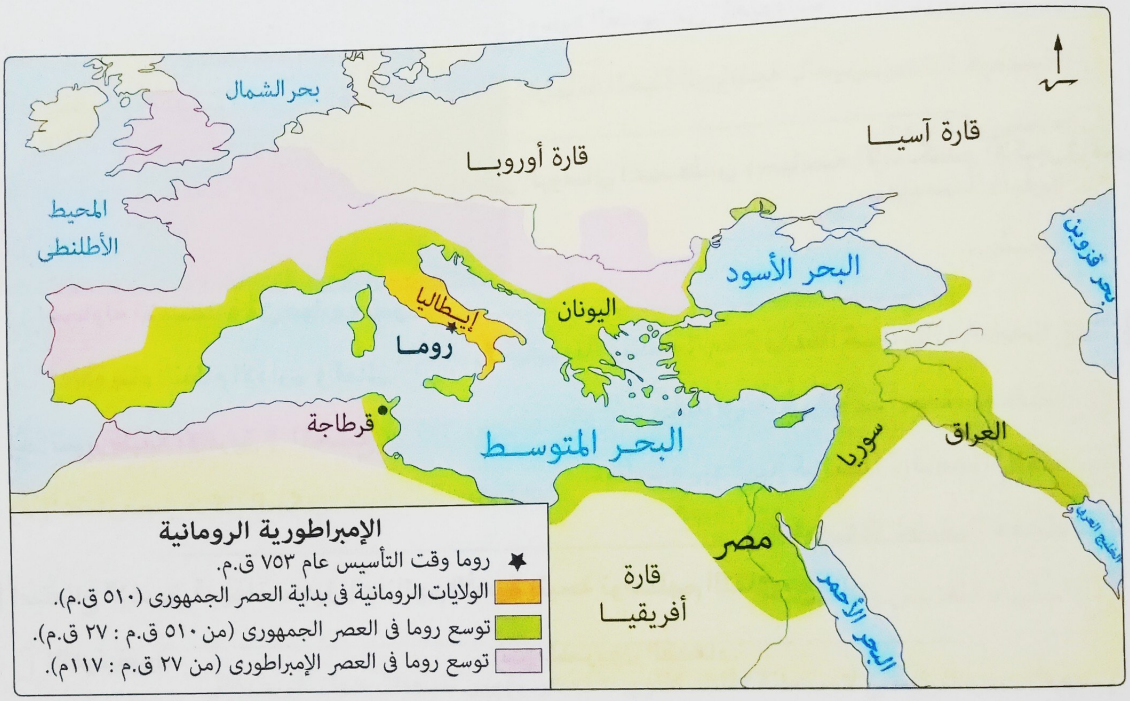

(أ) الملكى.
(ب) الجمهورى.
(جـ) الإمبراطورى.
(د) البيزنطى.

---

٢ يُعد السبب الرئيسى فى انتهاء فترة العصر الجمهورى فى روما قديمًا .....

(أ) ضياع حقوق العامة الانتخابية.
(ب) الخلافات بين القادة العسكريين.
(جـ) التدخل الخارجى فى شئون روما.
(د) زيادة سلطات مجلس الشيوخ.

---

٣ تعبر الصورة التى أمامك عن أحد مظاهر الحضارة الرومانية والتى تدل على تأثر الرومان بالحضارتين .....

البانثيون الرومانى

(أ) الفينيقية والمصرية.
(ب) البابلية والإغريقية.
(جـ) الآشورية والفينيقية.
(د) المصرية والإغريقية.

٤ يتشابه تأثير الطبيعة الجغرافية على النشاط الاقتصادى لحضارة بلاد الإغريق مع الحضارة .....

(أ) الآشورية.
(ب) الفينيقية.
(جـ) السومرية.
(د) الفرعونية.

٥ يستثنى من وجه التشابه بين خصائص الحياة الدينية فى كل من حضارتى اليونان والعراق القديمة .....

(أ) الإيمان بقوى الطبيعة.
(ب) وجود العديد من المعبودات.
(جـ) التأثر بالمعتقدات المصرية القديمة.
(د) ارتباط الحياة الرياضية بالدين.

٦ يظهر وجه التناقض بين سياسة الإمبراطور الرومانى أغسطس وسياسة الإسكندر الأكبر فى مصر من خلال .....

(أ) محاولة الاستفادة من موارد مصر.
(ب) إعادة بناء النظام الإدارى والمالى.
(جـ) تمييز طبقة الإغريق فى المجتمع.
(د) اعتبار مصر مركزًا للحكم.

٧ استطاع الإغريق قديمًا تسجيل إنجازاتهم الأدبية نتيجة تواصلهم الثقافى مع .....

(أ) الفينيقيون.
(ب) المصريون القدماء.
(جـ) السومريون.
(د) الأكاديون.

٨ «*العولمة هى تغيير الأنماط والنظم الاقتصادية والاجتماعية التى تقوم بها الدول الأقوى لفرض هيمنتها على الدول الأخرى*». فى ضوء العبارة السابقة :

نستنتج أن البطالمة قاموا بتطبيق أفكار مشابهة للعولمة فى مصر من خلال .....

(أ) الاهتمام بالمنشآت الدينية.
(ب) تعديل النظم الاقتصادية.
(جـ) الاهتمام بالخطط العسكرية.
(د) الاستفادة من خبرات المصريين.

٩ من خلال دراستك لحضارة الرومان، يرجع سبب انتهاء عبادة الأباطرة إلى .....

(أ) انتشار عبادة إيزيس.
(ب) اعتراض الكهنة.
(جـ) تعارضها مع الشرائع السماوية.
(د) إلغاء الأباطرة لها.

١٠ أى من الحضارات التالية كانت مصبًا للنهر الحضارى فى العالم القديم ؟ الحضارة .....

(أ) الرومانية.
(ب) الفينيقية.
(جـ) اليونانية.
(د) الفرعونية.

١١ أى من أنظمة الحكم فى إسبرطة قديمًا كانت تؤدى دورًا مشابهًا للهيئة التى توجد فى الصورة المقابلة ؟ .....



(أ) الجمعية الشعبية.
(ب) مجلس الشيوخ.
(جـ) الرقباء الشعبيون.
(د) الجيش.

١٢ تتفق الحضارة اليونانية القديمة مع الحضارة الفينيقية فى .....

(أ) إنشاء مستعمرات تجارية خارج البلاد.
(ب) انتقال الحضارة المصرية إليها عبر وسطاء.
(جـ) طبيعة النشاط الاقتصادى.
(د) استيراد الملابس والأقمشة.

١٣ يرجع السبب الرئيسى لاستعانة الملك نخاو ببحارة فينيقيين للدوران حول أفريقيا إلى .....

(أ) وجود تجار مصريين فى فينيقيا.
(ب) موقع فينيقيا القريب من مصر.
(جـ) تبعية فينيقيا للإمبراطورية المصرية.
(د) القدرات الاقتصادية للفينيقيين.

١٤ نستنتج من الخريطتين التاليتين اختلاف إمبراطورية الإسكندر عن الإمبراطورية الرومانية فى .....

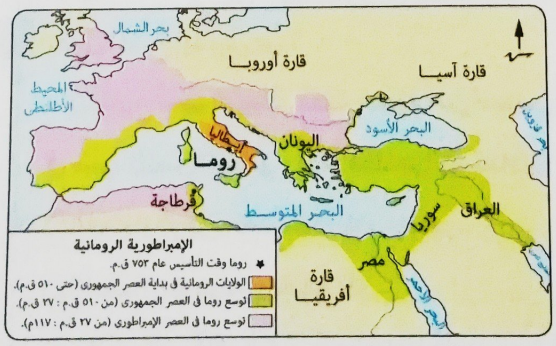

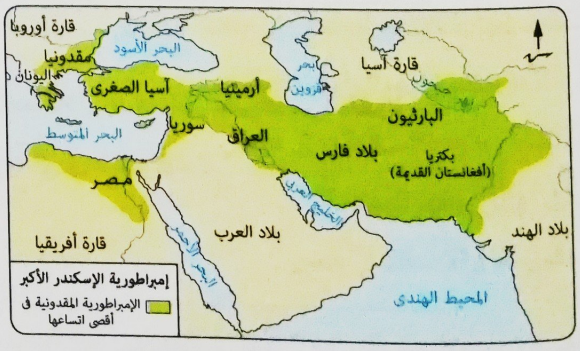

(أ) الامتداد نحو الغرب.
(ب) ضم بلاد الشام.
(جـ) ضم مصر.
(د) تعدد الجبهات الساحلية.

١٥ يرجع سبب مجيء المواطنين الرومان لمصر خلال العصر الرومانى إلى رغبتهم فى الاستفادة من .....

(أ) ثروات مصر الاقتصادية.
(ب) خبرات المصريين الاقتصادية.
(جـ) العمل فى الأعمال المصرفية.
(د) تخفيف الأعباء الضريبية.

١٦ ترتب على انعقاد مؤتمر بابل عام ٣٢٣ ق.م .....

(أ) ضياع حلم الإسكندر الأكبر فى عالم موحد.
(ب) استكمال بناء الإمبراطورية الإغريقية.
(جـ) توقف مسار الحضارة الهيلينستية.
(د) انفصال سوريا عن العراق.

١٧ اعتمد البطالمة عند تكوين جيوشهم فى البداية على الجنود المرتزقة من الإغريق بسبب .....

(أ) الثقة فى كفاءة الإغريق العسكرية.
(ب) انشغال المصريين بالعمل الزراعى.
(جـ) استمرار اعتماد المصريين على الإغريق.
(د) الحرص على ربط اليونانيين بمصر.

١٨ ظهر تأثر الحضارة اليونانية قديمًا بالحضارة الفرعونية خاصة فى بناء .....

(أ) المقابر.
(ب) المعابد.
(جـ) المدن.
(د) المسارح.

١٩ أدت نتائج حروب البيلوبونيز التى بدأت عام ٤٤١ ق.م إلى .....

(أ) وصول بلاد اليونان للنضج السياسى.
(ب) انتصار الفرس على المدن اليونانية.
(جـ) سيطرة روما على مقدونيا.
(د) توقف الألعاب الأوليمبية فى بلاد اليونان.

٢٠ يقول المؤرخ إيدرس بل :

«إن تاريخ مصر الرومانى قصة محزنة من قصص الاستغلال الذى يدل على قصر النظر».

فى ضوء النص السابق : أكثر مظاهر الاستغلال الرومانى فى مصر كانت .....

(أ) اعتبار أرض مصر ملكًا للإمبراطور.
(ب) اعتبار المصريين طبقة أقل.
(جـ) الضرائب المفروضة على المصريين.
(د) سيطرة الرومان على التجارة.

٢١ أى من الحضارات القديمة التالية تميزت بعمل حصر للموارد البشرية فى البلاد التى سيطرت عليها ؟
الحضارة .....
(أ) الفرعونية.
(ب) اليونانية.
(جـ) العراقية.
(د) الرومانية.

٢٢ أصبحت السلطة الفعلية فى روما بعد القضاء على نظامها الملكى فى يد .....
(أ) القنصلين.
(ب) مجلس الشيوخ.
(جـ) جمعية القبائل.
(د) نقباء العامة.

٢٣ بدأ المصريون يحصلون على بعض حقوقهم أثناء عصر البطالمة منذ عهد الملك .....
(أ) بطلميوس الأول.
(ب) بطلميوس الثانى.
(جـ) بطلميوس الرابع.
(د) بطلميوس الخامس.

٢٤ كان أول تأثر للرومان بعقائد مصر الفرعونية من خلال .....
(أ) التجارة فى مصر.
(ب) الحكم الرومانى لمصر.
(جـ) التواصل مع الإغريق.
(د) زيارات الرومان لمصر.

٢٥ انتخاب الملكين فى إسبرطة من أكبر أسرتين فى المدينة يعنى أن النظام كان .....
(أ) أرستقراطيًا.
(ب) ديمقراطيًا.
(جـ) شعبيًا.
(د) إمبراطوريًا.

٢٦ النموذج الذى يدل على التسامح الدينى بين الحضارات عبر عنه سلوك الملك .....
(أ) سنحاريب.
(ب) تاركوينوس.
(جـ) الإسكندر الأكبر.
(د) نبوخذ نصر الثانى.

٢٧ انتقلت عبادة الإلهة إيزيس إلى بلاد الإغريق .....
(أ) أثناء حكم كليوباترا السابعة.
(ب) أثناء وجود الإسكندر فى مصر.
(جـ) فى أوائل حكم البطالمة.
(د) قبل غزو الإسكندر لمصر.

٢٨ أى من المدن الآتية كان لها السبق فى التفاعل بين الحضارة المصرية والحضارة اليونانية ؟ .....
(أ) نقراطيس.
(ب) الإسكندرية.
(جـ) بطلميس.
(د) أنطينوبوليس.

٢٩ يرجع ارتقاء صناعة الزجاج والأوانى الفخارية بمصر الفرعونية خلال العصر المتأخر إلى .....

(أ) التواصل مع الحضارات الشرقية.
(ب) تأثر مصر بالخبرات الخارجية.
(جـ) اهتمام الدولة بتشغيل الأيدى العاملة.
(د) التقدم العلمى للمصريين.

٣٠ «*العالم وطن واحد*». مبدأ سعى الإسكندر الأكبر إلى تحقيقه، لهذا المبدأ جوانب إيجابية منها .....

(أ) تحقيق العدالة الاجتماعية.
(ب) الاهتمام بالبحث العلمى.
(جـ) تحقيق السلام العالمى.
(د) عبادة معبود واحد.

٣١ وقف الرومان ضد مظاهر الترابط بين المدن اليونانية عندما .....

(أ) نشروا اللغة اللاتينية.
(ب) أوقفوا الألعاب الأوليمبية.
(جـ) استعانوا بالفنانين الإغريق.
(د) نشروا عبادة إيزيس بينهم.

٣٢ أدى التنوع الجغرافى لبلاد اليونان إلى .....

(أ) اختلاف المعتقدات الدينية.
(ب) عدم الاستقرار السياسى.
(جـ) سيادة النزعة العسكرية.
(د) تعدد الأنشطة الاقتصادية.

٣٣ «*كانت الزراعة من الحرف التى حرص اليونانيون عليها رغم ضيق مساحة الأراضى الزراعية*».
فى ضوء العبارة السابقة :
أهم النباتات التى نجح اليونانيون فى تحقيق فائض منها .....

(أ) الزيتون والحبوب.
(ب) الكروم والزيتون.
(جـ) الحبوب والكروم.
(د) أشجار النخيل.

٣٤ حرص البطالمة على الظهور أمام رعاياهم المصريين بمظهر الحكام الوطنيين من أجل .....

(أ) ضمان ولاء المصريين.
(ب) التأكيد على المساواة.
(جـ) تحقيق العدالة الاجتماعية.
(د) تكوين جيش مصرى.

٣٥ استخدم البطالمة الأراضى الزراعية فى مصر لتحقيق أهدافهم السياسية من خلال .....

(أ) زراعة المحاصيل التى تحتاجها الأسواق الخارجية.
(ب) منحها كهبات وإقطاعات للإغريق.
(جـ) إقامة مشروعات الرى لزيادة الإنتاج.
(د) زراعة المحاصيل التى تخدم الصناعة.

٣٦ احتلت الصناعة المركز الثانى كنشاط اقتصادى لروما بسبب .....

(أ) اهتمامهم بالتوسعات والحروب.
(ب) ندرة المواد الخام الصناعية.
(جـ) النشاط الاقتصادى للأشراف.
(د) قلة الأيدى العاملة.

٣٧ عبَّرت سلطات مجلس الشيوخ الرومانى خلال فترة الحكم الجمهورى عن .....

(أ) عدم الفصل بين السلطات.
(ب) براعة التشريع الرومانى.
(جـ) تدهور أحوال العامة.
(د) استقرار أحوال المجتمع.

٣٨ اعتمدت روما على القمح الوارد من مصر بسبب .....

(أ) عدم الاهتمام بزراعة القمح.
(ب) انشغال الرومان بالمعارك العسكرية.
(جـ) حاجتها لتحقيق الأمن الغذائى.
(د) الصراعات داخل المجتمع الرومانى.

٣٩ حرم المستعمر الرومانى المصريين من ثمار جهودهم عندما قاموا بـ .....

(أ) تعيين حاكم رومانى على مصر.
(ب) إخضاع التجارة لنظام الاحتكار.
(جـ) فرض أنواع متعددة من الضرائب.
(د) حرمانهم من العمل فى النشاط الصناعى.

٤٠ *«أدرك البطالمة أثناء حكمهم لمصر أهمية تحقيق الوئام الدينى بين أهم عنصرين فى البلاد المصريين والإغريق»*. فى ضوء العبارة السابقة :

تحقق هذا الغرض من خلال إيجاد إله جديد يقدسه الطرفان هو الإله .....

(أ) إيل.
(ب) أنو.
(جـ) سرابيس.
(د) چوبيتر.

٤١ سعت روما بعد حروبها مع بلاد اليونان إلى القضاء على الدولة السليوقية وبذلك فرضت سيطرتها على مناطق من .....

(أ) شمال غرب أفريقيا.
(ب) شمال شرق أفريقيا.
(جـ) شرق آسيا.
(د) غرب آسيا.

٤٢ مثلت النقوش ذكرى انتصارات الحروب فى الحضارات القديمة الشرقية والغربية وينطبق ذلك على كل من .....

(أ) العراقيين والرومان.
(ب) الفينيقيين والعراقيين.
(جـ) الأثينيين والإسبرطيين.
(د) البطالمة والرومان.

٤٣ عرف المصريون القدماء المقاومة السلبية ضد الرومان والتى تمثلت فى المجال .....
(أ) الدينى.
(ب) السياسى.
(جـ) الاقتصادى.
(د) العسكرى.

٤٤ تقدم العلوم خلال العصر الذهبى لأثينا كان بسبب .....
(أ) حرية الفكر والإبداع.
(ب) ارتباط العلوم بالدين.
(جـ) الحياة الديمقراطية الكاملة.
(د) انتشار المدارس والجامعات.

٤٥ «*الإصلاح الاجتماعى وإطلاق الحريات يساعد على ازدهار الحضارات*».
تنطبق المقولة السابقة على أعمال .....
(أ) سولون.
(ب) بركليس.
(جـ) فيليب الثانى.
(د) فيدياس.

٤٦ توطدت العلاقات بين مصر واليونان فى فترة حكم الأسرة الـ٢٦ الفرعونية وكانت الاستفادة الأكبر لمصر فى الناحية .....
(أ) العسكرية.
(ب) الاجتماعية.
(جـ) الدينية.
(د) الثقافية.

٤٧ شكلت مصر أهمية خاصة للإمبراطورية الرومانية من خلال .....
(أ) الاستفادة من خبرات المصريين العسكرية.
(ب) دعم النظام المالى والاقتصادى لروما.
(جـ) خبرات أهلها المتميزة فى الصناعة.
(د) وجود مدينة الإسكندرية بمنشآتها العلمية.

٤٨ انشغل الملك بطلميوس الثالث عن التوسعات الخارجية بسبب .....
(أ) قيام المصريين بثورات متكررة.
(ب) تعرض البلاد لأزمات سياسية.
(جـ) عدم استقرار الحكم فى يده.
(د) تعرض البلاد لأزمات اقتصادية.

ب اختر إجابتين صحيحتين من بين البدائل التالية :

٤٩ حققت روما مصالحها الاقتصادية بسيطرتها على مصر من خلال ..... و .....
(أ) السيطرة على البحر المتوسط.
(ب) تأمين الغذاء للشعب الرومانى.
(جـ) فتح أسواق للمنتجات المصرية.
(د) تطوير الصناعات الرومانية.
(هـ) تطوير الأسطول التجارى المصرى.

٥٠ ظهرت براعة اليونانيين القدماء فى الصناعة نتيجة ..... و .....

(أ) الطبيعة الجغرافية لبلاد اليونان.
(ب) احتكار الدولة للصناعة.
(جـ) تنوع ووفرة المواد الخام.
(د) وجود أسواق لهم فى إسبانيا وأفريقيا.
(هـ) الاستعانة بالخبرات الأجنبية.

٥١ أدى قيام أغسطس بالقضاء على انقسامات قادة طبقة الفرسان الرومان إلى ..... و .....

(أ) تطبيق مبادئ الديمقراطية.
(ب) ضمان ولائهم السياسى.
(جـ) زيادة نفوذ الأرستقراطيين.
(د) نشر الأمن فى أنحاء الدولة.
(هـ) تغير نظام الحكم.

٥٢ مثلت الصناعات الاستخراجية فى روما قديمًا أهمية ..... و .....

(أ) عسكرية.
(ب) ثقافية.
(جـ) اجتماعية.
(د) اقتصادية.
(هـ) سياسية

جـ أسئلة المقال :

٥٣ أيد صحة العبارة التالية تاريخيًا :

رغم النظام العسكرى الصارم لإسبرطة إلا أن الأمة كانت مصدر السلطات.

٥٤ بم تفسر : اتجاه الإسكندر الأكبر فى توسعاته نحو الشرق ؟

٥٥ حدد مدى مصداقية العبارة التالية تاريخيًا :

اقتصر تطبيق البطالمة لنظام الاحتكار على تحقيق أهداف محلية.

٥٦ حدد وجه الاختلاف بين :

جمعية الأحياء فى العهد الملكى، وجمعية القبائل فى العهد الجمهورى بروما.

٥٧ بم تفسر : يعتبر الحكم البطلمى امتدادًا للحكم الفرعونى فى بعض الجوانب ؟

٥٨ أيد تاريخيًا صحة العبارة التالية :

لم تكن عبادة الأباطرة من مستحدثات الحكم الرومانى لمصر.

٥٩ دلل على صحة العبارة التالية تاريخيًا :

شهدت نهاية القرن الرابع الميلادى بداية انهيار الإمبراطورية الرومانية.

٦٠ أيد صحة العبارة التالية تاريخيًا :

انعكست توسعات وحروب روما سلبًا على العديد من فئات المجتمع.

أسئلة استرشادية

(من الكتاب المدرسى)



أسئلة استرشادية

(من الكتاب المدرسى)

١ يقول المؤرخ الغربى (إيدرس بل) : «*إن تاريخ مصر الرومانى قصة محزنة من قصص الاستغلال الذى يدل على قصر النظر*» . فى ضوء النص السابق :

اتصفت سياسة الرومان فى مصر بـ .....

(أ) إهمال المشروعات الإنتاجية.
(ب) استنزاف موارد البلاد.
(جـ) سوء استغلال الموارد.
(د) محاباة العنصر الإغريقى.

٢ «*شعور الأغنياء بالثراء يدفعهم أحيانًا للقفز على السلطة والوصول للحكم*» .

تنطبق العبارة السابقة بشكل واضح على مجتمعى .....

(أ) أثينا وروما.
(ب) إسبرطة ومقدونيا.
(جـ) فينيقيا وقرطاجة.
(د) العراق وكريت.

٣ «*قامت على أرض العراق القديم عدة دول شكلت حضارة بلاد الرافدين*» . فى ضوء العبارة السابقة :

المنطقة التى شهدت تأسيس عدة دول فى العراق هى المنطقة .....

(أ) الجنوبية.
(ب) الوسطى.
(جـ) الشمالية.
(د) الغربية.

٤ كانت أكثر المدن الفينيقية حرصًا وحفاظًا على ممتلكاتها مدينة .....

(أ) صيدا.
(ب) أوغاريت.
(جـ) جُبيل.
(د) صور.

٥ أمامك صورتين الأولى للمعبودة إيزيس المصرية والثانية لمعبد البارثنون اتفقت الصورتان فى .....

(أ) الطابع العالمى.
(ب) التواصل الحضارى.
(جـ) تأثر العمارة.
(د) انتقال المعبودات.

٦ «جرزة - الوركاء - جمدة نصر» تدل هذه المفردات على .....

(أ) تأثر الحضارة المصرية بالحضارة العراقية.
(ب) تأثر الحضارة العراقية بالحضارة المصرية.
(جـ) ظهور تناقض بين حضارة مصر والعراق.
(د) تأثير حضارة مصر والعراق على فينيقيا.

٧ يشير النص المقابل إلى .....

(أ) الوفاء والصبر.

(ب) الإخلاص والبناء.

(جـ) التدين والمحبة.

(د) العمل والتأسيس.

هادريان فى زيارة لمصر

أقام الإمبراطور الرومانى هادريان «١١٦م : ١٣٨م» معبدًا للإله السكندرى «سرابيس» المعبود المصرى الإغريقى كما زار مصر وقام برحلة إلى الصعيد عن طريق نهر النيل ووصل إلى الأقصر، وأثناء عودته غرق صديقه أنطينوس فى النيل فحزن عليه الإمبراطور وأمر بتشييد مدينة فى مكان الحادث تحمل اسمه، وهى مدينة «أنطينوبوليس» وهى مدينة الشيخ عبادة الآن تجاه مدينة ملوى بمحافظة المنيا.

هادريان

٨ «قام نظام الحكم فى روما فى العصر الجمهورى على عدة هيئات». فى ضوء العبارة السابقة :

الهيئة التى يتطلب عملها التواجد فى شوارع المدينة هى .....

(أ) القنصلان.

(ب) مجلس الشيوخ.

(جـ) جمعية القبائل.

(د) نقباء العامة.

٩ يؤكد تصميم المعبد العراقى القديم على .....

(أ) تفوق العراقيين فى علم الحساب.

(ب) التواصل الحضارى بين مصر والعراق.

(جـ) وفرة الموارد الطبيعية فى العراق.

(د) أثر الدين فى حياة العراقيين.

١٠ أمامك صورة لإحدى المعالم والتى تؤكد على التفاعل الحضارى بين الإغريق و .....

(أ) المصريين.

(ب) الفينيقيين.

(جـ) القرطاجيين.

(د) الآشوريين.

منارة الإسكندرية

١١ «أقام السكندريون عمود السوارى احتفالًا بزيارة الإمبراطور الرومانى دقلديانوس لمصر، ورغم ذلك أطلق المصريون على فترة حكمه اسم (عصر الشهداء) بسبب اضطهاده للمسيحيين وهدمه للكنائس».

فى ضوء العبارة السابقة :

احتفال السكندريين بالإمبراطور دقلديانوس يدل على .....

(أ) عدم تعرض السكندريين للاضطهاد.

(ب) التناقض فى سلوك المصريين.

(جـ) تغير سياسة دقلديانوس تجاه المصريين.

(د) عدم فهم المصريين لسياسة دقلديانوس.

١٢ تتشابه التربية فى إسبرطة مع طبيعة الحياة فى الحضارة .....

(أ) الفينيقية.
(ب) الآشورية.
(جـ) الأثينية.
(د) السومرية.

١٣ نستنتج من الوثيقتين التاليتين أنهما حققا .....

أصدر عمرو بن العاص خطاب أمان للبابا (بنيامين) الذى كان مختفيًا بأديرة وادى النطرون ثم صعيد مصر لمدة ثلاثة عشر عامًا من الاضطهاد الرومانى.

أصدر الإمبراطور قسطنطين مرسوم التسامح مع المسيحيين فيما عرف باسم (مرسوم ميلان).

(أ) مبدأ الديمقراطية.
(ب) العدالة الاجتماعية.
(جـ) التسامح الدينى.
(د) الحرية السياسية.

١٤ «*ظهرت فى بلاد العراق قديمًا حضارات كبرى لا تقل عن الحضارة المصرية*».
فى ضوء العبارة السابقة : افتقدت حضارة بلاد العراق القديم إلى .....

(أ) التواصل مع الحضارات المجاورة.
(ب) الاستمرارية دون انقطاع.
(جـ) التقدم فى جميع المجالات.
(د) التدين والاهتمام بالمظاهر الدينية.

١٥ كانت توسعات بطلميوس الثانى أثناء حكمه لمصر تهدف إلى .....

(أ) قيام الحضارة الهيلينستية.
(ب) تحقيق الامتداد الحيوى لمصر.
(جـ) تحقيق مبدأ العالم وطن واحد.
(د) استغلال الموارد الاقتصادية.

١٦ اعتمد الإمبراطور الرومانى أغسطس فى حكم مصر على .....

(أ) الطبقة الأرستقراطية.
(ب) أهل العلم والخبرة.
(جـ) أهل مصر والرومان.
(د) إغريق المدن الأربعة.

١٧ انتقال المراكب فى نهرى دجلة والفرات سيكون أكثر سهولة عندما يكون السير فى الاتجاه من .....

(أ) الشمال للجنوب.
(ب) الجنوب للشمال.
(جـ) الشرق للغرب.
(د) الغرب للشرق.

١٨ ارتبط توسع ملوك العراق قديمًا فى الخارج طرديًا بتطور نشاط .....

(أ) الزراعة والصناعة.
(ب) الصناعة والرعى.
(جـ) التجارة والصناعة.
(د) الرعى والتجارة.

١٩ يوصف دور جزيرتى كريت وقبرص الحضارى بأنه .....

(أ) المؤثر فى اقتصاد الإغريق.
(ب) نقل حضارة الإغريق.
(جـ) وسيط لإقامة حضارة الإغريق.
(د) أسقط حضارة الإغريق.

٢٠ قال الإسكندر الأكبر «إن العالم وطن واحد» هذه المقولة تنطبق حاليًا على فكرة .....

(أ) الديمقراطية.
(ب) العولمة.
(جـ) الإمبراطورية.
(د) الديكتاتورية.

٢١ أى من ملوك العراق لعب الدور الذى قام به الملك فيليب الثانى فى اليونان ؟ .....

(أ) حمورابى.
(ب) سرجون الأول.
(جـ) نبوخذ نصر الثانى.
(د) سنحاريب.

٢٢ فضل حكام فينيقيا الأمان والاستقرار السياسى بهدف .....

(أ) الوصول لوحدة سياسية.
(ب) مواجهة أعدائهم فى الخارج.
(جـ) التفرغ للنشاط الاقتصادى.
(د) منع قيام صراعات طبقية.

٢٣ «*استطاع الإسكندر إقامة إمبراطورية كبيرة وكانت فينيقيا جزءًا منها*» . فى ضوء العبارة السابقة : حدد المدينة الفينيقية التى احتاج دخولها جهدًا كبيرًا من الإسكندر .....

(أ) صيدا.
(ب) صور.
(جـ) جُبيل.
(د) أوغاريت.

٢٤ ظهرت عبادة الأباطرة عند الرومان نتيجة تأثر الرومان بـ .....

(أ) انتصارات الإمبراطور أغسطس.
(ب) حضارات بلاد الشرق.
(جـ) الحضارة المصرية القديمة.
(د) أفكار فلاسفة الإغريق.

٢٥ نجح الإسكندر الأكبر فى تحقيق ما فشل فيه الملك العراقى القديم .....

(أ) حمورابى.
(ب) سرجون الثانى.
(جـ) نبوخذ نصر الثانى.
(د) سنحاريب.

٢٦ يمكن الاستفادة من الحضارة الفينيقية فى .....

(أ) أهمية التفاعل بين الإنسان والبيئة.
(ب) احترام وتقدير الحضارات الأخرى.
(جـ) تحقيق السلم والتماسك المجتمعى.
(د) تشجيع العلم والبحث العلمى.

٢٧ يرجع عدم حاجة الفينيقيين لإقامة دولة موحدة إلى .....

(أ) تنوع النشاط الاقتصادى.
(ب) الاهتمام ببناء السفن.
(جـ) وجود الموانئ الطبيعية.
(د) الموقع الجغرافى المتوسط.

٢٨ تخلى سولون عن الحكم فى أثينا ورحل إلى مصر من أجل .....

(أ) التواصل مع رجال الدين.
(ب) تعميق الصلات مع مصر.
(جـ) نقل خبرات المصريين.
(د) تأكيد الروابط القديمة.

٢٩ يمكن الاستفادة من قصة الملك سنحاريب فى أن .....

(أ) الحضارات تتكامل لا تتصارع.
(ب) النجاح يعتمد على القوة.
(جـ) التفوق العسكرى أساس النجاح.
(د) الاستفادة من ثروات الآخرين.

٣٠ يُعد العامل المشترك بين المعابد فى عصر كل من مصر الفرعونية والبطالمة .....

(أ) وجود دور عسكرى للمعبد.
(ب) الشكل العام للمعبد.
(جـ) وجود دور تشريعى للمعبد.
(د) امتلاك المعبد أراضى زراعية.

٣١ اتفق العراقيون القدماء مع المصريين القدماء فى العقائد الدينية ولكنهما اختلفا فى الاعتقاد بـ .....

(أ) تعدد الآلهة.
(ب) البعث والخلود.
(جـ) الثواب والعقاب.
(د) قوى الطبيعة.

٣٢ *«أطلقت مصر مؤخرًا برنامجًا يسمى (الحنين والعودة للجذور) بدعوة اليونانيين الذين هاجروا من مصر فى القرن الماضى لزيارة مصر مرة أخرى»*. فى ضوء العبارة السابقة : استخلص المدينة التى سيفضل اليونانيون زيارتها هى مدينة .....

(أ) القاهرة.
(ب) الأقصر.
(جـ) أسوان.
(د) الإسكندرية.

٣٣ أثبت صحة العبارة الآتية تاريخيًا :

كان للأباطرة الرومان مواقف متناقضة من اعتناق المصريين القدماء للديانة المسيحية.

٣٤ حدد العلاقة بين :

معبد البارثنون اليونانى، والحضارة المصرية القديمة.

٣٥ ماذا كان يحدث إذا :

لم تعرف الحضارة العراقية القديمة الحروب العسكرية ؟

امتحانات نهاية
الفصل الدراسى الثانى



الامتحان الأول

• فهم • تطبيق • تحليل • تقويم • ابتكار

أسئلة تفاعلية

أ اختر الإجابة الصحيحة من بين البدائل التالية :

١ خلت الحياة الدينية فى بلاد العراق القديم من .....

(أ) الوصول لتوحيد الآلهة.

(ب) الاعتقاد فى البعث والخلود.

(ج) عبادة الظواهر الكونية.

(د) التصوير على جدران المعابد.

٢ يدل النص المقابل على أسلوب التربية فى حضارة .....

وصية أم لابنها وهو ذاهب للقتال
«عد بدرعك أو محمولًا عليه».

(أ) أثينا.

(ب) كريت.

(ج) إسبرطة.

(د) مقدونيا.

٣ يُعد معبر انتقال فكرة الملكية المقدسة للفراعنة القدماء فى مصر إلى الرومان .....

(أ) السليوقيين.

(ب) البطالمة.

(ج) الفرس.

(د) الفينيقيين.

٤ تمكن الرومان من السيطرة الكاملة على سواحل البحر المتوسط بعد سقوط .....

(أ) مدينة قرطاجة.

(ب) الدولة السليوقية.

(ج) دولة البطالمة.

(د) الدولة المقدونية.

٥ يرجع زيادة أعداد الطبقة الدنيا فى العراق القديم لأسباب .....

(أ) دينية واجتماعية.

(ب) عسكرية واقتصادية.

(ج) اجتماعية وثقافية.

(د) عسكرية وثقافية.

٦ نستنتج من خلال الخريطة التالية، أن المدينة الفينيقية التى تميزت فى التجارة البرية هى.....

(أ) بعلبك.

(ب) صيدا.

(ج) أوغاريت.

(د) صور.

٧ اختلف وضع مصر السياسى فى عهد البطالمة عن عهد الرومان من حيث .....

(أ) سيادة الحكم المطلق.

(ب) اعتبارها أهم الولايات السياسية.

(جـ) اعتبارها مركزًا للحكم.

(د) اشتراك المصريين فى الحكم.

٨ يتشابه دور مجلس الشيوخ فى إسبرطة مع مجلس الشيوخ فى روما خلال العصر الجمهورى بامتلاكه السلطة .....

(أ) التشريعية.

(ب) التنفيذية.

(جـ) القضائية.

(د) العسكرية.

٩ يُعد أهم دوافع السومريين لاختراع الكتابة المسمارية تدوين .....

(أ) الأوامر العسكرية.

(ب) الإبداعات الأدبية.

(جـ) القوانين والتشريعات.

(د) المعاملات الاقتصادية.

١٠ «*قامت بدور المستورد لحضارات الشرق والموزع لها فى أوروبا*». تنطبق العبارة السابقة على حضارة .....

(أ) العراق.

(ب) الرومان.

(جـ) الإغريق.

(د) البطالمة.

١١ تركز المثلث الحضارى لحضارات العالم القديم فى منطقة .....

(أ) شبه الجزيرة العربية.

(ب) الشرق الأوسط.

(جـ) شمال أفريقيا.

(د) شرق البحر المتوسط.

١٢ هدف الرومان من تقسيم مصر إداريًا لثلاثة أقسام إلى .....

(أ) تحقيق السيطرة والاستقرار.

(ب) توزيع السلطات على الرومان.

(جـ) تحقيق التنمية الشاملة لمصر.

(د) حرمان المصريين من المناصب.

ب اختر إجابتين صحيحتين من بين البدائل التالية :

١٣ اختلفت حضارة فينيقيا عن حضارة العراق القديم والحضارة الفرعونية فى ..... و .....

(أ) عبادة الظواهر الطبيعية.

(ب) استخدام أسلوب المقايضة.

(جـ) الاعتقاد فى البعث والخلود.

(د) الوصول إلى الوحدة السياسية.

(هـ) النشاط الاقتصادى الرئيسى.

جـ أسئلة المقال :

١٤ دلل تاريخيًا على صحة العبارة الآتية :

ارتبطت مصر ببلاد اليونان خلال العصر المتأخر بعلاقات متنوعة.

١٥ حدد الأثر الناتج عن :

سياسة التعصب للملك «سنحاريب» للعواصم الآشورية.

١٦ حدد العلاقة بين :

حضارة جمدة نصر، والحضارة الفرعونية.

أسئلة تفاعلية

الامتحان الثانى

● فهم ● تطبيق ● تحليل ● تقويم ● ابتكار

أ اختر الإجابة الصحيحة من بين البدائل التالية :

١ اختلف وضع الأرستقراطيون بروما فى العصر الجمهورى عن العصر الملكى فى .....

(أ) اشتراكهم فى مجلس الشيوخ.

(ب) تبعيتهم السياسية للحاكم.

(جـ) امتلاكهم سلطة اتخاذ القرار.

(د) تقديم المشورة للسلطة الحاكمة.

٢ أصبحت روما قوة عظمى فى العالم خاصة بعد استكمال سيطرتها على البحر المتوسط من الناحية .....

(أ) الشرقية. (ب) الغربية.

(جـ) الجنوبية. (د) الشمالية.

٣ تشابهت عوامل سقوط إسبرطة وأثينا مع سقوط مدينتى .....

(أ) جُبيل وسومر. (ب) نينوى وآشور.

(جـ) بابل وأكاد. (د) أور ولجش.

٤ اتجه الفينيقيون إلى البحر بسبب .....

(أ) طبيعة أرضهم وصعوبة استغلالها.

(ب) وجود الجبال شمالًا وجنوبًا.

(جـ) براعتهم فى الصيد والتجارة.

(د) موقعهم من الحضارات الأخرى.

٥ استحدث الرومان أثناء حكمهم لمصر نظام .....

(أ) العبودية. (ب) السخرة.

(جـ) الضرائب. (د) التجنيد.

٦ اتسم النظام الملكى كأحد أنظمة الحكم فى روما بـ .....

(أ) تعدد الهيئات التشريعية والتنفيذية.

(ب) اشتراك الأرستقراطيين فى الحكم.

(جـ) عدم وجود فصل بين السلطات.

(د) تدخل رجال الدين فى هيئات الحكم.

٧ يرجع التشابه بين الدولة الآشورية والدولة الكلدانية فى .....

(أ) وحدة الأصل.

(ب) التوسع نحو الشرق والجنوب.

(جـ) مركز الحكم.

(د) الصدام العسكرى مع اليونان.

٨ يُستثنى من امتلاكها تعدد الجبهات الساحلية فى بلاد العراق القديم .....

(أ) الدويلات السومرية.

(ب) الدولة البابلية القديمة.

(جـ) الدولة الآشورية.

(د) الدولة الكلدانية.

٩ أصبحت مصر فى عهد بطلميوس الأول مركزًا للحكم بعد أن كانت ولاية تابعة لـ .....

(أ) أثينا.

(ب) مقدونيا.

(جـ) إسبرطة.

(د) الفرس.

١٠ تمتع التجار المصريين بحرية التجارة أثناء حكم .....

(أ) البطالمة فى مرحلة القوة.

(ب) البطالمة فى مرحلة الضعف.

(جـ) النظام الجمهورى لروما.

(د) النظام الإمبراطورى لروما.

١١ الأثر الذى أمامك عُثر عليه فى مدينة جُبيل مما يدل على تأثر الفينيقيين بـ .....

(أ) فن النحت عند المصريين القدماء.

(ب) العقيدة الدينية عند العراقيين القدماء.

(جـ) عقيدة الحساب بعد الموت عند المصريين القدماء.

(د) فن النحت عند العراقيين القدماء.

١٢ حرص البطالمة على حُسن استخدام الموارد والحفاظ عليها من خلال .....

(أ) زراعة القمح والذرة.

(ب) استخدام وسائل رى حديثة.

(جـ) استخدام نظام الدورة الزراعية.

(د) استصلاح الأراضى الجديدة.

ب اختر إجابتين صحيحتين من بين البدائل التالية :

١٣ تمثل القاسم المشترك بين المدن اليونانية القديمة فى ..... و .....

(أ) نظام التربية.

(ب) الحياة الرياضية.

(جـ) العقائد الدينية.

(د) نظام الحكم.

(هـ) الأنشطة الاقتصادية.

جـ أسئلة المقال :

١٤ حدد العلاقة بين :

الحروب، والطبقات الاجتماعية فى بلاد العراق القديم.

١٥ فسر :

اختلاف مكانة رجال الدين فى فينيقيا عن مكانتهم فى روما.

١٦ دلل تاريخيًا على صحة العبارة الآتية :

تضاءل نفوذ مجلس الشيوخ فى الدولة الرومانية أثناء عهد أكتافيوس.

الامتحان الثالث

فهم • تطبيق • تحليل • تقويم • ابتكار

أسئلة تفاعلية

أ اختر الإجابة الصحيحة من بين البدائل التالية :

١ كانت النتائج النهائية التى ترتبت على تطاحن المدن السومرية والحروب بينهم سببًا فى .....

(أ) التطور نحو النضج السياسى.

(ب) سيطرة مدينة سومر على الزعامة.

(جـ) هجرة الأكاديون إلى العراق.

(د) إنشاء دولة موحدة مركزها فى الجنوب.

---

٢ اختلفت مصر كولاية رومانية عن باقى ولاياتها بسبب .....

(أ) وجود سواحل لها على البحر المتوسط.

(ب) وفرة إنتاجها الزراعى من الحبوب الغذائية.

(جـ) موقعها القريب من مركز الحكم.

(د) تحكمها فى الممرات الملاحية الهامة.

---

٣ يُعد من الأعمال الدينية ذات الأغراض السياسية، قيام الملك بطلميوس الأول فى مصر بـ .....

(أ) بناء المعابد للإله آمون.

(ب) نقل عبادة الإلهة إيزيس إلى اليونان.

(جـ) تقديم القرابين للمعبودات.

(د) اتخاذ الألقاب الفرعونية.

---

٤ ظهر أقدم تواصل اقتصادى بين مصر الفرعونية وفينيقيا خلال .....

(أ) عصر الدولة القديمة.

(ب) عصر الدولة الوسطى.

(جـ) عصر الدولة الحديثة.

(د) العصر المتأخر.

---

٥ توسعت روما قديمًا فى قارة آسيا أثناء فترة .....

(أ) العصر الملكى.

(ب) العصر الجمهورى.

(جـ) عصر الإمبراطورية الغربية.

(د) عصر الإمبراطورية الشرقية.

٦ اهتم البطالمة أثناء حكمهم لمصر بتنمية مواردها من أجل .....

(أ) نشر الحضارة الهيلينستية.
(ب) نجاح سياستهم الخارجية.
(جـ) توفير احتياجات المصريين.
(د) تحقيق الثراء للإغريق واليهود.

٧ ظل اسم الملك حمورابى محفورًا فى التاريخ نتيجة قيامه بالأعمال .....

(أ) التشريعية.
(ب) العسكرية.
(جـ) الاقتصادية.
(د) الثقافية.

٨ عمل الإسكندر الأكبر على توطيد سيطرته على مصر من خلال .....

(أ) إرضاء المصريين ببناء المدن الجديدة.
(ب) سياسته الإدارية الجديدة فى البلاد.
(جـ) إرضاء شعور المصريين الدينى.
(د) التوسع فى إنشاء المعابد.

٩ أى من البلاد الآتية كانت قديمًا الأكثر تشابهًا مع ما جاء بالنص المقابل ؟ .....

تُعد سنغافورة مدينة ودولة ورغم صغر مساحتها وقلة مواردها إلا أنها بسبب موقعها الجغرافى كنقطة التقاء للطرق التجارية أصبحت مركزًا إقليميًا وعالميًا لإدارة الثروات والتجارة الوسيطة وتحويل الواردات إلى صادرات ونتيجة لذلك استطاعت أن تحقق رخاءً اقتصاديًا ونهضة حضارية لا مثيل لها.

(أ) فينيقيا.
(ب) مصر.
(جـ) اليونان.
(د) العراق القديم.

١٠ ظهرت على يده النواة الأولى للكتابات التاريخية فى اليونان .....

(أ) أرسطو.
(ب) هوميروس.
(جـ) بوليبيوس.
(د) استرابون.

١١ تنطبق العبارة المقابلة على .....

«يدعى المحتل دائمًا أنه قادم لنشر الثقافة، وإقامة العدل، وتشييد المصانع فى مستعمراته وإنقاذها من الجهل والتخلف».

(أ) بركليس.
(ب) سولون.
(جـ) فيليب المقدونى.
(د) الإسكندر الأكبر.

١٢ انتقلت فكرة تقديس الحكام إلى روما بعد استيلائهم على .....

(أ) قرطاجة.
(ب) اليونان.
(جـ) سوريا.
(د) مصر.

ب اختر إجابتين صحيحتين من بين البدائل التالية :

١٣ اختلف بطلميوس الأول عن الإسكندر الأكبر فى ..... و .....

(أ) الأصل العرقى.

(ب) الخبرة السياسية والعسكرية.

(ج) الفكر السياسى والإدارى.

(د) تقديره للمعبودات المصرية.

(هـ) طريقة معاملة المصريين.

جـ أسئلة المقال :

١٤ أيد تاريخيًا صحة العبارة الآتية :

يمكن التعرف على قصة تأسيس روما من مصادر متعددة.

١٥ حدد العلاقة بين :

معبد البارثنون، والعمارة المصرية القديمة.

١٦ ماذا كان يحدث إذا :

اتبع حكام مدينة سومر سياسة الملك «سرجون الأول» فى حكم البلاد ؟

أسئلة تفاعلية

الامتحان الرابع

● فهم ● تطبيق ● تحليل ● تقويم ● ابتكار

أ اختر الإجابة الصحيحة من بين البدائل التالية :

١ نستنتج من المقولة المقابلة .....

(أ) اقتصار الصناعة على مدينة الإسكندرية.

(ب) وفرة المواد الخام المحلية اللازمة للصناعة.

(جـ) اهتمام الملوك الرومان بالصناعة المصرية.

(د) دور الصناع الرومان فى تطور الصناعات.

لقد ذكر المؤرخ (استرابون) الذى زار مصر فى أوائل العصر الرومانى «أن صانعى الزجاج بالإسكندرية كانت لديهم أسرار خاصة بهذه الصناعة، كما أن تربة مصر كانت تحتوى على مادة معينة تصلح بوجه خاص لصناعة الزجاج متعدد الألوان».

٢ «*أقام الملك الفرعونى نعرمر حكومة مركزية موحدة أثناء حكمه لمصر*» . فى ضوء العبارة السابقة : أيًا من ملوك العراق القديم الآتيين كان له السبق فى تنفيذ هذه السياسة ؟ .....

(أ) سرجون الأول. (ب) سرجون الثانى.

(جـ) نبوخذ نصر الثانى. (د) حمورابى.

٣ كانت أقرب المدن الفينيقية جغرافيًا من الحضارة المصرية القديمة مدينة .....

(أ) جُبيل. (ب) صيدا.

(جـ) حيفا. (د) أوغاريت.

٤ تُعد الحضارة المصرية هى القاعدة الأساسية التى استقت منها بلاد اليونان الفن والعلوم .....

(أ) الاجتماعية. (ب) الاقتصادية.

(جـ) الدينية. (د) الطبيعية.

٥ خرجت حملات الإسكندر الأكبر عن إطار الحملات التقليدية للفرس بسبب اهتمامه بـ .....

(أ) النواحى الإدارية. (ب) بناء المدن.

(جـ) إنشاء المعابد. (د) نشر العلم.

٦ «*كان العرف السائد فى أثينا أن من يعجز عن تسديد الديون ذات الفوائد الباهظة يصبح عبدًا لدائنه يعمل فى مزارعه ويباع فى سوق العبيد*» .

فى ضوء العبارة السابقة : يدل انتشار هذا العرف على .....

(أ) فساد النظام السياسى.

(ب) تحقيق العدالة الاجتماعية.

(جـ) تأثر أعداد الناخبين.

(د) تنوع الأنشطة الاقتصادية.

٧ من خلال الخريطة المقابلة :
نستنتج أن أقرب الحضارات اليونانية إلى بلاد الشرق هى حضارة .....

(أ) قبرص.
(ب) كريت.
(جـ) طروادة.
(د) إسبرطة.

٨ عاصر استيلاء الرومان على بلاد اليونان سقوط .....
(أ) الدولة الفارسية.
(ب) الدولة السليوقية.
(جـ) دولة البطالمة.
(د) مدينة قرطاجة.

٩ ظهرت أول العلاقات بين مصر الفرعونية وبلاد فينيقيا فى المجال .....
(أ) الاقتصادى.
(ب) العسكرى.
(جـ) الاجتماعى.
(د) الدينى.

١٠ بدأت سيطرة روما على غرب البحر المتوسط أثناء الحكم .....
(أ) الملكى.
(ب) الإمبراطورى.
(جـ) الجمهورى.
(د) شبه الديمقراطى.

١١ نستنتج من دراسة الحكم الرومانى لمصر أنه كان .....
(أ) صدمة حضارية وثقافية للمجتمع المصرى.
(ب) صورة من صور الاستغلال الاقتصادى.
(جـ) نموذج جيد للإدارة والحكم.
(د) سببًا فى رفع مستوى المواطن المصرى.

١٢ اختلفت الحضارة الرومانية عن الحضارة الفرعونية بالنسبة للزراعة فى .....

(أ) تنوع المحاصيل.

(ب) المناخ الملائم للزراعة.

(جـ) نظام الملكية الزراعية.

(د) كثرة العمالة الزراعية.

ب اختر إجابتين صحيحتين من بين البدائل التالية :

١٣ تميزت الدويلات السومرية بالعراق القديم بـ ..... و .....

(أ) تعدد المراكز الحضرية.

(ب) اتساع حدود دولتهم.

(جـ) القرار السياسى الموحد.

(د) اختراع أول أبجدية.

(هـ) ابتكار طريقة للتدوين.

جـ أسئلة المقال :

١٤ دلل تاريخيًا على صحة العبارة الآتية :

اختلفت مكانة التجار الاجتماعية فى بلاد فينيقيا عن بلاد العراق القديم.

١٥ حدد العلاقة بين :

الثراء الاقتصادى لبعض الأوروبيين، واتجاههم إلى مصر فى العصرين البطلمى والرومانى.

١٦ حدد مدى مصداقية العبارة الآتية :

أثرت نتائج حروب البيلوبونيز عام ٤٤١ ق.م على الأوضاع السياسية لبلاد اليونان.

الامتحان الخامس

• فهم • تطبيق • تحليل • تقويم • ابتكار

أسئلة تفاعلية

أ اختر الإجابة الصحيحة من بين البدائل التالية :

١ تأثرت الطبقة الدنيا فى بلاد العراق القديم بـ .....

(أ) العلاقات التجارية مع الدول الأخرى.

(ب) نظام ملكية الأرض فى العراق للأفراد.

(جـ) التواصل الحضارى مع الدول المجاورة.

(د) التوسعات الخارجية لبلاد العراق.

٢ أى من الحضارات التالية كانت مصبًا للنهر الحضارى فى العالم القديم ؟ .....

(أ) الرومانية.

(ب) الفينيقية.

(جـ) اليونانية.

(د) الفرعونية.

٣ اتجهت روما لاتساع دولتها خارج شبه الجزيرة الإيطالية أولًا على حساب .....

(أ) ممتلكات البطالمة فى البحر المتوسط.

(ب) أراضى المستعمرات الفينيقية فى جنوب أوروبا.

(جـ) السيطرة على شمال غرب أفريقيا.

(د) المستعمرات المقدونية فى حوض البحر المتوسط.

٤ يُعد العامل المؤثر فى التحول الديمقراطى لنظام الحكم بأثينا .....

(أ) التحركات الشعبية.

(ب) الصراع المسلح بين المدن.

(جـ) العوامل الخارجية.

(د) تدخل رجال الدين فى الحكم.

٥ تشابهت حضارة بلاد الرافدين مع الحضارة المصرية القديمة فى كثير من المجالات ولكنهما اختلفا فى .....

(أ) العمارة والفنون.

(ب) بناء المعابد.

(جـ) صناعة ورق البردى.

(د) الاعتقاد فى البعث والخلود.

٦ تشابهت قصة تأسيس روما للشاعر فرجيل مع كتابات .....

(أ) هوميروس.

(ب) هيرودوت.

(جـ) أرخيلوخس.

(د) بوليبيوس.

٧ «إهمال ثروات البلاد، والسياسة المستبدة مع الشعوب تؤدى إلى انهيار وضعف الدولة».
تنطبق هذه المقولة على .....
(أ) الفينيقيين. (ب) الآشوريين.
(جـ) البابليين. (د) الإغريق.

٨ خلت الحضارة اليونانية من الاتصال البحرى المباشر مع الحضارة .....
(أ) السومرية. (ب) الفينيقية.
(جـ) الفرعونية. (د) الرومانية.

٩ تُعد أكثر العصور استقرارًا لطبقة التجار والحرفيون فى روما أثناء النظام .....
(أ) الملكى. (ب) الأرستقراطى.
(جـ) الجمهورى. (د) الإمبراطورى.

١٠ يتضح التشابه بين العقيدة الدينية فى كل من الحضارة الفينيقية والحضارة الإغريقية فى .....
(أ) الاستعانة بالموسيقى فى الطقوس الدينية.
(ب) تجسيد المعبودات بصورة بشرية.
(جـ) تقديس قوى الخصب والنماء.
(د) الاعتقاد فى الحساب بعد الموت.

١١ دخل الإسكندر الأكبر مصر دون قتال عام ٣٣٢ ق.م بسبب .....
(أ) سيطرة الإسكندر الأكبر على سوريا.
(ب) إبقاء الإسكندر على النظم المصرية.
(جـ) ضعف قوة الفرس فى مصر.
(د) المهارة السياسية للإسكندر الأكبر.

١٢ عبرت سلطات مجلس الشيوخ الرومانى خلال فترة الحكم الجمهورى عن .....
(أ) عدم الفصل بين السلطات.
(ب) سيطرة طبقة التجار.
(جـ) تدهور أحوال العامة.
(د) استقرار أحوال المجتمع.

ب اختر إجابتين صحيحتين من بين البدائل التالية :

١٣ ترتب على التنوع الجغرافى لبلاد اليونان ..... و .....

(أ) اختلاف النظم الاجتماعية.

(ب) عدم الاستقرار السياسى.

(جـ) النشاط العسكرى الموحد لليونانيين.

(د) اختلاف نظم الحكم.

(هـ) اختلاف العقائد الدينية.

جـ أسئلة المقال :

١٤ أثبت تاريخيًا صحة العبارة التالية :

كان الاضطهاد الرومانى للمسيحيين سببًا فى ثراء الحياة الثقافية فى مصر.

١٥ «*أظهرت بعض الأزمات الطبيعية الصفات الحميدة لأحد ملوك البطالمة فى مصر*».

أيد صحة العبارة السابقة تاريخيًا.

١٦ حدد العلاقة بين :

سياسة الملك إخناتون، واستخدام الملك رمسيس الثانى القوة العسكرية فى سوريا.

أسئلة تفاعلية

الامتحان السادس

● فهم ○ تطبيق ● تحليل ● تقويم ● ابتكار

أ اختر الإجابة الصحيحة من بين البدائل التالية :

١ ترتب على ظهور الكتابة المسمارية فى بلاد العراق القديم .....

(أ) ظهور وظيفة جديدة للمعبد.

(ب) انتشار الأبجدية العراقية.

(جـ) ازدهار التجارة الخارجية.

(د) الاستقرار السياسى لبلاد العراق.

٢ كان للفينيقيين الفضل على العالم من حولهم بشكل واضح فى الجانبين .....

(أ) الاقتصادى والثقافى.

(ب) الدينى والعسكرى.

(جـ) السياسى والاقتصادى.

(د) السياسى والعسكرى.

٣ يعود الفضل لاختفاء المبدأ المقابل من حياة اليونانيين إلى .....

«كان العرف السائد فى أثينا أن من يعجز عن تسديد الديون يصبح عبدًا لدائنه».

(أ) بركليس. (ب) سولون.

(جـ) فيدياس. (د) أرسطو.

٤ بالاستعانة بالشكل المقابل، نستنتج أن سبب وجود الإغريق فى مكانة أعلى من المصريين خلال حكم الرومان لمصر يرجع إلى .....

(أ) اعتناق الإغريق معبودات الرومان.

(ب) تولى الإغريق المناصب العليا.

(جـ) خبرة الإغريق بأمور مصر.

(د) الثروة المالية للإغريق.

٥ أى من حضارات العراق القديم الآتية كانت الأسبق فى مد نفوذها إلى سواحل البحر المتوسط ؟ .....

(أ) الدويلات السومرية. (ب) الكلدانية.

(جـ) البابلية القديمة. (د) الآشورية.

٦ «انقسم المجتمع فى فينيقيا إلى عدة طبقات عليا ووسطى ودنيا كحال أى مجتمع» . فى ضوء العبارة السابقة : الفئة التى كانت ضمن الطبقة الوسطى فى العراق ولكنها كانت ضمن الطبقة العليا فى فينيقيا هم .....

(أ) الكهنة.
(ب) الأغنياء.
(جـ) الحكام والنبلاء.
(د) التجار.

٧ ظهر تأثر الحضارة اليونانية القديمة بالحضارة الفرعونية فى مجال العمارة بشكل واضح فى بناء .....

(أ) المقابر.
(ب) الملاعب.
(جـ) المعابد.
(د) المسارح.

٨ من خلال دراستك لحضارة الرومان، يرجع سبب انتهاء عبادة الأباطرة إلى .....

(أ) انتشار عبادة إيزيس.
(ب) اعتراض الكهنة.
(جـ) إلغاء الأباطرة لها.
(د) تعارضها مع الشرائع السماوية.

٩ تعود شهرة سكان بلاد العراق القديم بالكثير من الصناعات إلى .....

(أ) التأثر بالحضارات المجاورة.
(ب) التقدم الثقافى للعراقيين.
(جـ) وفرة الخامات المعدنية.
(د) نشاط التجارة الخارجية.

١٠ اختلف مجلس الشيوخ فى روما أثناء العصر الجمهورى عن العصر الملكى فى .....

(أ) السلطات التى يمارسها.
(ب) عدد الأعضاء.
(جـ) الطبقة التى يتكون منها.
(د) مكانتهم الاجتماعية.

١١ مَثَّلَ نقباء العامة فى النظام الجمهورى بروما جزءًا من السلطة .....

(أ) القضائية.
(ب) التشريعية.
(جـ) الدينية.
(د) التنفيذية.

١٢ «احترم الإسكندر المعبودات المصرية وقدم لها القرابين كما زار معبد الإله آمون بواحة سيوة».
فى ضوء العبارة السابقة : ما قام به الإسكندر فى مصر يدل على .....

(أ) إدراكه لدور الدين فى حياة المصريين.
(ب) انبهاره بحضارة مصر العريقة.
(جـ) رغبته فى التعلم من المصريين.
(د) تقديره لمساندة المصريين له ضد الفرس.

ب اختر إجابتين صحيحتين من بين البدائل التالية :

١٣ يُعد أشهر مؤرخى اليونان القدماء والذين كتبوا عن مصر الفرعونية ..... و .....

(أ) فيدياس.
(ب) مانيتون.
(جـ) هوميروس.
(د) بوليبيوس.
(هـ) هيرودوت.

جـ أسئلة المقال :

١٤ حدد مقترحاتك لـ :

استفادة مصر المعاصرة من تجربة البطالمة فى الاهتمام بالتجارة.

١٥ بم تفسر :

كان الاحتلال الرومانى كارثة اجتماعية على أهل مصر ؟

١٦ ماذا كان يحدث إذا :

اتبع الجيش فى بلاد العراق القديم الأساليب التقليدية فى الحروب ؟

الامتحان السابع

• فهم • تطبيق • تحليل • تقويم • ابتكار

أسئلة تفاعلية

أ اختر الإجابة الصحيحة من بين البدائل التالية :

١ أدى موقع فينيقيا المتوسط بين الشرق والغرب إلى .....

(أ) التنافس بين المدن الفينيقية.

(ب) ازدهار النشاط الصناعى.

(جـ) ازدهار العمارة الحربية.

(د) تكوين إمبراطورية فينيقية كبرى.

٢ حرص سكان بلاد العراق القديم على التبادل التجارى مع البلاد المجاورة ومنها .....

(أ) بلاد الهند.

(ب) روما القديمة.

(جـ) بلاد اليونان.

(د) المدن الفينيقية.

٣ جاء المواطنون الرومان إلى مصر خلال حكم الرومان لها بهدف .....

(أ) استثمار أموالهم.

(ب) المشاركة فى الحكم.

(جـ) دراسة الحضارة المصرية.

(د) نشر الديانة المسيحية.

٤ يرجع الفضل للبطالمة فى الحفاظ على التاريخ السياسى والعسكرى للإغريق من خلال .....

(أ) تشجيع الإغريق على الإقامة فى مصر.

(ب) بناء الإسكندر للمدن لنشر الحضارة الإغريقية.

(جـ) إعادة نشر الإنجازات الأدبية والثقافية للإغريق.

(د) تكوين إمبراطورية بطلمية واسعة.

٥ نستنتج أن ترحيب المصريين بالإسكندر الأكبر عند قدومه إلى مصر كان بسبب .....

(أ) اقتناع المصريين بأفكار الإسكندر.

(ب) اشتراكهما فى العداء للفرس.

(جـ) إدراك المصريين لمدى قوة الإسكندر.

(د) احترام الإسكندر للمعبودات المصرية.

٦ «*أقام هادريان معبدًا للمعبود سرابيس بالإسكندرية*». يدل ذلك على رغبة الإمبراطور فى .....

(أ) التقرب من اليهود فى مصر.

(ب) التقرب من المصريين والرومان.

(جـ) اكتساب ثقة المصريين والإغريق.

(د) نشر العقيدة الرومانية.

٧ أى من ملوك العراق القديم الآتيين اهتم بإرساء قواعد الحياة الاجتماعية فى العراق ؟ .....

(أ) سرجون الثانى.
(ب) حمورابى.
(جـ) كورش.
(د) سنحاريب.

٨ حرص الملك الفرعونى نخاو الثانى على الاستعانة بالبحارة الفينيقيين لتحقيق أهداف .....

(أ) اقتصادية.
(ب) سياسية.
(جـ) عسكرية.
(د) دينية.

٩ يدعو النص المقابل إلى .....

قال سقراط فيلسوف اليونان القديم:
«إن على المرء ألا يخشى أحدًا ما دام يتبع سبيل العقل والضمير».

(أ) المساواة والديمقراطية.
(ب) التسامح الدينى.
(جـ) احترام الآخر.
(د) شجاعة المواجهة.

١٠ كانت السلطة الفعلية فى روما بعد القضاء على النظام الملكى فى يد .....

(أ) جمعية القبائل.
(ب) مجلس الشيوخ.
(جـ) القنصلين.
(د) نقباء العامة.

١١ استصلح البطالمة مساحات كبيرة من الأراضى الزراعية بهدف .....

(أ) توفير فرص عمل.
(ب) منح الأراضى للمعابد.
(جـ) منح الأراضى للمصريين.
(د) زيادة الإنتاج الزراعى.

١٢ قامت سياسة الرومان المالية والاقتصادية فى مصر على أساس .....

(أ) تحقيق نهضة اقتصادية شاملة للمصريين.
(ب) حل مشكلة البطالة والعبيد فى مصر.
(جـ) استكمال مسيرة البطالمة فى البناء والإصلاح.
(د) استغلال أكبر قدر ممكن من دخل مصر.

ب اختر إجابتين صحيحتين من بين البدائل التالية :

١٣ «*الحضارة الهيلينستية حضارة تجمع بين مزايا الحضارات الشرقية وحضارة بلاد اليونان*». فى ضوء العبارة السابقة : تعددت أساليب بطلميوس الثانى فى نشر الحضارة الهيلينستية ومنها ..... و .....

(أ) اتخاذ معبود واحد للمصريين والإغريق.

(ب) جذب العنصر اليونانى إلى مصر.

(جـ) الحفاظ على الحضارة الإغريقية.

(د) الاهتمام بالحياة العلمية.

(هـ) الاستعانة بالمصريين فى الجهاز الإدارى.

جـ أسئلة المقال :

١٤ أيد صحة العبارة الآتية تاريخيًا :

ظهور الوحدة بين مصر وسوريا فى تأمين حدود البلاد قديمًا.

١٥ ما العلاقة بين : الحياة العلمية، ومقاومة المصريين للرومان ؟

١٦ دلل على صحة العبارة الآتية تاريخيًا :

يُعد عصر بطلميوس الرابع نقطة تحول فى تاريخ البطالمة.

الامتحان الثامن

● فهم ○ تطبيق ● تحليل ● تقويم ● ابتكار

أ اختر الإجابة الصحيحة من بين البدائل التالية :

معابد فيلة

١ الصورة التى أمامك تعبر عن .....

(أ) سير البطالمة على خطى الإسكندر فى بناء المعابد.

(ب) استخدام البطالمة الدين لتحقيق أهدافهم.

(جـ) التطور العلمى والثقافى لدولة البطالمة فى مصر.

(د) تأثر العمارة المصرية بالعمارة الإغريقية القديمة.

٢ حرم المستعمر الرومانى المصريين من ثمار جهودهم نتيجة .....

(أ) تعيين حاكم رومانى على مصر.

(ب) السيطرة على التجارة الداخلية.

(جـ) فرض أنواع متعددة من الضرائب.

(د) احتكار بعض الصناعات المصرية.

٣ المعدن الذى استخدم فى تزيين المنشآت الفينيقية .....

(أ) الذهب.

(ب) الفضة.

(جـ) النحاس.

(د) البرونز.

٤ يتشابه كل من فرجيل أعظم شعراء الرومان قديمًا والمؤرخ كاتو الرقيب فى .....

(أ) اهتمامهم بالكتابات الأدبية.

(ب) تسامحهم الدينى.

(جـ) تسجيل قصة تأسيس روما.

(د) كتاباتهم باللغة اليونانية.

٥ تغيرت ملامح المسكن الرومانى فى العصر الإمبراطورى نتيجة .....

(أ) الاستقرار السياسى.

(ب) التواصل الحضارى.

(جـ) النمو الاقتصادى.

(د) التطور العلمى.

٦ توجد علاقة بين توحيد الملك فيليب المقدونى لبلاد اليونان و .....
(أ) عيوب الديمقراطية الإغريقية.
(ب) طبيعة بلاد الإغريق الجغرافية.
(جـ) السياسة الخارجية لبلاد اليونان.
(د) السياسة الداخلية لإسبرطة.

٧ «*تسعى المنظمات الدولية حاليًا للاهتمام بالأطفال*».
طُبقت العبارة السابقة فى بلاد العراق القديم بصورة تشريعية لأول مرة فى عصر الدولة .....
(أ) الأكادية.
(ب) الكلدانية.
(جـ) الآشورية.
(د) البابلية الأولى.

٨ تشابه نظام التربية فى إسبرطة مع طبيعة الحياة فى .....
(أ) أثينا.
(ب) سومر.
(جـ) آشور.
(د) أكاد.

٩ كان الهدف الرئيسى للفينيقيين من إنشاء مستوطنات فى حوض البحر المتوسط إقامة .....
(أ) قواعد عسكرية.
(ب) محطات تجارية.
(جـ) مدن استعمارية.
(د) مراكز حضارية.

١٠ تحمل العامة أسباب فشل النظام الجمهورى لروما فى تحقيق العدالة الاجتماعية لأنهم .....
(أ) شاركوا التجار فى صراعهم مع الأشراف.
(ب) قاموا بالعمل فى مزارع وأراضى الأشراف.
(جـ) سعوا لنيل حقوقهم السياسية والاجتماعية.
(د) ساعدوا الطبقة الثرية فى السيطرة على المناصب.

١١ اهتم الآشوريون بفن العمارة من أجل إظهار.....
(أ) تقديرهم للفنون.
(ب) عظمة دولتهم.
(جـ) اتساع دولتهم.
(د) تقديرهم للآخرين.

١٢ ظهرت ملامح الحياة الإغريقية فى مصر تحت حكم البطالمة من خلال .....
(أ) بناء المعابد والقصور.
(ب) سيادة الحكم المطلق فى مصر.
(جـ) المدن اليونانية فى مصر.
(د) الاعتماد على الإغريق فى الجيش.

ب اختر إجابتين صحيحتين من بين البدائل التالية :

١٣ «قسمت الطبيعة الجبلية بلاد الإغريق إلى مجموعة من الأقاليم المحددة المساحة والمنعزلة».

فى ضوء العبارة السابقة : تمثل الأثر الناتج عن ذلك فى ..... و .....

(أ) الاتجاه إلى البحر والعمل بالتجارة.

(ب) الصراع بين المدن الإغريقية.

(جـ) إهمال النشاط الزراعى.

(د) الاتصال بالحضارات الأخرى.

(هـ) إهمال الفنون والعمارة.

جـ أسئلة المقال :

١٤ حدد العلاقة بين :

أجاثوكليس، والإمبراطورية البطلمية.

١٥ ما الدروس المستفادة من :

تطور نظام الحكم فى أثينا إلى الديمقراطية ؟

١٦ فسر :

سهولة التواصل الحضارى بين كل من بلاد العراق القديم وفينيقيا مع الحضارة المصرية القديمة.

أسئلة تفاعلية

الامتحان التاسع

فهم • تطبيق • تحليل • تقويم • ابتكار

أ اختر الإجابة الصحيحة من بين البدائل التالية :

١ استكمل اليونانيون القدماء ما أنجزته الحضارات الأخرى باستثناء مجال .....

(أ) التاريخ.
(ب) العلوم.
(ج) الأدب.
(د) الفلسفة.

٢ ساعدت إصلاحات بركليس فى بلاد اليونان على الوصول إلى الديمقراطية من خلال .....

(أ) تحقيق نهضة اقتصادية شاملة.
(ب) الاهتمام بالجوانب العلمية والثقافية.
(ج) التركيز على التربية العسكرية الصارمة.
(د) الارتقاء بمستوى القيم والأخلاق.

٣ نستنتج من خلال الصورة المقابلة أن وجه الاختلاف بين الدويلات السومرية فى العراق والعصر العتيق فى مصر يتمثل فى .....

صلاية الملك نعرمر
موحد القطرين

(أ) الإبداع الفنى.
(ب) الازدهار الثقافى.
(ج) النضج السياسى.
(د) الازدهار الاقتصادى.

٤ أدى اهتمام الرومان بمشروعات الرى فى مصر إلى .....

(أ) فتح مجالات العمل أمام المصريين.
(ب) زيادة مساحة الأراضى الزراعية.
(ج) تحسين أحوال الفلاح المصرى.
(د) استقرار أحوال مصر السياسية.

٥ مهارة الفينيقيين البحرية جعلت الملك المصرى القديم نخاو الثانى يستعين بهم للقيام برحلة بحرية أراد منها .....

(أ) احتلال بلاد جديدة.
(ب) نشر الحضارة المصرية.
(ج) دعم الاقتصاد المصرى.
(د) الوصول إلى شرق آسيا.

٦ كان لليهود وضع اجتماعى متميز فى مصر خلال حكم البطالمة بسبب .....

(أ) امتلاكهم الثروات المالية.

(ب) تقدير ملوك البطالمة لهم.

(جـ) العلاقات الاجتماعية بينهم وبين الإغريق.

(د) حرص البطالمة على التماسك المجتمعى.

٧ تدل النقوش التى سجلها الرومان على أقواس النصر على .....

(أ) اهتمامهم بالعمارة الحربية.

(ب) تأثرهم بالعمارة الإغريقية.

(جـ) اتساع الإمبراطورية الرومانية.

(د) تأثرهم بالفن المصرى.

٨ يرجع السبب الرئيسى وراء انهيار الدويلات السومرية إلى .....

(أ) النزاعات الداخلية.

(ب) الاحتلال الفارسى.

(جـ) استيلاء البابليين عليهم.

(د) تأسيس الدولة الأكادية.

٩ الديمقراطية كلمة يونانية تعنى «حكم الشعب» وقد وصلت إليها أثينا من خلال .....

(أ) تأثرها بالبلاد المجاورة.

(ب) هيمنة الإدارة المركزية على الحكم.

(جـ) التحركات الشعبية الناتجة عن الظلم.

(د) حروبها ضد إسبرطة.

١٠ كان مجلس الشيوخ فى إسبرطة يضم أغلبية من .....

(أ) رجال الدين.

(ب) كبار التجار.

(جـ) المدنيين.

(د) العسكريين.

١١ حرص الإمبراطور الرومانى أغسطس على دعم حكمه من خلال .....

(أ) القضاء على الملكية الفردية الزراعية.

(ب) فرض هيمنة الإدارة المركزية.

(جـ) إشراك مجلس السناتو فى الحكم.

(د) الاعتماد على طبقة الفرسان.

١٢ «أصبحت مصر ولاية رومانية عام ٣٠ ق.م بعد هزيمة أنطونيوس أمام أكتافيوس فى معركة أكتيوم البحرية عام ٣١ ق.م» . فى ضوء العبارة السابقة :

كان سعى الرومان لاحتلال مصر من أجل تحقيق أهداف .....

(أ) اجتماعية.
(ب) ثقافية.
(جـ) اقتصادية.
(د) دينية.

ب اختر إجابتين صحيحتين من بين البدائل التالية :

١٣ «اختلفت نظرة الحكام البطالمة للمصريين» . فى ضوء العبارة السابقة :

من الملوك البطالمة واللذان شهدا عصرهما تغيرات عادت بالنفع على الشعب المصرى ..... و .....

(أ) بطلميوس الأول.
(ب) بطلميوس الثانى.
(جـ) بطلميوس الثالث.
(د) بطلميوس الرابع.
(هـ) بطلميوس الخامس.

جـ أسئلة المقال :

١٤ «ثار الأرستقراطيون على الملك تاركوينوس عام ٥١٠ ق.م وأسقطوا النظام الملكى وأعلنوا النظام الجمهورى» .

فى ضوء العبارة السابقة، استخلص :

كيف استفاد الرومان من أخطاء النظام الملكى بعد إعلان الجمهورية.

---

١٥ دلل تاريخيًا على صحة العبارة الآتية :

مثلت الزراعة أكبر التحديات أمام الفينيقيين.

---

١٦ «كانت مصر قِبلةً للعلماء الإغريق ليتعلموا من إنجازات المصريين القدماء الحضارية» .

فى ضوء العبارة السابقة، ما مقترحاتك لـ :

تستعيد مصر مكانتها العلمية والثقافية فى العالم ؟

الامتحان العاشر

• فهم • تطبيق • تحليل • تقويم • ابتكار

أ اختر الإجابة الصحيحة من بين البدائل التالية :

١ حكم كل من الملك سرجون الأول والملك سرجون الثانى العراق قديمًا فى فترات زمنية مختلفة ورغم ذلك جمع بينهما .....

(أ) السيطرة على الدولة البابلية.

(ب) الاهتمام بالإصلاح الاجتماعى.

(جـ) التعصب ضد المدن البابلية.

(د) الانتماء لأصل واحد.

---

٢ أثر الموقع الجغرافى لفينيقيا على فن العمارة من خلال حرصهم على .....

(أ) بناء المسلات الضخمة والمسارح.

(ب) نقل عادات المصريين فى بناء المقابر.

(جـ) بناء الحصون والقلاع والأسوار.

(د) الاهتمام ببناء القصور والمعابد.

---

٣ كانت أولى توسعات روما فى شرق البحر المتوسط على حساب .....

(أ) مصر.

(ب) مقدونيا.

(جـ) سوريا.

(د) قرطاجة.

---

٤ *«اهتم البطالمة بالعلم واحتلت الإسكندرية فى عصرهم مركز الصدارة وتفوقت على أثينا».*

فى ضوء العبارة السابقة : حرص البطالمة على تفوق الإسكندرية على أثينا من أجل .....

(أ) جذب الإغريق للإقامة فى مصر.

(ب) تحقيق وصية الإسكندر الأكبر.

(جـ) التفوق العسكرى لدولة البطالمة.

(د) تحقيق التقارب من المصريين.

---

٥ يُعد مؤتمر بابل عام ٣٢٣ ق.م شاهدًا تاريخيًا على حالة التفكك السياسى الذى حدث فى الحضارة .....

(أ) الفرعونية.

(ب) العراقية.

(جـ) الفينيقية.

(د) الإغريقية.

٦ تحددت المكانة الاجتماعية للفرد فى مصر تحت الحكم الرومانى من خلال .....
(أ) المهنة والثروة.
(ب) الأصل والثروة.
(جـ) الأصل والتعليم.
(د) الديانة والمهنة.

٧ تشابهت الحضارة الفرعونية والحضارة العراقية القديمة فى الانتماء إلى الحضارات .....
(أ) الرعوية.
(ب) الزراعية.
(جـ) التجارية.
(د) الصناعية.

٨ يمكن الاستفادة من دراسة عوامل سقوط الدولة الآشورية أن .....
(أ) استمرار الدول لا تحققه القوة العسكرية وحدها.
(ب) الجيش القوى وحده يصنع الإمبراطوريات.
(جـ) القوة هى التى تحدد العلاقات الدولية.
(د) استقرار الدولة يحققه نجاحها العسكرى.

٩ استفادت مصر قديمًا من التواصل الحضارى مع فينيقيا فى .....
(أ) العمارة وبناء القصور.
(ب) العقائد الدينية والتحنيط.
(جـ) نحت التماثيل والمسلات.
(د) الكشوف الجغرافية.

١٠ زادت واردات مصر فى عصر البطالمة من .....
(أ) الزيوت.
(ب) الأخشاب.
(جـ) الأحجار.
(د) الزجاج.

١١ نجح الفينيقيون فى الاستفادة من حدودهم الطبيعية الغربية فى .....
(أ) إنشاء الموانئ التجارية.
(ب) زراعة مدرجات الجبال.
(جـ) إنشاء أسطول حربى.
(د) تصنيع المواد المعدنية.

١٢ من خلال الخريطة التالية : استخدمت الوثائق والسجلات المدونة بالكتابة المسمارية لأول مرة فى تاريخ العراق القديم فى .....

(أ) المناطق الشمالية الشرقية.
(ب) منطقة الفرات الأوسط.
(جـ) منطقة حدودها من المدن الفينيقية.
(د) منطقة التقاء نهرى دجلة والفرات.

ب اختر إجابتين صحيحتين من بين البدائل التالية :

١٣ كانت الطبقة الأرستقراطية سببًا فى انتشار الفقر فى روما بسبب ..... و .....

(أ) اعتبار الزراعة الحرفة الرئيسية.
(ب) امتلاكها لمعظم الأراضى الزراعية.
(جـ) اعتمادها على العبيد فى الزراعة.
(د) سيطرتها على الحياة السياسية.
(هـ) تركيز السلطة الدينية فى يدها.

جـ أسئلة المقال :

١٤ بم تفسر :
احتلال اليهود لمكانة اجتماعية أعلى من المصريين خلال الحكم الرومانى ؟

١٥ حدد الأثر الناتج عن :
الأطماع والطموحات السياسية للملكة كليوباترا السابعة.

١٦ أمامك صورتين لاثنين من حكام الإمبراطورية الرومانية، بين أوجه التناقض بينهما : فى التعامل مع المعتقدات الدينية السماوية.

دقلديانوس

قسطنطين

الامتحان الحادى عشر

• فهم • تطبيق • تحليل • تقويم • ابتكار

أسئلة تفاعلية

أ اختر الإجابة الصحيحة من بين البدائل التالية :

١ سعى الإسكندر الأكبر إلى تحقيق مقولة «العالم وطن واحد» وكان يهدف من ذلك إلى .....

(أ) وحدة المعتقدات الدينية.

(ب) نشر مبادئ الديمقراطية.

(جـ) تحقيق العدالة الاجتماعية.

(د) نشر الحضارة الإغريقية.

٢ «قام نظام الحكم فى روما أثناء العصر الجمهورى على وجود عدة هيئات تسعى لتحقيق أهداف الشعب الرومانى» . فى ضوء العبارة السابقة :

الهيئة التى كانت تملك القدرة على تحقيق متطلبات الشعب الرومانى هى .....

(أ) القنصلان.

(ب) مجلس الشيوخ.

(جـ) جمعية القبائل.

(د) نقباء العامة.

٣ أمامك صورة لأحد ملوك العراق القديم، قام بإصدار مجموعة من القوانين ساهمت فى تحقيق .....

الملك حمورابى

(أ) الاستقرار الاجتماعى.

(ب) المساواة الاجتماعية.

(جـ) الوحدة السياسية.

(د) الانتصارات العسكرية.

٤ أى من ملوك مصر الفرعونية نجح فى اكتساب ثقة الفينيقيين ؟ .....

(أ) حور محب.

(ب) رمسيس الثالث.

(جـ) تحتمس الثالث.

(د) إخناتون.

٥ اعتبر الرومان مصر ضيعة خاصة لهم وقد أكد هذا المفهوم قيامهم بتطبيق .....

(أ) نظام الاحتكار.

(ب) نظام الإحصاء السكانى.

(جـ) نظام الإقطاع.

(د) نظام الضرائب الدقيق.

٦ استكمل اليونانيون القدماء ما بدأه المصريون القدماء فى مجال .....

(أ) الأدب.
(ب) العلوم.
(جـ) التاريخ.
(د) الفلسفة.

٧ تشابهت إسهامات الحضارة الفرعونية مع حضارة فينيقيا فى إثراء الحضارة الإنسانية فى المجال .....

(أ) الدينى.
(ب) العسكرى.
(جـ) الثقافى.
(د) الزراعى.

٨ أدت الهجرات الأيونية التى استقرت فى جزر بحر إيجة إلى .....

(أ) نقل العلوم المصرية إلى بلاد اليونان.
(ب) تميز التراث الأدبى اليونانى بالثراء والتنوع.
(جـ) تطور الحياة الفنية اليونانية.
(د) دعم التجارة مع بلاد العراق.

٩ «*تجمعت عدة عوامل أدت إلى عدم قيام دولة فينيقية موحدة*» . من هذه العوامل .....

(أ) التوجهات السياسية للمدن الفينيقية.
(ب) اهتمام الفينيقيين بالنشاط البحرى.
(جـ) التدخل الأجنبى فى شئون فينيقيا.
(د) الأسوار المنيعة للمدن الفينيقية.

١٠ ظهر عمق وقِدم العلاقات الفرعونية والعراقية القديمة من خلال .....

(أ) اعتماد الحضارتين على الزراعة.
(ب) أثر الحضارتين على البلاد المجاورة.
(جـ) انتقال عبادة عشتار إلى مصر.
(د) وجود آثار عراقية فى مصر.

١١ وصل النشاط التجارى للإمبراطورية الرومانية فى الحوض الغربى للبحر المتوسط إلى .....

(أ) اليونان.
(ب) مصر.
(جـ) سوريا.
(د) إسبانيا.

١٢ قامت المدرسة المسيحية بالإسكندرية بدور فعال فى إثراء الحياة الثقافية فى مصر وانتشار الأدب القبطى الذى اهتم بالجانب .....

(أ) السياسى.
(ب) الوطنى.
(جـ) الروحى.
(د) العلمى.

ب اختر إجابتين صحيحتين من بين البدائل التالية :

١٣ ازدهرت الصناعة فى مصر تحت حكم البطالمة بسبب ..... و .....

(أ) ازدهار التجارة الداخلية.

(ب) السيطرة على الحياة الاقتصادية.

(ج) مهارة المصريين وبراعة الإغريق.

(د) اتساع الأسواق الخارجية.

(هـ) الاستفادة من خبرات اليهود.

جـ أسئلة المقال :

١٤ ماذا كان يحدث إذا : اهتم الآشوريين بثروات البلاد الخاضعة لهم ؟

١٥ «*كان الفينيقيون أول أمة بحرية فى العالم*» . فى ضوء العبارة، وضح :

كيف تستفيد مصر حاليًا من سواحلها البحرية.

١٦ أيد صحة العبارة الآتية تاريخيًا :

لعبت شبه الجزيرة العربية دورًا مؤثرًا فى بلاد العراق القديم.

القبطى

أسئلة تفاعلية

الامتحان الثانى عشر

● فهم ● تطبيق ● تحليل ● تقويم ● ابتكار

١ اختر الإجابة الصحيحة من بين البدائل التالية :

١ أمامك صورة لأحد التوابيت التى عُثر عليها فى مدينة جُبيل، بملاحظتها نستدل على مدى التفاعل الحضارى بين .....

(أ) فينيقيا والعراق القديم.

(ب) العراق القديم والرومان.

(جـ) مصر قديمًا وفينيقيا.

(د) اليونان ومصر قديمًا.

---

٢ زار الكثير من اليونانيين مصر قديمًا والتقوا بالكهنة لأهداف .....

(أ) اقتصادية. (ب) سياسية.

(جـ) دينية. (د) ثقافية.

---

٣ اختلفت حضارة مصر الفرعونية عن حضارة العراق القديم فى .....

(أ) النشاط الاقتصادى السائد.

(ب) تعدد العواصم.

(جـ) الاعتقاد فى الحساب بعد الموت.

(د) تعدد الآلهة.

---

٤ فرض الرومان على سكان مصر أكثر من مائتى نوع من الضرائب مما يدل على .....

(أ) كثرة عدد سكان مصر.

(ب) نشاط حركة التجارة.

(جـ) الحرص على إضعاف مصر.

(د) قِصر نظر الرومان.

---

٥ حرص الأباطرة الرومان على جعل مصر مخزن للقمح للإمبراطورية الرومانية بسبب .....

(أ) انشغال الرومان بالصناعة عن الزراعة.

(ب) عدم ملائمة مناخ روما لزراعة القمح.

(جـ) رغبتهم فى تحقيق الاستقرار الداخلى.

(د) انشغال الرومان بتوسعاتهم الخارجية.

٦ يعد انتشار عبادة الإلهة المصرية إيزيس فى بلاد اليونان وروما دليلًا على .....

(أ) خوفهم من ثورات المصريين.
(ب) معاناتهم من الفراغ الدينى.
(جـ) عدم وجود آلهة محلية عندهم.
(د) عالمية المعبودات المصرية.

---

٧ «*يجب عليك ألا تنسى أمك وما فعلته من أجلك فإن نسيتها فلها الحق أن تلومك وإن شكتك إلى الله فسيسمع شكواها*». من خلال دراستك :

أى من حكام بلاد العراق القديم تشابهت أفكاره مع العبارة السابقة ؟ .....

(أ) حمورابى.
(ب) سنحاريب.
(جـ) سرجون الأول.
(د) سرجون الثانى.

---

٨ كان التواصل الاقتصادى بين أقدم المدن الفينيقية والحضارة الفرعونية سببًا فى تطور الفينيقيين فى المجال .....

(أ) الصناعى.
(ب) الزراعى.
(جـ) الثقافى.
(د) العسكرى.

---

٩ تحدث استرابون فى كتابه الشهير (الجغرافيا) عن مصر وكانت فى ذلك الوقت تحت حكم .....

(أ) الرومان.
(ب) البطالمة.
(جـ) الإسكندر.
(د) الفرس.

---

١٠ تعد الفئة التى استفادت من قيام النظام الإمبراطورى بالدولة الرومانية فئة .....

(أ) المزارعون.
(ب) الأشراف.
(جـ) التجار.
(د) العبيد.

---

١١ تشابه الملك البطلمى بطلميوس الأول والقائد العربى عمرو بن العاص فى .....

(أ) انتصارهما على الرومان.
(ب) احترامهما لعقائد المصريين.
(جـ) سيطرتهما على البحر المتوسط.
(د) طريقة وصولهما لحكم مصر.

---

١٢ تفوقت مدينة الإسكندرية على مدينة أثينا فى جميع المجالات العلمية إلا أن أثينا حفظت مكانتها فى مجال .....

(أ) الطب.
(ب) الأدب.
(جـ) التاريخ.
(د) الفلسفة.

ب اختر إجابتين صحيحتين من بين البدائل التالية :

١٣ اتسمت الفترة التى سبقت حكم الملك سرجون الأول لبلاد العراق القديم بـ ..... و .....

(أ) النزاعات السياسية.

(ب) الاحتلال الأجنبى للبلاد.

(جـ) وحدة البلاد وترابطها.

(د) التناحر الدينى.

(هـ) تدوين مظاهر الحضارة المختلفة.

جـ أسئلة المقال :

١٤ حدد العلاقة بين :

المدن الفينيقية، وملك مصر الفرعونية تحتمس الثالث.

١٥ حدد مدى مصداقية العبارة التالية تاريخيًا :

كانت معركة أكتيوم البحرية ٣١ ق.م حدًا فاصلًا بين دولتين حكمتا مصر.

١٦ دلل تاريخيًا على صحة العبارة الآتية :

استفاد الرومان من تقدم المصريين القدماء فى علم الفلك.

الامتحان الثالث عشر

• فهم • تطبيق • تحليل • تقويم • ابتكار

أسئلة تفاعلية

١ اختر الإجابة الصحيحة من بين البدائل التالية :

١ وقعت بلاد الرافدين تحت سيطرة الاحتلال للمرة الأولى من جهة الغرب على يد .....

(أ) المقدونيين.
(ب) الرومان.
(ج) الفينيقيين.
(د) المصريين.

٢ ظهر التفاعل الحضارى بين حضارة مصر قديمًا والحضارة المينوية فى .....

(أ) نحت التماثيل.
(ب) بناء الأعمدة الدورية.
(ج) بناء الأهرامات.
(د) صناعة ورق البردى.

٣ ساعد اختراع الفينيقيين للأبجدية على .....

(أ) الاستقرار السياسى.
(ب) التواصل الحضارى.
(ج) التماسك المجتمعى.
(د) التسامح الدينى.

٤ افتقد المصريون طوال حكم البطالمة .....

(أ) المكانة الإدارية.
(ب) الازدهار الفكرى.
(ج) حرية العقيدة.
(د) الحرية الاقتصادية.

٥ يمثل سولون مرحلة من مراحل الديمقراطية فى أثينا فتركزت إصلاحاته فى الجوانب .....

(أ) الدينية والاقتصادية.
(ب) الاقتصادية والاجتماعية.
(ج) الثقافية والعسكرية.
(د) الدينية والعسكرية.

٦ أمامك صورة لأحد الأباطرة الرومان الذى أقام معبدًا للمعبود المصرى الإغريقى سرابيس بهدف .....

الإمبراطور هادريان

(أ) إظهار التسامح الدينى.
(ب) التقريب بين المعبودات.
(ج) نشر الحضارة الهيلينستية.
(د) تأكيد السيادة الرومانية.

٧ الدرس المستفاد من سقوط الدولة الكلدانية .....

(أ) الدولة القوية هى من تستغل الدول الصغرى.

(ب) قوة الملك تنعكس على قوة الدولة.

(جـ) استمرار الدول لا تحققه القوة العسكرية.

(د) إهمال القوانين يؤدى إلى الفوضى.

٨ ترتب على السياسة التى اتبعها الرومان فى مصر .....

(أ) تكوين المصريين فرق عسكرية منظمة لمواجهة الرومان.

(ب) فقد الرومان دعم المصريين فى مواجهة المسلمين.

(جـ) ارتفاع مكانة الإغريق فى الإدارة والحكم.

(د) زيادة المحاصيل الصيفية على حساب الشتوية.

٩ اتفقت كل من قرطاجة وروما أثناء الصراع بينهما فى .....

(أ) التوسع الخارجى.

(ب) النظام السياسى.

(جـ) تشريع القوانين.

(د) الأصل المشترك.

١٠ نستنتج من الخريطة المقابلة أن أول اتساع للإسكندر نحو الشرق كان على حساب الحضارة .....

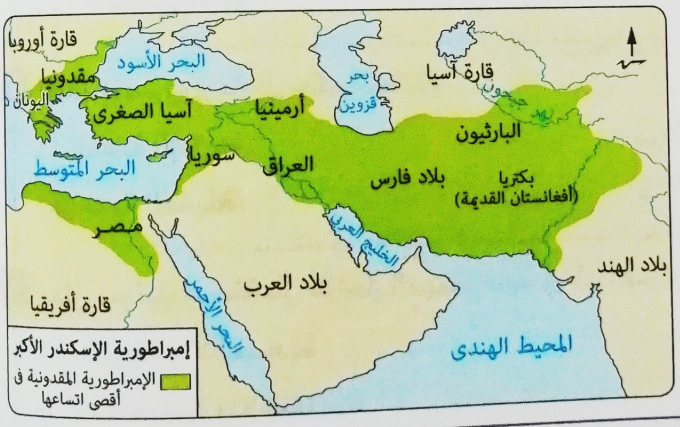

(أ) الفارسية.

(ب) الفينيقية.

(جـ) الفرعونية.

(د) العراقية.

١١ نقراطيس وأنطينوبوليس مدينتان تم بناءهما فى مصر قديمًا خلال عهدى .....

(أ) الفراعنة والرومان.

(ب) البطالمة واليونانيين.

(جـ) اليونانيين والرومان.

(د) الفراعنة والإغريق.

١٢ بلغ فن النحت الرومانى درجة كبيرة من المهارة والإتقان كما أنه تميز بالابتعاد عن .....

(أ) تجسيد الآلهة.

(ب) محاكاة الواقع.

(جـ) تخليد انتصارات القادة العظام.

(د) الخيال والمبالغة.

ب اختر إجابتين صحيحتين من بين البدائل التالية :

١٣ ساعد على قيام الحضارة فى بلاد الشام العوامل ..... و .....

(أ) الجغرافية.
(ب) الاجتماعية.
(جـ) الاقتصادية.
(د) السياسية.
(هـ) الدينية.

جـ أسئلة المقال :

١٤ **أيد صحة العبارة الآتية تاريخيًا :**

تُعد حضارة أثينا مثالًا للثراء الفكرى والمادى.

١٥ **دلل تاريخيًا على صحة العبارة الآتية :**

تشابهت استراتيجية الفينيقيين فى الزراعة على المناطق الجبلية مع أحد الإبداعات المعمارية الكلدانية فى بلاد العراق القديم.

١٦ **حدد مدى مصداقية العبارة التالية تاريخيًا :**

اختلفت ملكية الأرض الزراعية فى روما عن مصر الفرعونية.

الامتحان الرابع عشر

● فهم ● تطبيق ● تحليل ● تقويم ● ابتكار

أ اختر الإجابة الصحيحة من بين البدائل التالية :

١ أدت الطموحات السياسية لكليوباترا السابعة إلى .....

(أ) تغيير الوضع السياسى لمصر.

(ب) تمتع مصر بمكانة سياسية عند الرومان.

(جـ) التواصل الحضارى بين البطالمة والرومان.

(د) وصول كليوباترا السابعة لحكم روما.

٢ تشابهت حضارة مصر الفرعونية مع حضارة بلاد اليونان فى .....

(أ) السمو إلى توحيد الآلهة.

(ب) انتشار الزراعة فى الأراضى السهلية.

(جـ) الاعتماد على التجارة البحرية.

(د) تكوين إمبراطورية بحرية كبرى.

٣ اقرأ النص الذى أمامك، ثم استخلص : القيمة التى وردت فى الحديث عن أهالى الإسكندرية .....

زار الإمبراطور الرومانى هادريان الإسكندرية فى القرن الـ ٢م، وتحدث عنها قائلًا :

«إنها مدينة غنية تتمتع بالثراء والرخاء، لا يوجد بها عاطل عن العمل فهناك من يعمل فى صناعة الزجاج وآخرون فى صناعة البردىّ أو النسيج أو أى حرفة أخرى، الكل يعمل حتى أصحاب العاهات من العجزة والعميان، وحتى الذين فقدوا أيديهم لا يقضون حياتهم عاطلين».

(أ) الترابط الأسرى.

(ب) التعايش السلمى.

(جـ) تقدير العمل.

(د) الحرية الدينية.

٤ يدل تتويج ملوك العراق القديم فى الزاقورات على .....

(أ) سيطرة رجال الدين على شئون الحكم.

(ب) اعتبار الزاقورة مقرًا للحكم.

(جـ) التواصل الدينى مع فينيقيا.

(د) دور الدين فى الحياة السياسية.

٥ «*اقتسمت إمبراطورية الإسكندر إلى ثلاث أجزاء كانت إحداها فى الأراضى التابعة لقارة آسيا*».

فى ضوء العبارة السابقة :

تم تأسيس دولة فى هذا الجزء على يد .....

(أ) البطالمة.

(ب) الأيونيين.

(جـ) السليوقيين.

(د) المقدونيين.

٦ أمامك شكل لطبقات المجتمع الفينيقى، فى ضوء الشكل استخلص :

كانت الفئة التى لعبت دورًا مزدوجًا (سياسيًا واقتصاديًا) هى فئة .....

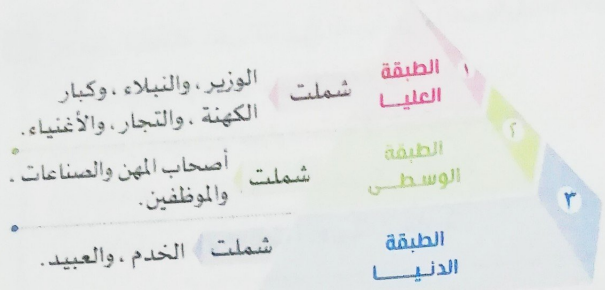

(أ) أصحاب المهن.

(ب) كبار الكهنة.

(جـ) الموظفين.

(د) الأغنياء.

---

٧ حرصت روما على استغلال إمكانيات كل من وقع تحت سيطرتها وقد ظهر ذلك من خلال .....

(أ) تشجيع الصناع الرومان على الإقامة فى مصر.

(ب) السماح لقرطاجة بعودة نشاطها التجارى.

(جـ) فرض الاحتكار على التجارة الداخلية والخارجية.

(د) استخدام الرومان نقود خاصة بهم.

---

٨ قسم الإمبراطور أغسطس مصر إلى ثلاثة أقسام إدارية بهدف .....

(أ) ضمان إحكام السيطرة على مصر.

(ب) زيادة حجم التجارة الداخلية.

(جـ) إيجاد مناصب للرومان.

(د) تسهيل استقرار الرومان.

---

٩ حرص الإسكندر الأكبر على إنشاء مدينة الإسكندرية من أجل .....

(أ) استغلالها فى التوسع غربًا.

(ب) منافسة مدينة قرطاجة تجاريًا.

(جـ) عبادة الآلهة الإغريقية فى مصر.

(د) تدعيم طموحاته العسكرية.

---

١٠ أى من الدول التى تنتمى لحضارة العراق القديمة مرت بأحداث مشابهة فى نهايتها لما فى النص المقابل ؟ .....

(أ) الأكادية.

(ب) البابلية الأولى.

(جـ) الآشورية.

(د) الكلدانية.

مرت مصر القديمة بعصر تاريخى يعرف بعصر الانتقال الثانى والذى بدأ بعد انتهاء الأسرة الثانية عشر نتيجة ضعف الملوك ووقوع البلاد فريسة لاحتلال الهكسوس.

١١ حافظ البطالمة على التاريخ السياسى والعسكرى للإغريق من خلال .....

(أ) تشجيع الإغريق على الإقامة فى مصر.

(ب) نشر الحضارة الهيلينستية فى العالم القديم.

(جـ) بناء مدينة الإسكندرية كمركز للثقافة.

(د) إعادة نشر الإنجازات الأدبية اليونانية.

١٢ عمل الرومان على زيادة الإنتاج الزراعى فى مصر من أجل .....

(أ) توفير فرص عمل للرومان فى مصر.

(ب) زيادة حجم التجارة الخارجية لروما.

(جـ) تجنيب روما الاضطرابات الداخلية.

(د) إنعاش الصناعة فى الإمبراطورية الرومانية.

ب اختر إجابتين صحيحتين من بين البدائل التالية :

١٣ تسمية الفينيقيين بهذا الاسم جاء نتيجة ..... و .....

(أ) التواصل الحضارى بين الشرق والغرب.

(ب) براعة الفينيقيين فى بناء القلاع والحصون.

(جـ) سيطرة الإغريق على حوض البحر المتوسط.

(د) النشاط التجارى البحرى للفينيقيين.

(هـ) اختراع أول أبجدية فى العالم.

جـ أسئلة المقال :

١٤ حدد مدى مصداقية العبارة التالية تاريخيًا :

لعبت الأرض الزراعية دورًا كبيرًا فى دعم الحكم البطلمى فى مصر.

١٥ حدد العلاقة بين :

السومريون، والتراث التاريخى للعراق القديم.

١٦ أيد صحة العبارة الآتية تاريخيًا :

خالف النظام الجمهورى فى روما مبدأ الفصل بين السلطات.

الامتحان الخامس عشر

• فهم • تطبيق • تحليل • تقويم • ابتكار

أ اختر الإجابة الصحيحة من بين البدائل التالية :

١ «منظمة اليونيسيف منظمة دولية لحماية حقوق الأطفال ظهرت فى بداية النصف الثانى من القرن الماضى».

فى ضوء العبارة السابقة :

أولى دول بلاد العراق القديم اهتمامًا بحقوق الطفل فى صورة تشريعية كانت الدولة .....

(أ) الأكادية. (ب) الآشورية.

(جـ) البابلية القديمة. (د) الكلدانية.

٢ أى المدن الفينيقية الآتية مثلت المنفذ الرئيسى للصادرات ونالت حظها من الشهرة فى العمارة ؟ .....

(أ) جُبيل. (ب) صور.

(جـ) صيدا. (د) أوغاريت.

٣ ظهر الفكر الأرستقراطى فى إسبرطة بصورة واضحة فى اختيار .....

(أ) الجمعية الشعبية. (ب) الملكين.

(جـ) الرقباء الشعبيون. (د) مجلس الشيوخ.

٤ يرجع حرص الإسكندر الأكبر على إظهار ولائه للمعبودات المصرية إلى .....

(أ) ضمان مساعدة المصريين له ضد الفرس.

(ب) رغبته فى ربط المعبودات الإغريقية بالشرقية.

(جـ) إدراكه أهمية الدين فى حياة المصريين.

(د) رغبته فى تخليد اسمه على المعابد.

٥ ظلت الديمقراطية صورية أثناء الحكم الجمهورى فى روما بسبب .....

(أ) التجار. (ب) العامة.

(جـ) العبيد. (د) الأشراف.

٦ يرجع وجود المصريين فى قاعدة الهرم الاجتماعى فى عصر البطالمة إلى .....

(أ) استمرارهم كملاك للأراضى الزراعية.

(ب) صعوبة تعلمهم اللغة اليونانية.

(جـ) الاعتماد عليهم كجنود مرتزقة.

(د) سياسة البطالمة العنصرية.

٧ «قِصر النظر وإهمال موارد الشعوب يؤدى إلى ضعف وانهيار الدولة».
تنطبق العبارة السابقة فى بلاد العراق القديم على الدولة .....
(أ) الأكادية.
(ب) البابلية القديمة.
(جـ) الآشورية.
(د) الكلدانية.

٨ استطاعت بلاد اليونان قديمًا تسجيل إنجازاتهم الأدبية نتيجة تواصلهم الثقافى مع .....
(أ) فينيقيا.
(ب) مصر.
(جـ) السومريين.
(د) الأكاديين.

٩ اعتبرت التجارة مع بلاد الشام تجارة داخلية للدولة الرومانية فى العصر .....
(أ) الملكى.
(ب) الجمهورى.
(جـ) الإمبراطورى.
(د) البيزنطى.

١٠ زادت أهمية الزراعة عن الصناعة فى روما بسبب .....
(أ) هيمنة الإدارة المركزية على الإمبراطورية.
(ب) سيطرة الأرستقراطيين على النشاط الاقتصادى.
(جـ) قلة الأيدى العاملة المدربة.
(د) عدم وجود أسواق للمنتجات الصناعية.

١١ استقر اليهود فى الإسكندرية أثناء الحكم الرومانى لأنها كانت .....
(أ) ميناء تجارى مهم.
(ب) مقرًا للعلم والثقافة.
(جـ) بعيدة عن الثورات.
(د) قريبة من روما.

١٢ يظهر التشابه بشكل واضح بين العقيدة الدينية فى كل من الحضارة الفينيقية والإغريقية فى .....
(أ) السمو إلى توحيد الآلهة.
(ب) تقديس قوى الخصب والنماء.
(جـ) الاعتقاد فى الحساب بعد الموت.
(د) تجسيد المعبودات بصورة بشرية.

ب اختر إجابتين صحيحتين من بين البدائل التالية :

١٣ أصدر الحاكم الأثينى سولون تشريعاته لـ ..... و .....

(أ) ضمان ولاء الشعب اليونانى.

(ب) زيادة الموارد الاقتصادية.

(جـ) الحد من سيطرة الأرستقراطيين.

(د) القضاء على النظام الملكى.

(هـ) تدعيم طموحاته السياسية.

جـ أسئلة المقال :

١٤ **دلل على صحة العبارة الآتية تاريخيًا :**

مثلت السماء عنصرًا مشتركًا فى العقيدة الرومانية والعراقية.

١٥ «*أثبتت فكرة اختراع الكتابة أن الحضارة الإنسانية سلسلة متصلة الحلقات*». **وضح ذلك.**

١٦ **بم تفسر :**

حقق نظام الاحتكار طموحات البطالمة فى مصر ؟

أسئلة تفاعلية

الامتحان السادس عشر

● فهم ● تطبيق ● تحليل ● تقويم ● ابتكار

أ اختر الإجابة الصحيحة من بين البدائل التالية :

١ يمثل معبد البارثنون رمزًا من رموز عظمة الحضارة الإغريقية لأنه .....

(أ) خُصص لعبادة الإله زيوس.

(ب) بنى بأعمدة دورية ذات أصول شرقية.

(ج) يُعد من عجائب الدنيا السبع.

(د) يمثل آخر ما وصلت إليه العمارة اليونانية.

٢ ظهر تأثر المصريين القدماء بالحضارة الرومانية من خلال .....

(أ) فن النقش على التوابيت.

(ب) استخدام فن الفسيفساء.

(ج) إقامة أقواس النصر.

(د) صناعة التماثيل الصغيرة.

٣ كانت الديمقراطية غير مكتملة فى روما قديمًا بسبب .....

(أ) فقدان العامة للثقة فى أنفسهم.

(ب) استيلاء الفرسان على جميع المناصب.

(ج) الصراع بين العامة والأرستقراطيون.

(د) امتلاك الأشراف للأراضى الزراعية.

٤ تميزت مصر عن باقى الولايات الرومانية فى العصر الإمبراطورى وذلك لأسباب .....

(أ) اقتصادية.

(ب) ثقافية.

(ج) اجتماعية.

(د) فنية.

٥ ظهر التواصل بين بلاد العراق القديم ومصر الفرعونية بصورة واضحة فى المجالين الدينى والفنى فى .....

(أ) عصر الدولة القديمة.

(ب) عصر الدولة الحديثة.

(ج) عصر الدولة الوسطى.

(د) العصر المتأخر.

٦ فى ضوء النص المقابل يعد حجر بالرمو دليل على الصلات القوية بين مصر وفينيقيا فى المجال .....

(أ) السياسى.

(ب) الدينى.

(جـ) الاقتصادى.

(د) الاجتماعى.

حجر بالرمو

يضم أسماء ملوك مصر منذ عصر ما قبل الأسرات حتى ثالث ملوك الأسرة الخامسة وأهم الأحداث التاريخية.

٧ كانت بمثابة دار للوثائق فى بلاد العراق القديم .....

(أ) دور العبادة.

(ب) القصور الملكية.

(جـ) المكتبات الحكومية.

(د) القلاع والحصون.

٨ ظهر التواصل الحضارى بين الحضارة الفينيقية والحضارات الأخرى من خلال .....

(أ) الصناعات الزجاجية.

(ب) زراعة المدرجات.

(جـ) صناعة ورق البردى.

(د) صناعة المنسوجات.

٩ «*الأخلاق وحفظ الأمن شيئان أساسيان فى حياة الشعوب*».

فى ضوء العبارة السابقة : كانت إقامة العدالة فى إسبرطة من اختصاص .....

(أ) الجيش.

(ب) مجلس الشيوخ.

(جـ) الجمعية الشعبية.

(د) الرقباء الشعبيون.

١٠ أمامك صورة لإحدى العملات البطلمية ساعد وجودها على .....

(أ) إخضاع التجارة لسياسة الاحتكار.

(ب) إنشاء الموانئ التجارية.

(جـ) تسهيل معاملات النشاط الاقتصادى.

(د) إحكام الرقابة على الأسواق.

١١ تشابه المجال الزراعى فى كل من روما وبلاد اليونان قديمًا فى .....

(أ) ملكية الأراضى الزراعية.

(ب) مساحة الأراضى الزراعية.

(جـ) ازدهار النشاط الزراعى.

(د) طبيعة البلاد الجغرافية.

١٢ يُعد العامل الرئيسى لنجاح الفينيقيين فى فتح أسواق جديدة لمنتجاتهم .....

(أ) تنوع منتجاتهم.
(ب) مهارتهم الصناعية.
(جـ) اختراعهم الأبجدية.
(د) وفرة المحاصيل.

ب اختر إجابتين صحيحتين من بين البدائل التالية :

١٣ ازداد الاضطهاد والظلم الرومانى للمصريين خلال الثلاثة قرون الميلادية الأولى نتيجة ..... و .....

(أ) زيادة حاجة الدولة الرومانية لموارد مصر.
(ب) التغيرات الدينية الكبرى فى مصر.
(جـ) التغيرات العسكرية للدولة الرومانية.
(د) كراهية المصريين لطبيعة الحكم الرومانى.
(هـ) الصراع السياسى بين المصريين والرومان.

جـ أسئلة المقال :

١٤ فى ضوء النص الذى أمامك، استنتج : عوامل ازدهار الصناعة بمصر فى عصر الرومان.

المؤرخ استرابون

زار مصر فى أوائل العصر الرومانى وقد ذكر «أن صانعى الزجاج بالإسكندرية كانت لديهم أسرار خاصة بهذه الصناعة، كما أن تربة مصر كانت تحتوى على مادة معينة تصلح بوجه خاص لصناعة الزجاج متعدد الألوان».

١٥ بم تفسر :
يعتبر الحكم البطلمى امتدادًا للحكم الفرعونى فى بعض الجوانب ؟

١٦ حدد العلاقة بين : الصناعة، والزراعة فى بلاد العراق القديم.

الامتحان السابع عشر

فهم • تطبيق • تحليل • تقويم • ابتكار

أسئلة تفاعلية

أ اختر الإجابة الصحيحة من بين البدائل التالية :

١ أكثر الطبقات التى أصابها ضررًا نتيجة السياسة الخارجية لروما خلال العصر الجمهورى .....

(أ) الأشراف.
(ب) المزارعون.
(ج) الفرسان.
(د) التجار.

٢ تكونت مدينة إسبرطة باندماج مجموعة من القوى ويمكن أن نستنتج حدوث ذلك كان عن طريق .....

(أ) القوة.
(ب) التفاوض.
(ج) التعاون.
(د) التصالح.

٣ «*برالوالدين دِين ودَين فالأول يأخذك للجنة والثانى يرده لك أبناؤك*».
فى ضوء العبارة السابقة : عقوق الأبناء للوالدين عقوبة نادى بها الملك .....

(أ) حمورابى.
(ب) سرجون الأول.
(ج) سرجون الثانى.
(د) سنحاريب.

٤ تأثر تاريخ بلاد العراق القديم إيجابًا من خلال حدوده الجغرافية .....

(أ) الشمالية.
(ب) الجنوبية.
(ج) الشرقية.
(د) الغربية.

٥ تم الاستعانة بالخبرة الأجنبية وجلب منتجات أفريقية إلى مصر فى عهد الملك .....

(أ) تحتمس الثالث.
(ب) رمسيس الثانى.
(ج) نخاو الثانى.
(د) سنفرو.

٦ كانت مسيرة الإسكندر الأكبر استكمالًا لمسيرة أبيه من حيث .....

(أ) نشر الثقافة الإغريقية.
(ب) القضاء على الفرس.
(ج) توسيع إمبراطوريته غربًا.
(د) محاربة إسبرطة وأثينا.

٧ «تتجه مصر الآن إلى تقوية علاقاتها بالدول الأفريقية» . فى ضوء العبارة السابقة :
نجح البطالمة فى حماية البُعد الاستراتيچى لمصر جنوبًا فى عهد الملك بطلميوس .....
(أ) الأول.
(ب) الثانى.
(جـ) الثالث.
(د) الرابع.

٨ «الثراء المادى يكون حافزًا للسيطرة على السلطة السياسية» .
تحققت المقولة السابقة بوضوح فى .....
(أ) آشور.
(ب) فينيقيا.
(جـ) إسبرطة.
(د) أكاد.

٩ أصبحت بلاد الرافدين فى أواخر تاريخها القديم منطقة تبادل نفوذ سياسى وعسكرى بين .....
(أ) السليوقيين والرومان.
(ب) الفرس والسليوقيين.
(جـ) الرومان والفرس.
(د) الرومان والإغريق.

١٠ وصلت المرأة فى العصر البطلمى لأعلى مكانة لها فى المجال .....
(أ) الاجتماعى.
(ب) الدينى.
(جـ) الاقتصادى.
(د) السياسى.

١١ «استمر الحكم الرومانى لمصر ما يقرب من سبعة قرون عانى فيها المصريون من الظلم والاضطهاد الكثير».
فى ضوء العبارة السابقة :
أظهرت علاقة المصريين بالاحتلال الرومانى .....
(أ) براعة العسكريين المصريين فى مقاومة الرومان.
(ب) تمسك الشعب المصرى بحريته واستقلاله.
(جـ) يأس المصريين من إجلاء الرومان عن مصر.
(د) تراجع دور رجال الدين فى مقاومة الاحتلال.

١٢ جاءت مشاركة الفينيقيين الملك المصرى تحتمس الثالث فى معركة مجدو تعبيرًا عن .....
(أ) نجاح فكرة التعاون مع مصر.
(ب) رغبتهم فى التخلص من الاستعمار الخارجى.
(جـ) رغبتهم فى استثمار موارد مصر.
(د) التزامهم بالمعاهدات السياسية بين البلدين.

ب اختر إجابتين صحيحتين من بين البدائل التالية :

١٣ عبر الفن القبطى فى مصر خلال حكم الرومان عن ..... و .....

(أ) استمرارية إبداعات الحضارة المصرية القديمة.

(ب) التأثر بقواعد الفن الإغريقى.

(جـ) تنوع مظاهر الثقافة والعمارة المصرية.

(د) إهمال الرومان للأعمال الفنية والأدبية.

(هـ) تركز العلوم والفنون فى مدينة الإسكندرية.

جـ أسئلة المقال :

١٤ أيد صحة العبارة التالية تاريخيًا :

ارتبط تعدد الآلهة عند العراقيين القدماء بالنظام السياسى القائم.

١٥ بم تفسر :

تميُز كاتو الرقيب عن غالبية مؤرخى الرومان القدماء ؟

١٦ حدد تقييمك لمصداقية العبارة الآتية :

استخدم الفينيقيين المعادن فى مختلف نواحى الحياة.

أسئلة تفاعلية

الامتحان الثامن عشر

● فهم ● تطبيق ● تحليل ● تقويم ● ابتكار

أ اختر الإجابة الصحيحة من بين البدائل التالية :

١ انتقلت السلطة الفعلية فى روما بعد القضاء على النظام الملكى إلى .....

(أ) مجلس الشيوخ.
(ب) نقباء العامة.
(جـ) جمعية القبائل.
(د) القنصلين.

٢ كانت الطبقة الأكثر نشاطًا من الناحية الاقتصادية فى بلاد العراق القديم هى الطبقة .....

(أ) العليا.
(ب) الوسطى.
(جـ) الأرستقراطية.
(د) العامة.

٣ ساهم الفينيقيون فى الكشوف الجغرافية فى عهد الملك الفرعونى .....

(أ) سنفرو.
(ب) نخاو.
(جـ) تحتمس الثالث.
(د) رمسيس الثانى.

٤ يدل النص المقابل على .....

المؤرخ استرابون
زار مصر فى أوائل العصر الرومانى وقد ذكر «أن صانعى الزجاج بالإسكندرية كانت لديهم أسرار خاصة بهذه الصناعة».

(أ) وفرة المواد الخام.
(ب) كفاءة وإتقان الصناع.
(جـ) التواصل الثقافى بين الفينيقيين ومصر.
(د) التواصل بين المصريين والإغريق.

٥ رغم تطور حضارات بلاد العراق القديم إلا أنها خلت من .....

(أ) السمو إلى توحيد الآلهة.
(ب) التواصل الحضارى مع مصر.
(جـ) الثراء الفكرى والمادى.
(د) الوحدة السياسية والعسكرية.

٦ أمامك صورة لأحد المعابد الرومانية التى تأثرت بالعمارة اليونانية والعمارة المصرية من خلال .....

الباثيون الرومانى

(أ) الشكل العام للمعبد.
(ب) عدد أعمدة المعبد.
(جـ) طراز الأعمدة.
(د) أفريز المعبد.

٧ جاء المواطنون الرومان إلى مصر خلال الحكم الرومانى لها بهدف .....

(أ) المشاركة فى الحكم.

(ب) استثمار أموالهم.

(جـ) نشر الديانة المسيحية.

(د) دراسة الحضارة المصرية.

٨ يُعد العامل الأساسى فى سقوط معظم الدول التى حكمت العراق القديم هو .....

(أ) الصراع الطبقى.

(ب) التدخل الخارجى.

(جـ) التناحر الدينى.

(د) الصراع الداخلى.

٩ استفاد الأباطرة الرومان بشكل شخصى من .....

(أ) موقع مصر الجغرافى.

(ب) الموروث الدينى المصرى.

(جـ) مكانة مصر السياسية.

(د) الفن المصرى القديم.

١٠ اختلفت سياسة بطلميوس الأول عن سياسة الإسكندر الأكبر بمصر فى .....

(أ) انتماءه للأسر النبيلة.

(ب) الخبرات السياسية والعسكرية.

(جـ) تنظيم الأمور المالية والإدارية بمصر.

(د) السعى لتكوين إمبراطورية مستقلة.

١١ انضمام بركليس حاكم أثينا إلى العامة كان يهدف من خلاله .....

(أ) السيطرة التامة على الدولة.

(ب) الاعتراف بأن العامة جزء من المجتمع.

(جـ) استغلال العامة للقضاء على الأشراف.

(د) مساعدة العامة له فى تنفيذ إصلاحاته.

١٢ يتم إبلاغ العامة بأوامر الحكومة فى روما من خلال اجتماع .....

(أ) القنصلان.

(ب) مجلس الشيوخ.

(جـ) جمعية القبائل.

(د) جمعية الأحياء.

ب اختر إجابتين صحيحتين من بين البدائل التالية :

١٣ «اضطر البطالمة فى عهد الملك بطلميوس الرابع إلى الاستعانة بالمصريين لتولى وظائف الدولة وتشكيل فرق المحاربين» . فى ضوء العبارة السابقة :

أدى استعانة البطالمة بالمصريين إلى ..... و .....

(أ) زيادة خبرات ومهارات المصريين.

(ب) تناقص هجرة الإغريق إلى مصر.

(جـ) انتقال المصريين إلى الطبقة الوسطى.

(د) تعلم المصريين لغة البطالمة.

(هـ) ضعف وانهيار دولة البطالمة.

جـ أسئلة المقال :

١٤ أيد تاريخيًا صحة العبارة التالية :

أثبتت الزراعة فى بلاد العراق القديم اختفاء فكرة الملكية المقدسة.

١٥ حدد العلاقة بين :

قوة الدولة، والتجارة الخارجية فى عصر الإمبراطورية الرومانية.

١٦ «كانت التجارة الخارجية للفينيقيين خير شاهد على حسن استثمار مواردهم» . وضح ذلك.

إرشـــادات للإجابـــة

الامتحان تاريخ - شرح / أولى ثانوى / ترم ثانٍ (م : ٢٧)

١ إرشادات لإجابات الوحدات

الوحدة الثالثة

الدرس الأول

١ جـ	٢ د	٣ جـ	٤ د	٥ د
٦ ب	٧ جـ	٨ ب	٩ أ	١٠ ب
١١ د	١٢ جـ	١٣ د	١٤ أ	١٥ جـ
١٦ جـ	١٧ أ	١٨ ب	١٩ جـ	٢٠ د
٢١ جـ	٢٢ د	٢٣ أ	٢٤ جـ	٢٥ د
٢٦ ب	٢٧ أ	٢٨ ب	٢٩ ب	٣٠ جـ
٣١ د	٣٢ جـ	٣٣ ب	٣٤ ب	٣٥ أ

٣٦ ب ، هـ

٣٧ يترك للطالب حرية الإجابة فى ضوء :

- سياسة الشدة والظلم والاستبداد وإهمال ثروات البلاد تؤدى إلى سخط الشعوب وثوراتهم.
- القوة وحدها لا تكفى لبناء دولة قوية واستمرارها.

٣٨ يترك للطالب حرية الإجابة فى ضوء :

- تميزت قوانين حمورابى بالشدة والصرامة وهو أمر يحتاجه المجتمع فى حالة انتشار الفوضى والجرائم.
- تنفيذ قوانين حمورابى أدى إلى الالتزام المهنى والأخلاق فى المجتمع كما أكدت على حرص الدولة على رعاياها.

٣٩ أدت هجرات الشعوب التى أتت من شبه الجزيرة العربية لبلاد العراق القديم واستقرارهم بها إلى قيام بعض الحضارات الكبرى، مثل : الأكادية والآشورية والبابلية الحديثة.

٤٠ جعل الآشوريين الخدمة العسكرية دائمة فى حين أنها كانت إلزامية أيام الحرب فقط قبل ذلك، وقد استفاد الملك سرجون الثانى من هذا وقام بتكوين جيش قوى سيطر به على بابل وكون إمبراطورية عظيمة.

٤١ صبغت القوانين بالصبغة الدينية فى بلاد العراق القديم وقد ظهر ذلك واضحًا فى مجموعة قوانين الملك حمورابى التى نُقشت على حجر صلب أعلاه صورة للملك حمورابى وهو يتلقى القوانين من إله الحكمة والعدل (شمش).

الدرس الثانى

١ ب	٢ جـ	٣ ب	٤ ب	٥ د
٦ أ	٧ جـ	٨ ب	٩ د	١٠ أ
١١ أ	١٢ ب	١٣ ب	١٤ د	١٥ أ
١٦ ب	١٧ أ	١٨ جـ	١٩ أ	٢٠ ب
٢١ جـ	٢٢ ب	٢٣ د	٢٤ جـ	٢٥ أ

٢٦ ب ، جـ ٢٧ أ ، د

٢٨ حيث أخذ الإغريق الأبجدية عن الفينيقيين بعد أن عدلوا فيها، ثم أورثوها للرومان الذين نشروها فى بقية الأقطار الأوروبية ومنها ظهرت الأبجدية الأوروبية الحديثة.

٢٩ كانت مدينة جُبيل على صلة وثيقة بمصر القديمة حيث :

- عثر بها على كثير من التماثيل المصرية القديمة وعلى أحجار عليها أسماء فراعنة مصريين.
- كان حكامها يكتبون أسمائهم بالهيروغليفية واتخذوا شعارًا ذا طابع مصرى لإمارتهم.
- كان يسكن بها جالية مصرية من التجار الذين تمكنوا من نشر الثقافة المصرية هناك لذلك كانت (بمثابة منطقة مصرية).

٣٠ يترك للطالب حرية الإجابة فى ضوء :

تستطيع مصر :

- استغلال موانئها لتكون هى المخرج لصادرات الدول الأفريقية الداخلية والبعيدة عن البحر المتوسط.
- أن تكون محطة ترانزيت بين السفن القادمة من جنوب شرق آسيا والذهاب إلى أوروبا.
- عمل أكبر سوق تجارى على مستوى القارة الأفريقية من خلال عرض المنتجات الأفريقية للأسواق الأوروبية والآسيوية.

٣١ حيث كانت :

- الحضارة الفينيقية : حضارة تجارية لوجودها على ساحل محدد تحيط به الجبال من الشرق مما أدى إلى اتجاههم إلى البحر والعمل بالتجارة وقد ساعدهم على ذلك كثرة تعاريج سواحلها المهيئة لنشأة الموانئ.
- الحضارة المصرية القديمة وحضارة بلاد العراق القديم : حضارة زراعية لتوافر الأنهار والتربة الخصبة بهما.

٣٢ حيث قام رجال الدين فى فينيقيا بمساعدة الحاكم أو الملك فى إدارة شئون الحكم وهو دورًا سياسيًا إلى جانب مهامهم الدينية.

امتحان تراكمى

١ د	٢ أ	٣ ب	٤ جـ	٥ د
٦ ب	٧ ب	٨ أ	٩ د	١٠ أ
١١ ب	١٢ د	١٣ ب ، د		

١٤ حيث كانت المدن الفينيقية الشرقية مستقلة عن بعضها من الناحية السياسية تهتم كل منها بمصالحها للتنافس السائد بينها، واعتمد الحكم فيها على النظام الملكى بينما قرطاجة التى تعد جزءًا من الحضارة الفينيقية اعتمدت على النظام الجمهورى.

١٥ كانت المدن السومرية مدنًا مستقلة عن بعضها لذلك سميت بدويلات المدن لكل منها معبود يعد حاكم المدينة الحقيقى والملك وكيله فى حكم البلاد وبذلك تعددت الآلهة.

١٦ - الأثر الإيجابى تمثل فى : التأثير والتأثر مع حضارات الشرق القديم (بلاد العراق ومصر الفرعونية) من خلال معابر التواصل الحضارى.
- الأثر السلبى تمثل فى : تعرضها للغزو الخارجى على مر العصور.

بنك أسئلة على الوحدة الثالثة

١ جـ	٢ أ	٣ جـ	٤ د	٥ ب
٦ أ	٧ جـ	٨ ب	٩ جـ	١٠ ب
١١ أ	١٢ ب	١٣ ب	١٤ د	١٥ أ
١٦ د	١٧ أ	١٨ ب	١٩ ب	٢٠ ب
٢١ جـ	٢٢ جـ	٢٣ ب	٢٤ د	٢٥ جـ
٢٦ ب	٢٧ أ	٢٨ د	٢٩ ب	٣٠ ب
٣١ أ	٣٢ جـ	٣٣ ب	٣٤ ب	٣٥ ب
٣٦ ب ، جـ		٣٧ ب ، هـ		
٣٨ أ ، جـ		٣٩ ب ، د		

٤٠ حيث قام الفينيقيون بتحويل سفوح جبال لبنان إلى مصاطب صالحة للزراعة وهو يتشابه مع أحد الإبداعات المعمارية الكلدانية المتمثلة فى حدائق بابل المعلقة (إحدى عجائب الدنيا السبع).

٤١ كان اختراع السومريون للكتابة المسمارية سببًا فى إضافة وظيفة جديدة للزاقورات (المعابد) بجانب وظيفتها الدينية وهى حفظ السجلات والعقود حيث استخدم السومريون الكتابة المسمارية فى تدوين الوثائق والسجلات.

٤٢ يرجع الفضل فى تشييد حدائق بابل المعلقة (إحدى عجائب الدنيا السبع) إلى الملك نبوخذ نصر الثانى أحد ملوك الدولة الحديثة.

٤٣ يترك للطالب حرية الإجابة فى ضوء :
- اهتمام سنحاريب بتعمير مدينة نينوى.
- تخريب سنحاريب لمدينة بابل.
- الابتعاد عن التعصب الفكرى والثقافى.

٤٤ بسبب سياسة الشدة والظلم والاستبداد التى اتبعها الملوك الآشوريين وإهمالهم لثروات البلاد مما أدى إلى سخط الشعوب الخاضعة لهم وقيامهم بثورات متكررة أدت إلى انهيار الدولة الآشورية.

٤٥ عرفت الحضارة الفرعونية فكرة استخدام الأختام الإسطوانية فى عمليات التبادل التجارى عن طريق حضارة جمدة نصر حيث عُثر فى منطقة جرزة بمحافظة الجيزة على أربعة أختام إسطوانية تنتمى إلى حضارتى الوركاء وجمدة نصر فى بلاد العراق القديم.

٤٦ العبارة صادقة : حيث استعان الملك المصرى نخاو ببحارة فينيقيين للدوران حول أفريقيا لاكتشاف أسواق جديدة واستمرت الرحلة لثلاث سنوات.

٤٧ حيث :
- افتقد الهرم الاجتماعى فى بلاد العراق القديم على العدالة الاجتماعية.
- عانت الطبقة الدنيا وتأثرت بحروب العراق القديم وسياسته الخارجية.
- عدم حل مشكلة الديون للطبقات الفقيرة.

٤٨ ساعد الموقع الجغرافى المتوسط لفينيقيا بين الشرق والغرب كثيرًا فى النقل التجارى بين الدول الكبرى القديمة مثل مصر وبلاد العراق القديم وبلاد اليونان مما أدى إلى نهوض التجارة الفينيقية حتى أصبحت المورد الأساسى للفينيقيين.

٤٩ العبارة غير صادقة :

حيث :

- شملت العلاقات المصرية الفينيقية فى عصر الدولة الحديثة العلاقات السياسية والعسكرية حيث اهتم ملوك الدولة الحديثة بإرسال العديد من الحملات العسكرية وإنشاء العديد من القلاع والحصون الحربية بفينيقيا لجعلها وحدة واحدة مع مصر.
- اشترك الفينيقيون مع الملك تحتمس الثالث فى معركة مجدو للقضاء على أعدائه.

٥٠ أشار حجر بالرمو أن الملك سنفرو (مؤسس الأسرة الرابعة) أرسل أسطولًا بحريًا مكون من ٤٠ سفينة لإحضار خشب الأرز من فينيقيا.

٥١ حيث اهتم الفينيقيون بالنواحى الاقتصادية التى تتواكب مع بيئتهم الطبيعية فـ :

- استطاعوا تحويل سفوح جبال لبنان إلى مصاطب صالحة للزراعة.
- اشتغلوا بالتجارة وذلك لوجود فينيقيا على ساحل محدد تحيط به الجبال من الشرق فتوجهوا نحو البحر طلبًا للرزق.

٥٢ تأثر الفينيقيون بأفكار المصريين ومعتقداتهم حيث ظهر ذلك فى :

- عادات الدفن حيث وضعوا الطعام والشراب مع المتوفى كدليل على تأثرهم بفكرة الاعتقاد فى البعث والحياة بعد الموت.
- تصوير الفينيقيين للصراع بين الخير والشر فى قصة الإله بعل وهى تشبه قصة إيزيس وأوزوريس مع الإله ست عند المصريين القدماء.

الوحدة الرابعة

الدرس الأول

١ (جـ)	٢ (ب)	٣ (ب)	٤ (أ)	٥ (د)
٦ (أ)	٧ (ب)	٨ (أ)	٩ (جـ)	١٠ (جـ)
١١ (د)	١٢ (د)	١٣ (د)	١٤ (أ)	١٥ (ب)
١٦ (أ)	١٧ (ب)	١٨ (جـ)	١٩ (د)	٢٠ (ب)
٢١ (ب)	٢٢ (ب)	٢٣ (د)	٢٤ (جـ)	٢٥ (ب)
٢٦ (د)	٢٧ (ب)	٢٨ (ب)	٢٩ (د)	

٣٠ (أ)، (جـ)

٣١ (ب)، (جـ)

٣٢ (ب)، (هـ)

٣٣ (أ)، (جـ)

٣٤ يترك للطالب حرية الإجابة فى ضوء :

أدت تلك الحروب إلى إضعاف المدن اليونانية، وتمكن الملك فيليب الثانى المقدونى من فرض حكمه بالقوة على بلاد اليونان كلها، وبذلك نجد أن كثرة الحروب تؤدى إلى ضعف الشعوب وعدم قدرتها على الدفاع عن نفسها.

٣٥ يترك للطالب حرية الإجابة فى ضوء :

الأدب يساعد على نشر ثقافة الدولة فى الدول الأخرى وزيادة روح الانتماء للوطن.

٣٦ يترك للطالب حرية الإجابة فى ضوء :

- عدم الإسراف.
- قيمة العمل.
- العدالة الاجتماعية.

٣٧ - الدافع الروحى : كان اليونانيون يعتقدون أن أسرة الآلهة تقيم فوق قمة جبل الأوليمبوس وأهم هذه الآلهة «زيوس» الذى يعد كبير الآلهة.

- الدافع الترفيهى : كانت تقام فى مدينة أوليمبيا مباريات رياضية واسعة النطاق تشترك فيها كل المدن اليونانية ومن اسم تلك المدينة سميت تلك المباريات بالألعاب الأوليمبية.

امتحان تراكمى

١ (أ)	٢ (ب)	٣ (أ)	٤ (جـ)	٥ (جـ)
٦ (أ)	٧ (د)	٨ (ب)	٩ (أ)	١٠ (ب)
١١ (أ)	١٢ (جـ)	١٣ (د)، (هـ)		

١٤ حيث طُبق النظام العسكرى فى كافة نواحى الحياة من أجل إعداد مواطنين قادرين على القتال وقد انعكس هذا النظام العسكرى فى التربية على كافة مجالات الحياة الاجتماعية وغيرها.

١٥ يترك للطالب حرية الإجابة فى ضوء :

- القوة العسكرية وحدها لا تصنع الاستقرار.
- الاهتمام بتنمية ثروات البلاد تحقيقًا للرفاهية.
- إقامة العدل بين الشعوب يحقق الأمن والاستقرار.

١٦ كان اهتمام إخناتون بنشر الدعوة الدينية الخاصة به (الدعوة إلى الوحدانية) سببًا فى ضياع نفوذ مصر فى سوريا.

الدرس الثانى

١ (ب)	٢ (أ)	٣ (ب)	٤ (جـ)	٥ (أ)
٦ (أ)	٧ (د)	٨ (أ)	٩ (جـ)	١٠ (ب)
١١ (د)	١٢ (ب)	١٣ (ب)	١٤ (جـ)	١٥ (جـ)
١٦ (د)	١٧ (أ)	١٨ (د)	١٩ (د)	٢٠ (د)
٢١ (ب)	٢٢ (ب)	٢٣ (أ)	٢٤ (د)	٢٥ (ب)
٢٦ (أ)	٢٧ (أ)	٢٨ (ب)، (هـ)		
٢٩ (أ)، (د)				

٣٠ يترك للطالب حرية الإجابة فى ضوء :

اتبع الإسكندر الأكبر سياسة حكيمة حيث سعى إلى إرضاء الشعب المصرى لكى يضمن عدم قيام ثورات المصريين ضده فقام بـ :

- إظهار ولاءه للمعبودات المصرية، وعلى رأسها الإله آمون.
- معاملة المصريين معاملة حسنة.

٣١ لأن بعد وفاة بطلميوس الرابع تولى بعده ابنه بطلميوس الخامس الذى لم يتجاوز عمره السابعة فانفرد أجاثوكليس بالوصاية عليه وأدار البلاد بما يحقق مصالحه الشخصية مما ترتب عليه انهيار البلاد اقتصاديًا وسياسيًا وفقدت معظم أملاكها الخارجية.

٣٢ يترك للطالب حرية الإجابة فى ضوء :

- الاهتمام بالموانئ القائمة بالفعل والتوسع فى إنشاء موانئ جديدة.
- التوسع فى إقامة ترسانات لبناء السفن.
- إنشاء مناطق صناعية على الطرق الملاحية الدولية التى تمر بمصر.
- الاهتمام بفتح أسواق جديدة.

٣٣ أقبل المصريون خلال عصر البطالمة على تعلم اللغة اليونانية مما جعلهم يشغلون بعض الوظائف فى الجهاز الإدارى بعدما أفسحت الدولة لهم المجال لتولى وظائف عليا كما تشكلت منهم فئة المحاربين.

٣٤ كانت كليوباترا السابعة تخطط لتصبح ملكة على روما فتحالفت مع ماركوس أنطونيوس إلا أنه هُزم فى معركة أكتيوم البحرية على يد القائد الرومانى أكتافيوس عام ٣١ ق.م وبهزيمته انتهت الدولة البطلمية بعد انتحار كليوباترا فأصبحت مصر تحت حكم الرومان.

امتحان تراكمى

١ (د)	٢ (أ)	٣ (ب)	٤ (جـ)	٥ (ب)
٦ (جـ)	٧ (د)	٨ (أ)	٩ (جـ)	١٠ (د)
١١ (أ)	١٢ (جـ)	١٣ (أ)، (ب)		

١٤ حيث قام رجال الدين فى فينيقيا بمساعدة الحاكم أو الملك فى إدارة شئون الحكم وهو دورًا سياسيًا إلى جانب مهامهم الدينية.

١٥ يترك للطالب حرية الإجابة فى ضوء :

- اعتماد المؤرخين الإغريق الأوائل على الأسطورة (المبالغة فى سرد الحقائق التاريخية).
- استخدام أسلوب شعر الملاحم وليس على الكتابة التاريخية المعتمدة على الحقائق وتحليلها.

١٦ العبارة غير صادقة :

لأن السومريون هم من اخترعوا الكتابة التى عُرفت بالكتابة المسمارية وقد استخدمها السومريون فى تدوين الوثائق والسجلات.

الدرس الثالث

١ (ب)	٢ (ب)	٣ (أ)	٤ (د)	٥ (جـ)
٦ (جـ)	٧ (ب)	٨ (جـ)	٩ (د)	١٠ (ب)
١١ (جـ)	١٢ (د)	١٣ (أ)	١٤ (جـ)	١٥ (ب)
١٦ (جـ)	١٧ (د)	١٨ (جـ)	١٩ (جـ)	٢٠ (جـ)
٢١ (جـ)	٢٢ (ب)	٢٣ (جـ)	٢٤ (أ)	٢٥ (أ)
٢٦ (د)	٢٧ (أ)	٢٨ (ب)	٢٩ (جـ)	
٣٠ (ب)، (جـ)				

٣١ يترك للطالب حرية الإجابة فى ضوء :

- اجتماعيًا : معاناة المجتمع الرومانى من هذه الحروب خاصة التجار والحرفيون والعبيد الذين عاشوا حياة اقتصادية صعبة نتيجة طول مدة الحرب والتى استمرت لمدة مائة عام.
- اقتصاديًا : فتح أسواق جديدة بعد انتصار روما على قرطاجة وسيطرتها على شمال غرب أفريقيا.

٣٢ يترك للطالب حرية الإجابة فى ضوء :
خطوة إيجابية من الرومان للاستفادة من خبرات أهالى قرطاجة التجارية الموروثة منذ أن كانت مستعمرة فينيقية والتى أدت إلى ازدهار النشاط التجارى للإمبراطورية الرومانية.

٣٣ - دور الأرستقراطيين فى النظام الملكى :
تكون مجلس الشيوخ من الأرستقراطيين الذى كان مجلسًا استشاريًا للملك.
- دور الأرستقراطيين فى النظام الجمهورى :
تكون مجلس الشيوخ من الأرستقراطيين الذى كان يقوم بإدارة شئون البلاد السياسية والتشريعية والاقتصادية والعسكرية.

٣٤ حيث كانت التجارة فى العصر الملكى قاصرة على تبادل البضائع والسلع بين الأقاليم الرومانية (داخل إيطاليا)، بينما زادت ونشطت فى العصر الإمبراطورى على يد أغسطس خاصة بعد أن أصبح البحر المتوسط طريقًا داخليًا للربط بين الولايات الرومانية.

امتحان تراكمى

١ جـ	٢ ب	٣ د	٤ أ	٥ د
٦ جـ	٧ جـ	٨ د	٩ جـ	١٠ جـ
١١ ب	١٢ جـ	١٣ ب ، هـ		

١٤ أدى اهتمام البطالمة بالعلوم المختلفة ومنها علم التاريخ إلى تمكن المؤرخ المصرى مانيتون من كتابة تاريخ مصر القديم باللغة اليونانية فقسم تاريخ مصر الفرعونية إلى ثلاثين أسرة وهو التقسيم المتبع فى عصرنا الحالى.

١٥ بسبب ما عرف عنه من القوة والصلابة فى حكم البلاد والكفاءة العسكرية والإدارية.

١٦ العبارة صادقة :
حيث طبق البطالمة نظام الاحتكار فى مصر فكانت الدولة تسيطر على أهم نواحى الحياة الاقتصادية.

الدرس الرابع

١ جـ	٢ ب	٣ جـ	٤ د	٥ جـ
٦ ب	٧ جـ	٨ ب	٩ ب	١٠ د

١١ ب	١٢ د	١٣ جـ	١٤ ب	١٥ جـ
١٦ أ	١٧ أ	١٨ جـ	١٩ د	
٢٠ ب ، د	٢١ أ ، جـ			

٢٢ حيث نتج عن قيام الثورات والاضطرابات فى مدينة الإسكندرية قيام الرومان بتدميرها عدة مرات بما فيها دار العلم والمكتبة.

٢٣ يترك للطالب حرية الإجابة فى ضوء :
- الصناعات الزجاجية لوفرة رمال الصحارى.
- صناعة العقاقير الطبية لوفرة الأعشاب والنباتات الطبية.
- صناعة المنسوجات خاصة القطنية لوفرة القطن.

٢٤ حيث انتشر الأدب القبطى الذى اتخذ شكل مواعظ تتعلق بالأمور الدينية، مثل :
- قصص القديسين.
- تراجم (سير) شهداء الأقباط.

٢٥ حيث أصدر عمرو بن العاص :
- خطاب أمان للبابا بنيامين الذى كان مختبئًا بأديرة وادى النطرون وصعيد مصر لمدة ١٣ عام من الاضطهاد الرومانى (البيزنطى) فعاد البابا للنشاط الدينى.
- أمر باسترداد جميع الكنائس التى استولى عليها الروم خاصة فى الإسكندرية.

٢٦ حيث تسامحوا مع المعتقدات والمعبودات المصرية القديمة والبطلمية ولكن مع اعتناق المصريين للمسيحية بدأ الاضطهاد الرومانى لرفضهم تقديس صور الأباطرة الرومان.

امتحان تراكمى

١ أ	٢ ب	٣ د	٤ أ	٥ د
٦ ب	٧ أ	٨ د	٩ ب	١٠ جـ
١١ ب	١٢ ب	١٣ أ ، هـ		

١٤ لأن المساواة التى أقرها القانون الرومانى بين الأشراف والعامة كانت مساواة شكلية فقد ظل العامة يميلون إلى انتخاب مرشحين ينتمون لأسر من الأشراف.

١٥ حيث مارس سكان مصر التجارة الداخلية بكل حرية فى عصر الرومان بينما كان البطالمة يتبعون نظام الاحتكار من خلال مراقبة الأسواق والتدخل فى تحديد الأسعار.

١٦ العبارة صادقة، لأنها :

- جعلت الحقوق الانتخابية والتشريعية للأحرار فقط ولا يجوز للعبيد أو الأجانب الاشتراك فيها.
- حرمت النساء من مباشرة حقوقهن السياسية والتشريعية.

بنك أسئلة على الوحدة الرابعة

١ (جـ)	٢ (ب)	٣ (د)	٤ (ب)	٥ (د)
٦ (ب)	٧ (أ)	٨ (ب)	٩ (جـ)	١٠ (أ)
١١ (ب)	١٢ (جـ)	١٣ (د)	١٤ (أ)	١٥ (أ)
١٦ (أ)	١٧ (أ)	١٨ (ب)	١٩ (أ)	٢٠ (جـ)
٢١ (د)	٢٢ (ب)	٢٣ (جـ)	٢٤ (جـ)	٢٥ (أ)
٢٦ (جـ)	٢٧ (د)	٢٨ (أ)	٢٩ (ب)	٣٠ (جـ)
٣١ (ب)	٣٢ (د)	٣٣ (ب)	٣٤ (أ)	٣٥ (ب)
٣٦ (أ)	٣٧ (أ)	٣٨ (جـ)	٣٩ (جـ)	٤٠ (جـ)
٤١ (د)	٤٢ (أ)	٤٣ (جـ)	٤٤ (أ)	٤٥ (ب)
٤٦ (أ)	٤٧ (ب)	٤٨ (د)	٤٩ (أ)، (ب)	
٥٠ (أ)، (جـ)		٥١ (ب)، (د)		
٥٢ (أ)، (د)				

٥٣ حيث كان للجمعية الشعبية (ممثلة الأمة) فى إسبرطة دورها فى التصويت بالرفض أو القبول على القوانين التى يعرضها مجلس الشيوخ، وكان ينتخب الرقباء الشعبيون كممثلين للسلطة التنفيذية والقضائية.

٥٤ لأنه كان يهدف إلى :

- القضاء على دولة الفرس العدو الأول للإغريق وتكوين إمبراطورية مقدونية.
- الاستفادة من الإنجاز الحضارى لحضارات الشرق القديم.
- تكوين حضارة جديدة تجمع مزايا الحضارات الشرقية والحضارة اليونانية.

٥٥ العبارة غير صادقة : حيث طبق البطالمة نظام الاحتكار على الحياة الاقتصادية بهدف إقامة اقتصاد قوى يجعل الدولة قوية مما يساعدها على التأثير فى سياسات العالم.

٥٦ - فى العهد الملكى :

كانت جمعية الأحياء تجتمع بأمر الملك لمناقشة أمور تهم الشعب.

- فى العهد الجمهورى :

كانت جمعية القبائل تنعقد بناءً على دعوة أحد نقباء العامة.

٥٧ لأن حكم البطالمة قام على الحكم الملكى الذى ورثوه عن الملوك الفراعنة القائم على حق الملك فى تملك كل شىء فى مصر وله كل السلطات التشريعية والتنفيذية والقضائية والدينية ويساعده فى الحكم وزير المالية وكبير القضاة.

٥٨ حيث اعتبر المصريون الإمبراطور الرومانى هو الوريث الشرعى للملك الفرعونى والبطلمى فقد استبدلوا عبادة الملوك الفراعنة بعبادة الأباطرة الرومان.

٥٩ حيث انقسمت الإمبراطورية الرومانية عام ٣٩٥م إلى قسمين الإمبراطورية الرومانية الغربية والتى سقطت على يد البربر عام ٤٧٦م، والإمبراطورية الرومانية الشرقية (الدولة البيزنطية) والتى سقطت فيما بعد على يد العثمانيين عام ١٤٥٣م.

٦٠ حيث :

- عاش التجار والحرفيون حياة اقتصادية صعبة فقد تضرروا من كثرة حروب روما.
- ازداد العبيد الذين فقدوا كافة حقوقهم الاجتماعية والسياسية وشكلوا أزمة حقيقية داخل المجتمع الرومانى.

٢ إرشادات لإجابات الأسئلة الاسترشادية

١ (ب)	٢ (أ)	٣ (ب)	٤ (د)	٥ (ب)
٦ (أ)	٧ (ب)	٨ (د)	٩ (ب)	١٠ (أ)
١١ (د)	١٢ (ب)	١٣ (جـ)	١٤ (ب)	١٥ (ب)
١٦ (أ)	١٧ (أ)	١٨ (جـ)	١٩ (جـ)	٢٠ (ب)
٢١ (ب)	٢٢ (جـ)	٢٣ (ب)	٢٤ (جـ)	٢٥ (جـ)
٢٦ (أ)	٢٧ (جـ)	٢٨ (جـ)	٢٩ (أ)	٣٠ (د)
٣١ (جـ)	٣٢ (د)			

٣٣ حيث اختلف موقف الأباطرة الرومان من المسيحية كالتالى :

- الإمبراطور نيرون :

زاد اضطهاد المسيحية فى عهده إلى حد كبير.

- الإمبراطور دقلديانوس :

سُمى عصره بعصر الشهداء لما تعرض له المصريين من اضطهاد.

- الإمبراطور قسطنطين :

أعطى الحرية الدينية للمسيحيين.

- الإمبراطور ثيؤدوسيوس :

اعترف بالمسيحية ديانة رسمية للدولة.

٣٤ كان معبد البارثنون بأثينا وما به من أعمدة دورية ذات أصول مصرية دليلًا على التأثر بالفن المصرى القديم الذى يعد بمثابة القاعدة التى قام عليها الفن اليونانى.

٣٥ - لم تكون العراق إمبراطوريات واسعة.

- لاستمرت حضارة العراق لفترة طويلة من الزمن دون انقطاع.

لمتابعة كل ما هو جديد من إصداراتنا

زوروا صفحتنا على الفيسبوك

/alemte7anbooks



سلسلة كتب الامتحان

إرشادات لإجابات الامتحانات

الامتحان الأول

١ (أ)	٢ (جـ)	٣ (ب)	٤ (جـ)	٥ (ب)
٦ (أ)	٧ (جـ)	٨ (أ)	٩ (د)	١٠ (جـ)
١١ (ب)	١٢ (أ)	١٣ (د)، (هـ)		

١٤ حيث شملت :

- علاقات عسكرية تمثلت فى : استعانة ملوك الأسرة الـ٢٦ فى العصر المتأخر بالجنود اليونانيون للعمل كمرتزقة فى الجيش المصرى.
- علاقات اقتصادية تمثلت فى : التجار اليونانيين الذين وفدوا إلى مصر وأسسوا مدن على الطراز الإغريقى كما وفد إليها الفنانون والصناع اليونانيون حيث ارتقت صناعة الزجاج والأوانى الفخارية.

١٥ نتج عن ذلك تخريب الملك الآشورى سنحاريب لمدينة «بابل» فى حين قام بتعمير مدينة نينوى.

١٦ عرفت الحضارة الفرعونية فكرة استخدام الأختام الإسطوانية فى عمليات التبادل التجارى عن طريق حضارة جمدة نصر حيث عُثر فى منطقة جرزة بمحافظة الجيزة على أربعة أختام إسطوانية تنتمى إلى حضارتى الوركاء وجمدة نصر فى بلاد العراق القديم.

الامتحان الثانى

١ (جـ)	٢ (جـ)	٣ (د)	٤ (أ)	٥ (ب)
٦ (جـ)	٧ (أ)	٨ (أ)	٩ (ب)	١٠ (د)
١١ (أ)	١٢ (جـ)	١٣ (ب)، (جـ)		

١٤ أدت كثرة الحروب فى بلاد العراق القديم إلى زيادة أعداد الطبقة الوسطى من صغار الضباط والجنود كما زاد عدد أسرى الحروب والعبيد فى الطبقة الدنيا.

١٥ لأن رجال الدين احتلوا مكانة فى الطبقة العليا فى فينيقيا وكان لهم دورًا فى إدارة الحكم بينما فى روما لم يكن لرجال الدين طبقة مميزة عن غيرهم من طبقات المجتمع.

١٦ حيث فقد أعضاء مجلس السناتو مكانتهم السياسية التى تمتعوا بها فى العصر الجمهورى والدليل على ذلك حظر أى شخص من أعضاء السناتو دخول مصر إلا بأذن من الإمبراطور مباشرة.

الامتحان الثالث

١ (أ)	٢ (ب)	٣ (جـ)	٤ (أ)	٥ (ب)
٦ (ب)	٧ (أ)	٨ (جـ)	٩ (أ)	١٠ (ب)
١١ (د)	١٢ (د)	١٣ (جـ)، (هـ)		

١٤ حيث تم تخليد قصة تأسيس روما من خلال أعظم الشعراء الرومان «فرجيل» كما تحدث المؤرخ الرومانى كاتو الرقيب أيضًا عن تأسيس روما.

١٥ ظهر تأثر الفن اليونانى بالفن المصرى القديم فى مجال العمارة من خلال معبد البارثنون وما به من أعمدة دورية ذات أصول مصرية.

١٦ سيؤدى ذلك إلى الوحدة السياسية لبلاد العراق تحت زعامة مدينة سومر.

الامتحان الرابع

١ (ب)	٢ (أ)	٣ (جـ)	٤ (د)	٥ (ب)
٦ (جـ)	٧ (أ)	٨ (د)	٩ (أ)	١٠ (جـ)
١١ (ب)	١٢ (جـ)	١٣ (أ)، (هـ)		

١٤ اختلفت مكانة التجار الاجتماعية فى فينيقيا حيث مثلوا عنصر من عناصر الطبقة العليا، بينما مثل التجار فى بلاد العراق عنصر ضمن عناصر الطبقة الوسطى.

١٥ كان الثراء الاقتصادى لبعض الأوروبيين سببًا فى اتجاههم لمصر فى العصرين البطلمى والرومانى حيث :

- حرص ملوك البطالمة على تكوين دولة بطلمية حديثة والاستعانة بأعوان مخلصين لهم من الإغريق لما يتوافر لديهم من رءوس أموال.
- قدم المواطنون الرومان إلى مصر فى العصر الرومانى لغناهم الاقتصادى.

١٦ العبارة صادقة : حيث أدت تلك الحروب إلى إضعاف المدن اليونانية، وتمكن الملك فيليب الثانى المقدونى من فرض حكمه بالقوة على بلاد اليونان كلها وتوحيدها تحت حكمه.

الامتحان الخامس

١ د	٢ أ	٣ ب	٤ أ	٥ جـ
٦ أ	٧ ب	٨ أ	٩ د	١٠ ب
١١ جـ	١٢ أ	١٣ أ ، د		

١٤ حيث انتشر الأدب القبطى الذى اتخذ شكل مواعظ تتعلق بالأمور الدينية، مثل :
- قصص القديسين.
- تراجم (سير) شهداء الأقباط.

١٥ حيث أمر الملك بطلميوس الثالث أثناء انخفاض منسوب النيل بإسقاط الضرائب المفروضة على الأهالى وفتح صوامع الغلال الحكومية لهم فلقب بالخير أو الصالح.

١٦ أدت سياسة الملك إخناتون وانشغاله بنشر دعوته الدينية إلى ضياع النفوذ المصرى فى سوريا تقريبًا مما دفع الحيثيون إلى السيطرة على هذه المناطق ولذلك اعتمد الملك رمسيس الثانى على القوة العسكرية لمواجهة أطماع الحيثيين فقاد معركة قادش عام ١٢٧٤ ق.م دفاعًا عن الإمبراطورية المصرية.

الامتحان السادس

١ أ	٢ أ	٣ ب	٤ د	٥ جـ
٦ د	٧ جـ	٨ د	٩ جـ	١٠ أ
١١ د	١٢ أ	١٣ د ، هـ		

١٤ يترك للطالب حرية الإجابة فى ضوء :
- الاهتمام بالموانئ القائمة بالفعل، وإنشاء موانئ جديدة.
- إقامة ترسانات لبناء السفن.
- إنشاء مناطق صناعية على الطرق الملاحية الدولية التى تمر بمصر.
- الاهتمام بفتح أسواق جديدة.

١٥ بسبب قيام الرومان بـ :
- فرض أكثر من ٢٠٠ نوع من الضرائب على المصريين وحرمانهم من كل حقوقهم القانونية مما كان سببًا فى احتلال المصريين لقاعدة الهرم الاجتماعى لكثرة الأعباء الضريبية.
- استحداث نظام الخدمات الإلزامية وهى أعمال تفرض على الأهالى بدون مقابل.

١٦ - لم يستطع الجيش تحقيق انتصارات كثيرة.
- لم ينجح الملوك الأقوياء فى تكوين إمبراطوريات واسعة.

الامتحان السابع

١ جـ	٢ د	٣ أ	٤ جـ	٥ ب
٦ جـ	٧ ب	٨ أ	٩ د	١٠ ب
١١ د	١٢ د	١٣ ب ، د		

١٤ حيث :
- اشترك الفينيقيون مع المصريون فى معركة مجدو فى عهد الملك تحتمس الثالث.
- عقد الملك رمسيس الثانى معاهدة مع ملك الحيثيين وبذلك تم تعزيز النفوذ المصرى فى سوريا.

١٥ لم يدم ازدهار منشآت الإسكندرية العلمية والثقافية طويلًا حيث قام الرومان بتدمير المدينة عدة مرات بما فيها دار العلم والمكتبة نتيجة ثورات المصريين والاضطرابات بها.

١٦ حيث يعد عهده بداية لمرحلة التدهور لحكم البطالمة فقد انتهت مرحلة القوة والازدهار وبدأت مرحلة الضعف والانهيار.

الامتحان الثامن

١ ب	٢ جـ	٣ ب	٤ جـ	٥ ب
٦ جـ	٧ د	٨ جـ	٩ ب	١٠ د
١١ ب	١٢ جـ	١٣ أ ، ب		

١٤ انفرد أجاثوكليس بالوصاية على بطلميوس الخامس وأدار البلاد بما يحقق مصالحه الشخصية مما ترتب عليه انهيار البلاد سياسيًا واقتصاديًا ففقدت الدولة البطلمية معظم أملاكها الخارجية.

١٥ يترك للطالب حرية الإجابة فى ضوء :
- زيادة وعى الشعب لكى يحافظ على حقوقه.
- العدالة الاجتماعية تحقق الاستقرار والأمن.
- الديمقراطية والحرية تؤدى إلى التقدم والازدهار.

١٦ بسبب تعدد طرق ومعابر التواصل الحضارى مع مصر والتى تتمثل فى :
- طريق شبه جزيرة سيناء.
- طريق ساحل البحر المتوسط.
- طريق ساحل البحر الأحمر.

الامتحان التاسع

١ (د)	٢ (د)	٣ (جـ)	٤ (ب)	٥ (جـ)
٦ (أ)	٧ (جـ)	٨ (أ)	٩ (جـ)	١٠ (جـ)
١١ (ب)	١٢ (جـ)	١٣ (جـ)، (د)		

١٤ - تحديد مدة حكم القنصلين بعام واحد.
- منح مجلس الشيوخ سلطات واسعة سياسيًا وتشريعيًا واقتصاديًا وعسكريًا.

١٥ حيث عانى الفينيقيون من صغر مساحة الأراضى الزراعية المتاحة فكان عليهم استغلال كل المساحات التى يمكن زراعتها واستطاعوا تحويل سفوح جبال لبنان إلى مصاطب صالحة للزراعة.

١٦ يترك للطالب حرية الإجابة فى ضوء :
- زيادة الاهتمام بالتعليم والبحث العلمى.
- تفعيل دور مكتبة الإسكندرية العلمى والثقافى.
- عقد المؤتمرات العلمية المتخصصة فى كافة المجالات.

الامتحان العاشر

١ (د)	٢ (جـ)	٣ (جـ)	٤ (أ)	٥ (د)
٦ (ب)	٧ (ب)	٨ (أ)	٩ (د)	١٠ (ب)
١١ (أ)	١٢ (د)	١٣ (ب)، (د)		

١٤ لأنهم كانوا أصحاب رؤوس أموال ويعملون فى التجارة والبنوك والمراباة.

١٥ انتهى حكم البطالمة بعد هزيمة كليوباترا السابعة وحليفها أنطونيوس على يد القائد الرومانى أكتافيوس فى معركة أكتيوم البحرية عام ٣١ ق.م.

١٦ قام دقلديانوس بإصدار مرسوم بهدم الكنائس وحرق الكتب المقدسة وإعدام كل من يتبع التعاليم المسيحية، ولكن كان قسطنطين على النقيض تمامًا فقد أصدر مرسومًا عرف بمرسوم ميلان ٣١٣ م الذى أعطى الحرية الدينية للمسيحيين.

الامتحان الحادى عشر

١ (د)	٢ (ب)	٣ (أ)	٤ (جـ)	٥ (جـ)
٦ (ب)	٧ (جـ)	٨ (جـ)	٩ (أ)	١٠ (د)
١١ (د)	١٢ (جـ)	١٣ (ب)، (جـ)		

١٤ - لازدهرت الحياة الاقتصادية فى عهدهم.
- لم تسخط الشعوب الخاضعة لهم ولم تقم بثورات متكررة ضدهم.
- لم تنهار الإمبراطورية الآشورية واستمرت زمنًا طويلًا.

١٥ يترك للطالب حرية الإجابة فى ضوء :
- التوسع فى إقامة الموانئ على سواحل البحرين الأحمر والمتوسط.
- إقامة مراكز صيانة ودعم للسفن فى قناة السويس.
- التوسع فى إقامة الفنادق والقرى السياحية.

١٦ تعتبر شبه الجزيرة العربية المصدر الذى جدد دماء العراق القديم حيث قَدِمَ منها : الأكاديون والبابليون والآشوريون وأسسوا بها حضارات عظيمة.

الامتحان الثانى عشر

١ (جـ)	٢ (د)	٣ (جـ)	٤ (د)	٥ (جـ)
٦ (د)	٧ (أ)	٨ (جـ)	٩ (أ)	١٠ (جـ)
١١ (ب)	١٢ (د)	١٣ (أ)، (هـ)		

١٤ اشتركت المدن الفينيقية مع الملك تحتمس الثالث فى معركة مجدو للقضاء على أعداء الملك.

١٥ العبارة صادقة :
حيث كان من أهم نتائج معركة أكتيوم البحرية هزيمة ماركوس أنطونيوس وانتحاره وعندما علمت كليوباترا بهذا انتحرت عام ٣٠ ق.م وبذلك انتهت الدولة البطلمية وأصبحت مصر تحت الحكم الرومانى المباشر.

١٦ حيث قام الرومان بتعديل تقويمهم القديم الذى كان يقسم السنة إلى عشرة أشهر ليصبح كالتقويم المصرى القديم الذى يتكون من اثنى عشر شهرًا لأنه التقويم الأهم الذى يعتمد على السنة الشمسية التى تتكون من ٣٦٥ يوم وربع اليوم.

الامتحان الثالث عشر

١ (أ)	٢ (ب)	٣ (ب)	٤ (د)	٥ (ب)
٦ (أ)	٧ (ب)	٨ (ب)	٩ (ب)	١٠ (أ)
١١ (أ)	١٢ (د)	١٣ (أ)، (جـ)		

١٤ - الفكرى : حيث عُرفت أثينا بنظامها الديمقراطى وحرية الفكر والإبداع فأصبحت رائدة بلاد اليونان فى الفنون والآداب والعمارة خلال القرنين الخامس والرابع ق.م.

- المادى : حيث تميزت بتنوعها الجغرافى الذى أدى إلى اختلاف نشاط السكان واختلاف مستوياتهم الاجتماعية.

١٥ حيث استغل الفينيقيون كل المساحات التى يمكن زراعتها واستطاعوا تحويل سفوح جبال لبنان إلى مصاطب صالحة للزراعة وهو ما تشابه مع الكلدانيين فى العراق الذين قاموا بزراعة حدائق بابل المعلقة.

١٦ حيث كانت الملكية الزراعية فى روما قائمة على الملكية الفردية وقد امتلكت الطبقة الأرستقراطية مساحات واسعة من الأراضى الزراعية وذلك بخلاف الوضع فى مصر القديمة حيث كان فرعون صاحب الملكية العامة للأرض.

الامتحان الرابع عشر

١ (أ)	٢ (ب)	٣ (جـ)	٤ (د)	٥ (جـ)
٦ (د)	٧ (ب)	٨ (أ)	٩ (د)	١٠ (د)
١١ (د)	١٢ (جـ)	١٣ (أ)، (د)		

١٤ العبارة صادقة، حيث قام البطالمة بمنح :

- أراضى الهبات :

لكبار موظفيهم.

- أراضى الإقطاعات العسكرية :

للجنود المرتزقة من الإغريق.

- الأراضى المقدسة :

للمعابد والكهنة تقربًا لرجال الدين.

- أراضى المدن :

تم تخصيصها للمدن اليونانية داخل مصر.

١٥ أدى اختراع السومريين الكتابة المسمارية واستخدموها فى تدوين الوثائق والسجلات مما حفظ الكثير من جوانب الحضارة العراقية بمجالاتها المختلفة.

١٦ حيث يقوم النظام الجمهورى على أساس تقسيم السلطات وتوزيعها بين هيئات متعددة ولكن هذا النظام لم يطبق فى روما إلا شكليًا حيث وضعت إدارة شئون البلاد السياسية والتشريعية والاقتصادية والعسكرية فى يد مجلس الشيوخ فقط.

الامتحان الخامس عشر

١ (جـ)	٢ (د)	٣ (ب)	٤ (جـ)	٥ (ب)
٦ (د)	٧ (جـ)	٨ (أ)	٩ (ب)	١٠ (ب)
١١ (أ)	١٢ (د)	١٣ (ب)، (جـ)		

١٤ حيث قدس الرومان المعبود «جوبيتر» كبير المعبودات عندهم والذى كان يمثل السماء الصافية كما قدس العراقيون المعبود «أنو» كبير المعبودات عندهم وكان يمثل السماء أيضًا.

١٥ اخترع المصريون القدماء فكرة أول كتابة فى التاريخ ثم اقتبسها منهم الفينيقيون وابتكروا أول أبجدية عرفها العالم فى القرن الـ ١٤ ق.م ثم أخذها عنهم الإغريق ثم أورثوها للرومان الذين نشروها فى بقية الأقطار الأوروبية القديمة ومنها خرجت الأبجدية الأوروبية الحديثة.

١٦ لأن من خلال نظام الاحتكار سيطر البطالمة على الزراعة والصناعة والتجارة بهدف إقامة اقتصاد قوى يجعل الدولة قوية مما يساعد على التأثير فى سياسات العالم.

الامتحان السادس عشر

١ (د)	٢ (ب)	٣ (أ)	٤ (أ)	٥ (ب)
٦ (جـ)	٧ (أ)	٨ (د)	٩ (د)	١٠ (جـ)
١١ (أ)	١٢ (ب)	١٣ (ب)، (د)		

١٤ - خبرة ومهارة المصريين التى توارثوها عبر الأجيال.

- وفرة الأيدى العاملة.

- وفرة وتنوع المواد الخام.

- اهتمام الرومان بالصناعات التى أتقنها المصريين.

١٥ حيث حكم البطالمة مصر من خلال الحكم الملكى الذى ورثوه عن الملوك الفراعنة وقام هذا الحكم على أن الملك له :

- الحق فى تملك كل شىء فى مصر.
- كل السلطات التشريعية، التنفيذية، القضائية، والدينية.

١٦ اشتهر سكان بلاد العراق القديم بالكثير من الصناعات التى ترتبط بالنشاط الزراعى مثل صناعة المنسوجات وأدوات الزراعة.

الامتحان السابع عشر

١ (د)	٢ (أ)	٣ (أ)	٤ (ب)	٥ (جـ)
٦ (ب)	٧ (ب)	٨ (جـ)	٩ (جـ)	١٠ (د)
١١ (ب)	١٢ (أ)	١٣ (أ)، (جـ)		

١٤ حيث تكون النظام السياسى فى بلاد العراق القديم من دويلات صغيرة عرفت بدويلات المدن وكان المعبود هو الحاكم الحقيقى لكل مدينة فأصبح لكل مدينة (دويلة) إله خاص بها مما ساهم فى تعدد الآلهة.

١٥ لأنه أول مؤرخ رومانى كتب بالنثر اللاتينى وصاحب مؤلف «الأصول» فى التاريخ والذى تحدث فيه عن تأسيس مدينة روما.

١٦ قام الفينيقيون بـ :

- صناعة أدوات الزينة من الذهب والفضة والأحجار الثمينة.
- تزيين أعمدة القصور بالفضة.
- صناعة الأسلحة من البرونز والفضة والذهب والحديد.

ويدل ذلك على مهارتهم وإتقانهم فى استخدام المعادن فى مختلف نواحى الحياة.

الامتحان الثامن عشر

١ (أ)	٢ (ب)	٣ (ب)	٤ (ب)	٥ (أ)
٦ (جـ)	٧ (ب)	٨ (د)	٩ (ب)	١٠ (جـ)
١١ (ب)	١٢ (جـ)	١٣ (أ)، (د)		

١٤ حيث كانت ملكية الأرض فى العراق للأفراد بخلاف الوضع فى مصر القديمة التى كان الفرعون صاحب الملكية العامة للأراضى باعتباره ملكًا وفرعونًا وإلهًا.

١٥ لقد تسببت هيمنة الإدارة المركزية فى روما على الإمبراطورية فى الداخل والخارج وقدرة الدولة على تأمين الملاحة البحرية بفضل قوة الأسطول الرومانى فى ازدياد النشاط التجارى فى العصر الإمبراطورى فى روما.

١٦ حيث لم يقتصر الفينيقيون فى تجارتهم على تصدير المواد الخام مثل : الأخشاب من جبل لبنان أو المعادن من أقصى الغرب أو أصباغهم الأرجوانية المشهورة ولكنهم تاجروا أيضًا فيما كانوا يصنعونه من منسوجات دقيقة وأوانى ومصنوعات معدنية ومصنوعات من مواد خام أخرى.

متابعة كل ما هو جديد من إصداراتنا

زوروا صفحتنا على الفيسبوك

/alemte7anbooks

سلسلة كتب الامتحان

الفهـــرس

الموضـــــوع		الصفحة
الوحـدة الثالثة: حضارة بلاد العراق القديم وحضارة فينيقيا.		٩
	الدرس الأول: حضارة بلاد العراق القديم.	١٠
	الدرس الثانى: حضارة فينيقيا.	٢٩
	• بنك أسئلة على الوحدة الثالثة.	٥٠
الوحـدة الرابعة: حضارة اليونان وحضارة الرومان.		٥٨
	الدرس الأول: الحضارة اليونانية «الإغريقية» رائدة الفكر والثقافة الغربية.	٥٩
	الدرس الثانى: مصر تحت حكم البطالمة.	٧٩
	الدرس الثالث: الحضارة الرومانية.	١٠١
	الدرس الرابع: مصر تحت حكم الرومان.	١٢١
	• بنك أسئلة على الوحدة الرابعة.	١٣٩
أسئلة استرشادية (من الكتاب المدرسى).		١٤٨
امتحانات نهاية الفصل الدراسى الثانى.		١٥٤
إرشادات للإجابة.		٢٠٩

تصريح وزارة التربية والتعليم رقم (١٠٤ - ١٢ - ١ - ١٢١)

الآن بجميع المكتبات

سلسلة كتب

الامتحان

فى :

- الفيزياء
- الكيمياء
- الأحياء
- الجغرافيا
- اللغة العربية
- مبادئ التفكير الفلسفى والعلمى

التاريخ 2022

- أدخل كودك الشخصى الموجود على ظهر الغلاف
- لمزيد من المعلومات انظر صفحتى ٤، ٥

كتب الامتحان

لا يخرج عنها أى امتحان

الدولية للطبع والنشر والتوزيع

الفجالة - القاهرة

تليفون: ٢٥٨٨٥٥٨٥ - ٢٥٩٠٤٣٢٣ - ٢٢٢٥٨٨٨٨٨٦

www.alemte7anbooks.com

Email: info@alemte7anbooks.com

الخط الساخن ١٥٠١٤

/alemte7anbooks